EJERCICIOS DE ÁREAS Y PERÍMETROS

Calcula el área y perímetro de la siguiente figura:

ÁREA

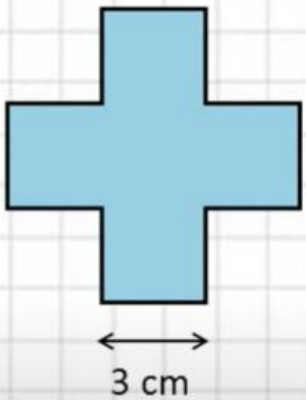

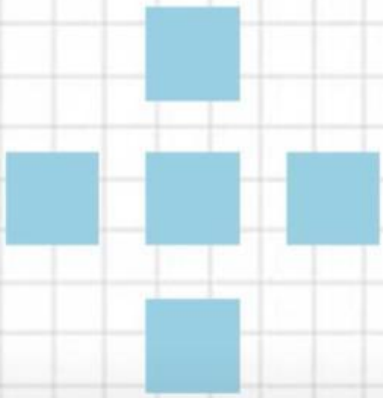

(todas las aristas miden lo mismo)

ÁREA DE UN CUADRADO

A= …….. • …….. = ……..

COMO HAY 5 IGUALES CALCULA EL ÁREA TOTAL (piensa qué operación se hace cuando repetimos muchas veces)

ÁREA TOTAL=…….. …. ……..

A= …….. cm^2

LIVEWORKSHEETS

AHORA VAMOS A CALCULAR EL PERÍMETRO

P= ……. ……

P= …….. cm

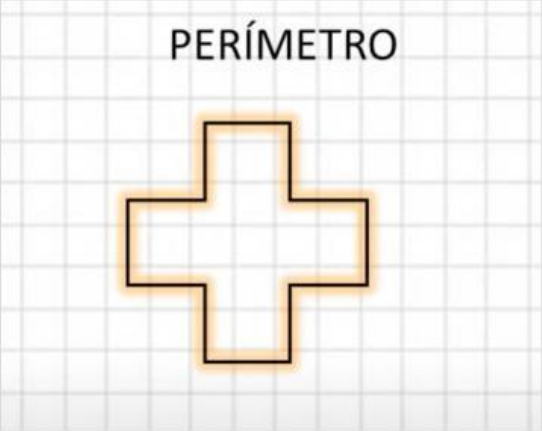

Calcula el área y perímetro de la siguiente figura:

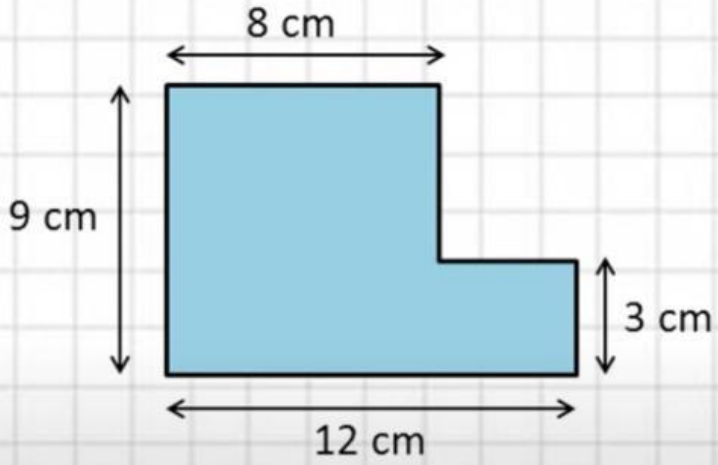

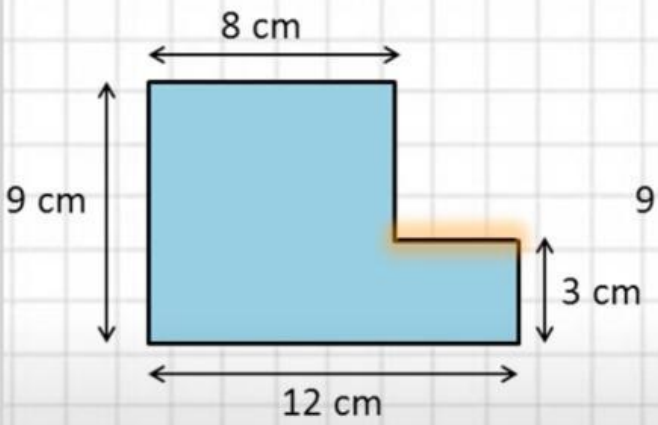

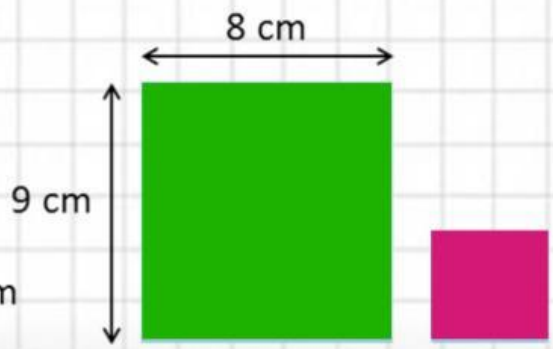

LIVEWORKSHEETS

SI LAS JUNTAS, OBTIENES LA FIGURA AZUL

CALCULA CUÁNTO MIDE EL LADO SOMBRAEDO DE NARANJA, LO VAS A NECESITAR PARA EL ÁREA DEL RECTÁNGULO

LADO SOMBREADO= …… - …… = ……..cm

AHORA PUEDES CALCULAR EL ÁREA DEL CUADRADO Y EL ÁREA DEL RECTÁNGULO

ESCRIBE LA FÓRMULA DEL ÁREA DEL CUADRADO

$A_{CUADRADO}$ = …… … ……..

SUSTITUYE LOS DATOS $A_{CUADRADO}$ = …… … ……..

$A_{CUADRADO}$ = …… cm^2

ESCRIBE LA FÓRMULA DEL ÁREA DEL RECTÁNGULO

$A_{RECTÁNGULO}$ = …… … ……..

SUSTITUYE LOS DATOS $A_{RECTÁNGULO}$ = …… … ……..

$A_{RECTÁNGULO}$ = …… cm^2

ÁREA TOTAL= …… + …… = ……. cm^2

LIVEWORKSHEETS

LIVEWORKSHEETS