Nama : Kelas :

PENJUMLAHAN

Pasangkan penjumlahan dengan hasil yang benar !

2+9 =	3+7 =	5+8 =	7+7 =
13	14	11	10
1+3 =	4+4 =	1+4 =	3+6
5	9	4	8
2+4	5+4	6+1 =	2+1 =
7	3	9	6

LIVEWORKSHEETS

LIVEWORKSHEETS

Nama: _____ Kelas: _____

PENJUMLAHAN

Selesaikan soal cerita berikut ini. Gunakan kotak-kotak di bawah untuk menghitung.

Contoh:

Raffi mempunyai 5 kelereng dan Andi mempunyai 2 kelereng. Jumlah kelereng mereka adalah ....

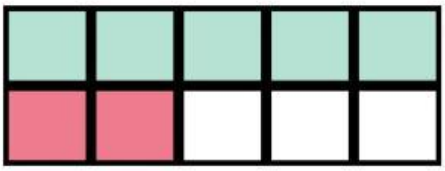

kalimat Matematika

5 + 2 = 7

Asna mempunyai 3 pensil biru dan 2 pensil merah. Jumlah pensil yang dimiliki oleh Asna adalah ....

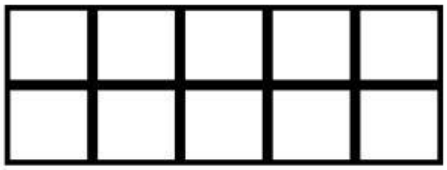

kalimat Matematika

___ + ___ = ___

Azka membeli 6 buah apel dan 3 buah jeruk. Jumlah buah yang dibeli oleh Azka adalah ....

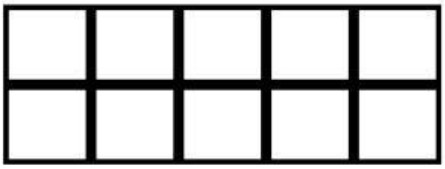

kalimat Matematika

___ + ___ = ___

LIVEWORKSHEETS

LIVEWORKSHEETS

Nama: _____ Kelas: _____

Nilai Tempat

Tuliskan angka bentuk standar berdasarkan angka bentuk diperluas

100 + 20 + 6=		800 + 10 + 3=	
200 + 10 + 7 =		700 + 30 + 7=	
400 + 80 + 1 =		500 + 20 + 8=	
900 + 30 + 2=		600 + 40 + 2=	
600 + 70 + 8=		700 + 50 + 9=	
500 + 50 + 5=		200 + 90 + 4=	
300 + 20 + 6=		600 + 80 + 5=	
700 + 60 + 9=		800 + 70 + 9=	
800 + 30 + 8=		600 + 50 + 5=	
300 + 90 + 1 =		300 + 70 + 4=	
500 + 40 + 6=		200 + 60 + 6=	
700 + 20 + 9=		100 + 80 + 7 =	

LIVEWORKSHEETS

LIVEWORKSHEETS

Nama: Kelas:

Ayo Berhitung

Pilihlah kalimat matematika yang tepat sesuai dengan soal ceritanya.

Andi dan Tono mempunyai masing-masing 23 kelereng dan 32 kelereng. Berapa jumlah kelereng mereka?

- ◯ 23 + 32 = 55
- ◯ 23 + 32 = 54
- ◯ 23 + 32 = 45

Jumlah pita Ani dan Putri adalah 25 buah. Jika pita Ani ada 14 maka berapa pita Putri?

- ◯ 25 + 14 = 39
- ◯ 25 – 14 = 14
- ◯ 25 – 14 = 11

Ikan yang dimiliki oleh Dina dan Dion masing-masing 6 ekor. Jika mereka membeli 1 ekor ikan maka berapa jumlah yang dimiliki mereka sekarang?

- ◯ 6 + 1 + 1 = 8
- ◯ 6 + 6 + 1 = 13
- ◯ 6 + 6 – 1 = 11

Nilai: ___/ 3

LIVEWORKSHEETS

LIVEWORKSHEETS

QUIZ QUESTIONS

Berilah tanda (X) silang pada huruf a,b,c atau d yang merupakan jawaban yang benar!

1 Hasil dari operasi hitung penjumlahan 356 + 232 yaitu ...

a) 488 b) 498
c) 588 d) 598

2 Hasil dari operasi hitung 405 - 88 yaitu ...

a) 427 b) 423
c) 413 d) 313

3 Operasi pengurangan di bawah ini yang hasilnya 248 yaitu ...

a) 554 - 216 b) 347 - 109
c) 435 - 187 d) 619 - 471

4 Hasil dari operasi hitung 415 - 227 + 356 yaitu ...

a) 568 b) 554
c) 544 d) 534

5 Selisih dari bilangan 485 dengan bilangan 700 yaitu ...

a) 385 b) 325
c) 315 d) 215

LIVEWORKSHEETS

LIVEWORKSHEETS