لكل فقرة مما يلي ٤ إجابات، واحدة منها فقط صحيحة، اختاري الإجابة الصحيحة:

الوحدة المناسبة لقياس المسافة من شمال المملكة إلى جنوبها =.....:

أ	كلم	ب	م	ج	سم	د	ملم

محيط الشكل المجاور =.....:

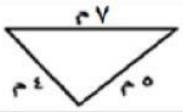

أ	١٦ م	ب	١٤ م	ج	٨ م	د	٢٠ م

التقدير الأنسب لسعة كوب عصير =.....:

أ	٥٠ ل	ب	١ مل	ج	١ ل	د	٢٠٠ مل

التقدير الأنسب لمساحة الشكل المجاور =.....:

أ	٧ وحدات مربعة	ب	٣ وحدات مربعة	ج	٨ وحدات مربعة	د	١٢ وحدات مربعة

التقدير الأنسب لكتلة حبة موز =.....:

أ	٢٠٠ جم	ب	٢٠ جم	ج	٢٠٠ كجم	د	٢٠ كجم

طول الفترة الزمنية من الساعة ٥:٠٠ مساءً وحتى الساعة ٧:٥٠ مساءً =.....:

أ	ساعة واحدة	ب	ساعة و١٥ دقيقة	ج	ساعة و٣٠ دقيقة	د	ساعتان

الكسر الذي يمثل الجزء المظلل في الشكل المجاور =.....:

أ	$\frac{٣}{٦}$	ب	$\frac{٤}{٦}$	ج	$\frac{٥}{٦}$	د	$\frac{١}{٦}$

الكسر الذي يمثل النقطة د على خط الأعداد المجاور =.....:

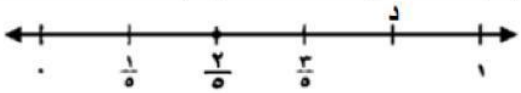

أ	$\frac{٤}{٥}$	ب	$\frac{٢}{٥}$	ج	$\frac{٣}{٥}$	د	$\frac{١}{٥}$

الكسر المكافئ للكسر $\frac{١}{٤}$ = ...:

أ	$\frac{٤}{١٦}$	ب	$\frac{٣}{٦}$	ج	$\frac{٤}{٦}$	د	$\frac{٢}{٥}$

ناتج جمع $\frac{٢}{٦} + \frac{٢}{٦}$ =.....:

أ	$\frac{٥}{١٢}$	ب	$\frac{٥}{٦}$	ج	$\frac{١}{٦}$	د	$\frac{٤}{٦}$

كان مع نوره ١٠ بطاقات ملونة، أعطت أختها ٧ منها الكسر الذي يمثل ما تبقى معها من البطاقات =.....:

أ	$\frac{١}{١٠}$	ب	$\frac{٣}{١٠}$	ج	$\frac{٧}{١٠}$	د	$\frac{٥}{١٠}$

الكسر العشري للكسر الاعتيادي $\frac{٩}{١٠٠}$ =.....:

أ	٠,٠٩	ب	٠,٠٠٩	ج	٩	د	٠,٩

الكسر الاعتيادي للكسر العشري ٠,٠٤ =.....:

أ	$\frac{١}{٤}$	ب	$\frac{٤}{١٠٠}$	ج	$\frac{٤}{١٠}$	د	٤

أكلت وفاء ستة أعشار رغيف الخبز. الكسر العشري الذي يمثل ما أكلته وفاء =.....:

أ	٠,٠٦	ب	٠,٦	ج	٠,٠٠٦	د	٦

الكسر العشري للكسر الاعتيادي $\frac{٦٥}{١٠٠}$ =.....:

أ	٠,٦٥	ب	٥٦	ج	٠,٥٦	د	٥,٦

LIVEWORKSHEETS

الكسر الاعتيادي للكسر العشري ٠,٥ =.....:

أ	٥	ب	$\frac{٥}{١٠}$	ج	$\frac{١}{٥}$	د	$\frac{٥}{١٠٠}$

الكسر العشري الذي يمثل النقطة ن على خط الأعداد =.....:

أ	٥,٢٥	ب	٥,٥	ج	٥,٧٥	د	٥

يوفر استعمال مرشد دش الاستحمام ٧,٠٨ لترًا من المياه في الدقيقة، كمية التوفير على صورة عدد كسري =.....:

أ	٧ $\frac{٨}{١٠٠}$	ب	٧ $\frac{٨}{١٠}$	ج	٧٨	د	٧ $\frac{١}{٨}$

الكسر العشري للعدد الكسري ٣ $\frac{٧}{١٠}$ =.....:

أ	٧,٣	ب	٣,٧	ج	٧,٠٣	د	٣,٠٧

الكسر العشري للكسر الاعتيادي $\frac{٣}{٤}$ =.....:

أ	٠,٤٣	ب	٠,٥	ج	٠,٢٥	د	٠,٧٥

تقريب العدد ٦٥,٣ إلى أقرب عدد صحيح =.....:

أ	٦٤	ب	٦٣	ج	٦٠	د	٦٥

تقريب العدد ٢٦,١٦ إلى أقرب عُشر =.....:

أ	٢٧,١	ب	٢٦,١	ج	٢٦,٢	د	٢٦

اشترت حصة برتقالًا ثمنه ١٩,٧ ريالًا. ثمن البرتقال تقريبًا =.....:

أ	٢١ ريال تقريبًا	ب	٢٣ ريال تقريبًا	ج	٢٤ ريال تقريبًا	د	٢٠ ريال تقريبًا

العدد في الفراغ: ٩,٧ + ☐ , ٨ = ١٨,٦

أ	٣	ب	١	ج	٩	د	٨

الكسر الأقرب إلى ٤ =.....:

أ	٩,٩	ب	٤,١٠	ج	١٠,٩	د	١,٩

الكسر العشري الذي يمثل الجزء المظلل =.....:



أ	٠,٢٥	ب	٠,٥	ج	٠,٧٥	د	٠,٦

تقدير ناتج: ٦,٨٩ ـ ٣,١ =.....:

أ	٢	ب	٣	ج	١	د	٤

فتحت سمية ٨ علب صلصال. إذا كان في كل علبة ٤ قطع من الصلصال الرمادي، ونصف هذا العدد من قطع الصلصال الأحمر، فإن عدد قطع الصلصال الأحمر والرمادي في العلب الثمانية =.....:

أ	١٨قطعة	ب	٣٢ قطعة	ج	١٦ قطعة	د	٤٨ قطعة

تقدير ناتج: ٨,٧٥ + ٣,٢٥ =.....:

أ	٥	ب	١٢	ج	٣	د	٦

قسم عدد ما على ٣ ،ثم أضيف إلى الناتج ٢٥، ثم ضرب المجموع في ٤ ،فكانت النتيجة ١١٦ فما العدد=.....:

أ	٤	ب	١٢	ج	٦	د	٢٨

LIVEWORKSHEETS

أوجدي ما يلي:

أ) قارني باستعمال (<، >، =):

١,٧٥ ◯ ١ ٣/٤ ‏ ‏ ‏ ٣,٢ ◯ ٣ ٢/١٠٠ ‏ ‏ ‏ ١,٢٥ ◯ ١ ١/٤

ب) رتبي الأعداد من الأكبر إلى الأصغر:

٣/٤ ، ٢,٢٥ ، ٢ ٣/٤ ، ١,٧٥

..... ، ..... ، ..... ، .....

ج) أوجدي الناتج:

١) ٧,٠٩
+ ٤,٦٨

٢) ٦,٨٤
− ٣,٥٦

LIVEWORKSHEETS