LOODUSÕPETUS: ILM ja ilma tunnused 2.klassi tööraamatu põhjal (Marge Loks, Üllar Loks) koostas: J. Otti

1. **ILMA TUNNUSED**

Leia neli põhitunnust *(основные признаки):*

SADEMED **LUMI** **ÕHUTEMPERATUUR** **SOOJUS**

TERMOMEETER **TUUL** **PILVISUS** **KUU**

2. **ÕHUTEMPERATUUR**

Õhutemperatuuri mõõdetakse _____ (joonlauaga / mõõtlindiga / termomeetriga)

3. **ÜHENDA** *(соедини)* **NIMETUS ÕIGE TERMOMEETRIGA**



ÕUETERMOMEETER
уличный термометр

ELEKTROONILINE TERMOMEETER
электрический термометр

KEHATERMOMEETER
термометр для тела

SAUNATERMOMEETER
банный термометр

TOATERMOMEETER
комнатный термометр

4. **MIS ON INIMESE NORMAALNE KEHATEMPERATUUR?** _____

5. **MILLES MÕÕDETAKSE TEMPERATUURI?** _____

LIVEWORKSHEETS

6. TÄIDA LAHTRID. MÄÄRA TERMOMEETRI TEMPERATUUR _____

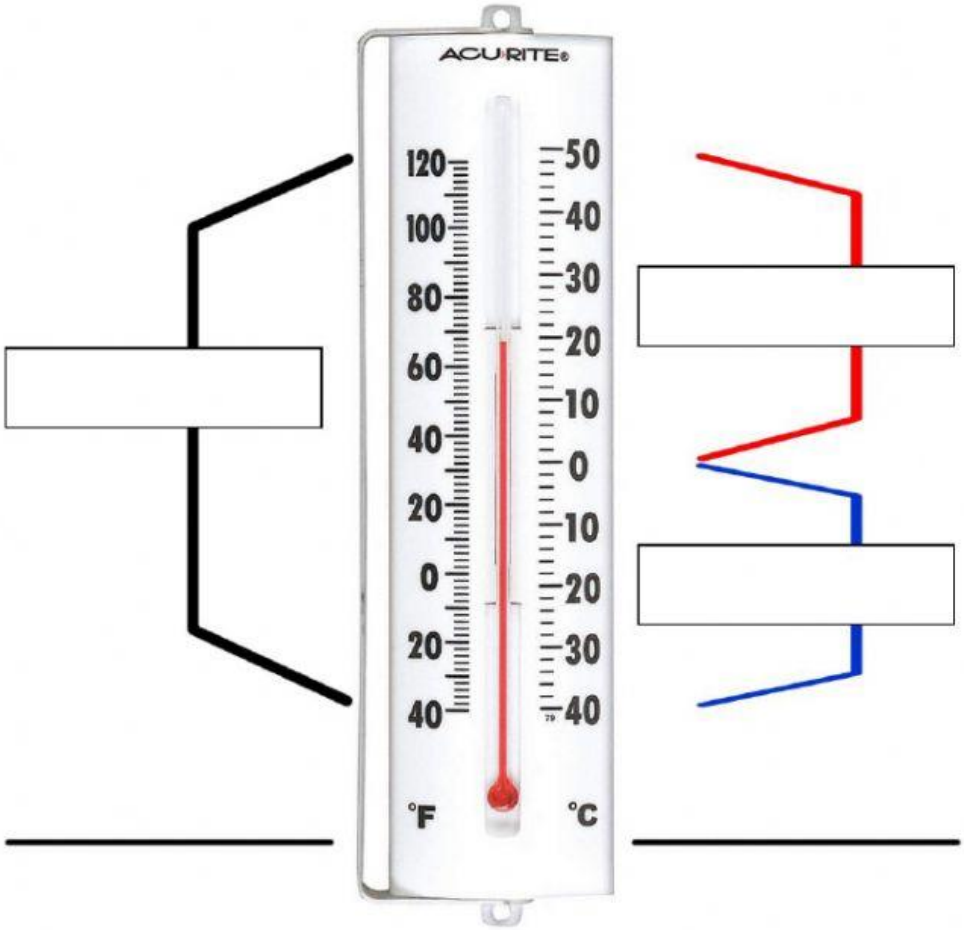

Skaala / soe, plusskraadid / kraad / külm, miinuskraadid / Fahrenheiti skaala / Celsiuse skaala

Meie mõõdame temperatuuri _____ skaala järgi.

7. KIRJUTA IGA TERMOMEETRI ALLA SELLE NÄIT *(показание)*



___ kraadi ___ kraadi ___ kraadi ___ kraadi ___ kraadi

LIVEWORKSHEETS