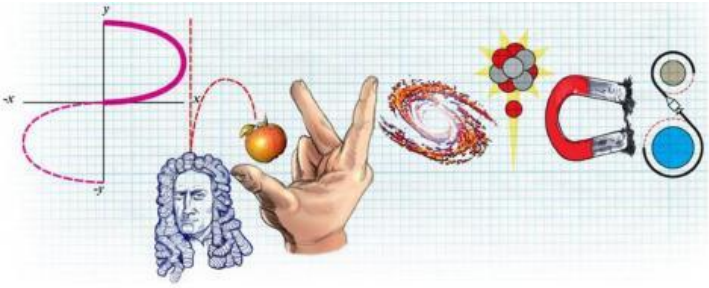

“Шингэний нягтыг тооцоолох”

хичээлийн дасгал

1. Зургийг ажиглан нягтыг зөв харгалзуулаарай.

Нягт их

Нягт дундаж

Нягт бага

2. Зургийг ажиглан тосны нягтыг зөв сонгоорой.

Усны нягт=1гр/см^3

A. 1гр/см^3

B. 1.1гр/см^3

C. 0.97 гр/см^3

D. 3.2гр/см^3

LIVEWORKSHEETS

3. Зургийг ажиглан шингэний нягтыг тооцоолоорой.

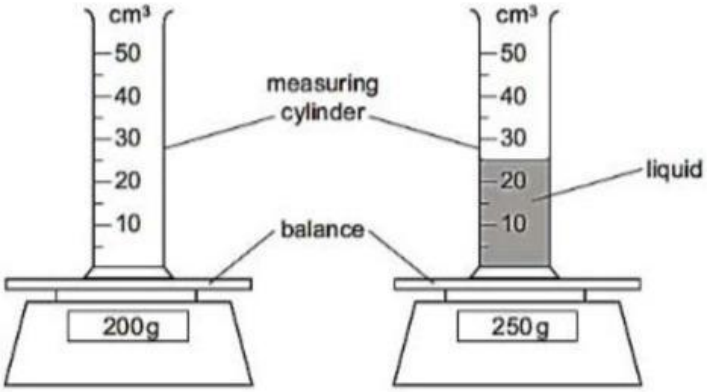

A. 0.5гр/см^3
B. 2гр/см^3
C. 8гр/см^3
D. 10гр/см^3

4. Хүснэгтийг ашиглан шингэнүүдийн нягтыг тооцоолж тэмдэглээрэй.

Шингэн	Масс(гр)	Эзлэхүүн(мл)	Нягт(гр/мл)
Ус	15	15	
Шингэн угаалгын нунтаг	17	15	
Спирт	11	15	
Ургамлын тос	14	15	

5. Дээрх хүснэгтийг ашиглан шингэний нягтыг тохирох үсгэнд зөв харгалзуулаарай.

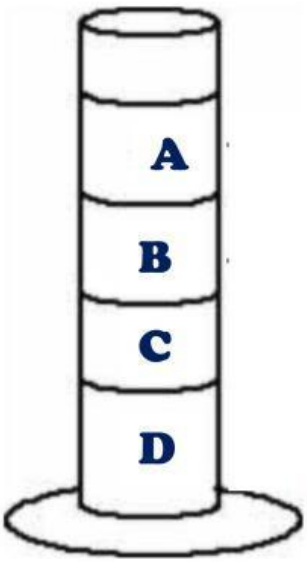

Ус

Шингэн угаалгын нунтаг

Спирт

Ургамлын тос

LIVEWORKSHEETS