nama
kelompok :
kelas :

kelompok 4 (x.5)

prinsip kimia hijau

pasangkan simbol dan psangkan lah
selesaikan lah soal pada sol soal berikut

soal 1

molekul	neutron /proton
atom	unsur molekul

[ ] adalah bagian terkecil dari senyawa yang tersusun dari gabungan dua atau lebih dari atom

[ ] adalah bagian terkecil yang terdiri dari inti atom serta elektron yang melindungi inti atom yaitu neutron & proton

[ ] adalah salah satu jenis molekul yang berdasarkan unsur pembentukannya tersusun dari atojm/unsur yang sama/satu jenis

LIVEWORKSHEETS

soal 2

pasangkan yang termasuk isoton pada berikut?

^{3}H 1	^{16}C 1
^{16}O 8	^{4}He 2
^{12}C 6	^{13}C 6

berikut yang termasuk isobar pada soal berikut

^{3}H 1	^{16}C 1
^{16}O 8	^{4}He 2
^{12}C 6	^{13}C 6

tentukan yang manakah yang isotop

^{3}H 1	^{16}C 1
^{16}O 8	^{4}He 2
^{12}C 6	^{13}C 6

LIVEWORKSHEETS

SOAL 3

SALAH SATU JENIS MOLEKUL YANG BERDASARKAN UNSUR PEMBENTUKAN NYA TERSUSUN DARI ATOM-ATOM ATAU UNSUR YANG SAMA ATAU SEJENIS ADALAH.....

___ ___ ___ ___ ___

___ ___ ___ ___ ___ ___ ___

AT0M BERASAL DARI BAHASA YUNANI YAITU ATOMOL YANG ARTINYA?

___ ___ ___ ___ ___ ___ ___ ___ ___

___ ___ ___ ___ ___ ___

APA NAMA UNSUR PADA GAMBAR DI BAWAH INI

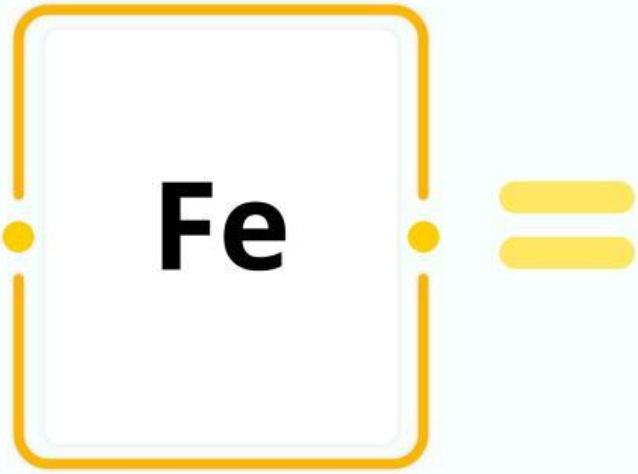

___ ___ ___ ___

LIVEWORKSHEETS

SOAL 4

susunlah huruf acak menjadi kata yang benar

1

I	K	H	I	J	M	U	I	A	A

⇩

2

A	A	N	Y	O	N	I	E	W	S

⇩

L	U	R	K	U	L	N	M	S	E	U	O

⇩

LIVEWORKSHEETS

SOAL 5

isilah titik-titik pada tabel tersebut

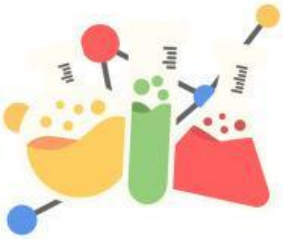

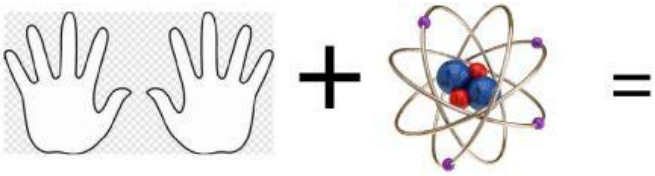

_ _ _ _ _ _ _ _ _ _ _ _

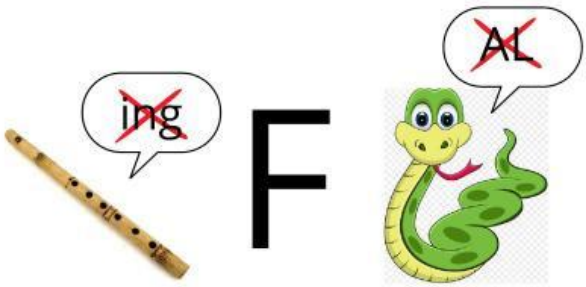

=

_ _ _ _ _ _

=

_ _ _ _ _ _ _ _ _ _

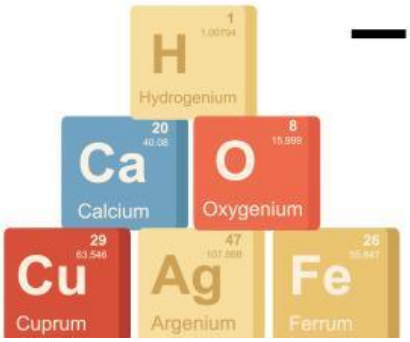

keluar selesai

LIVEWORKSHEETS