LAS FRACCIONES

ES UNA PARTE O PORCIÓN DE UN TODO Y SE PUEDE REPRESENTAR DE DISTINTAS FORMAS GRAFICAMENTE. ES DECIR, DIVIDIMOS LA UNIDAD EN PARTES IGUALES Y TOMAMOS ALGUNAS DE ELLAS.

ELEMENTOS DE UNA FRACCIÓN:

$$\frac{1}{4}$$

numerador

raya de fracción

denominador

LECTURA DE FRACCIONES:

LECTURA DE FRACCIONES			
2	Medios	**15**	Quinceavos
3	Tercios	**16**	Dieciseisavos
4	Cuartos	**17**	Diecisieteavos
5	Quintos	**18**	Dieciochoavos
6	Sextos	**19**	Diecinueveavos
7	Séptimos	**20**	Veinteavos
8	Octavos	**30**	Treintavos
9	Novenos	**40**	Cuarentavos
10	Décimos	**50**	Cincuentavos
11	Onceavos	**60**	Sesentavos
12	Doceavos	**70**	Setentavos
13	Treceavos	**80**	Ochentavos
14	Catorceavos	**90**	Noventavos
		100	Centésimas

Para leer las fracciones, se lee primero el numerador y después el denominador. Por ejemplo:



$= \frac{4}{12}$ cuatro doceavos

SUMA DE FRACCIONES HOMOGENEAS:

En el caso de la suma de fracciones homogéneas se suman los numeradores y se mantiene el mismo denominador.

$$\frac{3}{5} + \frac{1}{5} = \frac{3+1}{5} = \frac{4}{5}$$

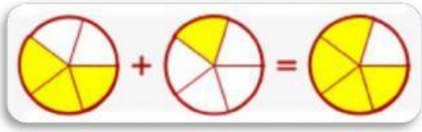

LIVEWORKSHEETS

LIVEWORKSHEETS

OBSERVA CON ATENCIÓN EL SIGUIENTE VIDEO:

ESCRIBE LA FRACCIÓN REPRESENTADA EN CADA CASO

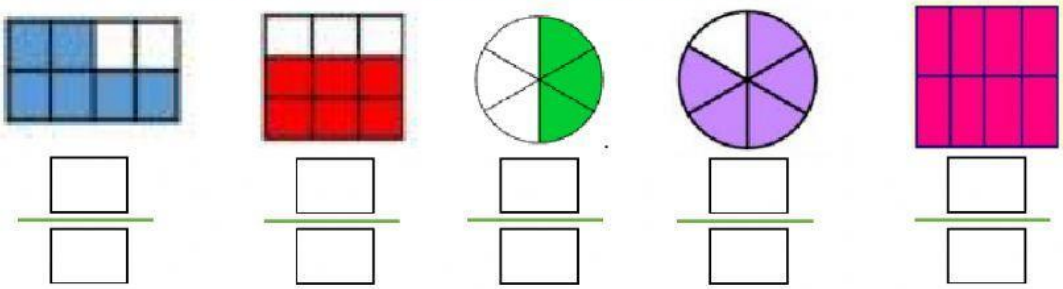

UNE LA FRACCIÓN CON SU ESCRITURA CORRESPONDIENTE

43 / 50	TRES VEINTIUNAVOS
3 / 21	ONCE QUINCEAVOS
18 / 25	CATORCE TREINTAVOS
11 / 15	CUARENTA Y TRES CINCUENTAVOS
14 / 30	DIECIOCHO VEINTICINCOAVOS

LIVEWORKSHEETS

LIVEWORKSHEETS

RESUELVE LOS SIGUIENTES EJERCICIOS DE ADICIÓN

$$\frac{3}{6} + \frac{2}{6} = \frac{\square + \square}{6} = \frac{\square}{\square}$$

$$\frac{7}{10} + \frac{6}{10} = \frac{\square + \square}{\square} = \frac{\square}{\square}$$

$$\frac{9}{12} + \frac{5}{12} = \frac{\square + \square}{\square} = \frac{\square}{\square}$$

$$\frac{4}{8} + \frac{3}{8} = \frac{\square + \square}{\square} = \frac{\square}{\square}$$

LIVEWORKSHEETS

LIVEWORKSHEETS