LEMBAR KERJA PESERTA DIDIK

Penyajian Data
Pertemuan 2

Nama	
No. Absen	
Kelas	

Perhatikan petunuk mengerjakan Lembar Kerja Berikut ini:

1. Tuliskan identitas sesuai dengan tempat yang telah disediakan.
2. Pastikan koneksi internet dalam keadaan baik
3. Kerjakan permasalahan sesuai intruksi soal
4. Pastikan jawaban sudah terisi semua
5. Cek kembali jawaban jika telah selesai
6. Klik Selesai jika sudah yakin dengan jawaban
7. Screenshoot bukti jawaban sebagai bukti telah mengerjakan dan tunjukkan kepada guru

LIVEWORKSHEETS

$$M = \left(\frac{x_1 + x_2}{2} , \frac{y_1 + y_2}{2} \right)$$

A. Pilihlah Diagram Batang yang benar dari Data berikut:

80 85 75 65 70 75 75 80 70 85
75 75 65 70 80 75 85 70 75 80

A

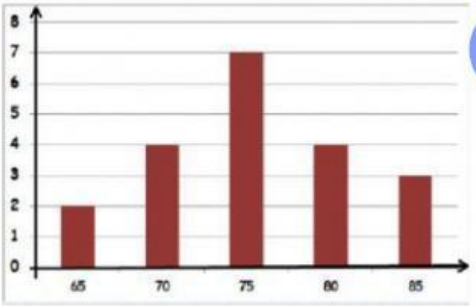

B

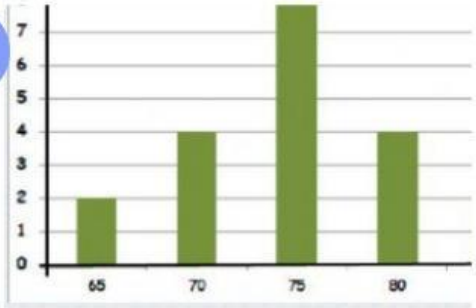

C

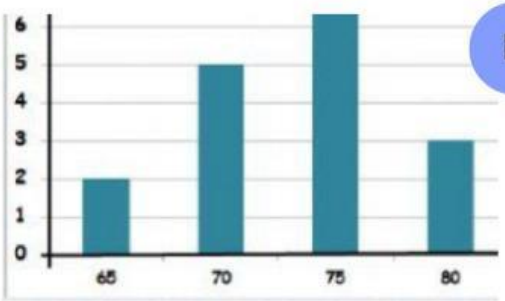

D

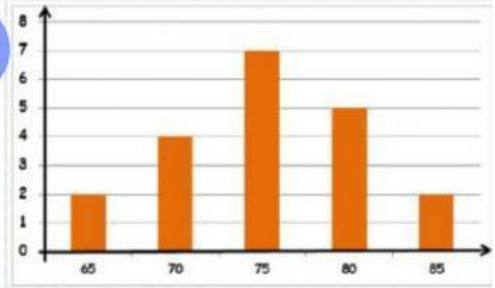

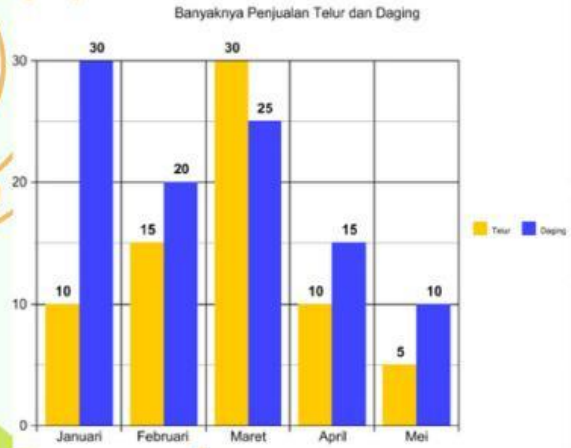

B. Kenaikan penjualan telur tertinggi terjadi pada bulan?

A. Januari-Februari

B. Februari-Maret

C. Maret-April

D. April-Mei

$$x = \frac{-b \pm \sqrt{b^2 - 4ac}}{2a}$$

LIVEWORKSHEETS

$$M = \left(\frac{x_1 + x_2}{2} , \frac{y_1 + y_2}{2} \right)$$

C. Tabel di bawah ini memperlihatkan data jumlah penerimaa siswa per tahun ajaran di SMP X Pada tahun 2019. Buatlah Diagram garis dari data berikut:

Tahun Ajaran	Jumlah Siswa Baru
2010/2011	144
2011/2012	180
2012/2013	252
2013/2014	216
2014/2015	288

A

B

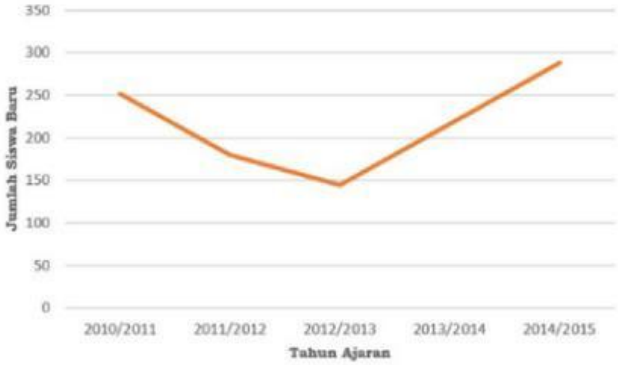

C

D

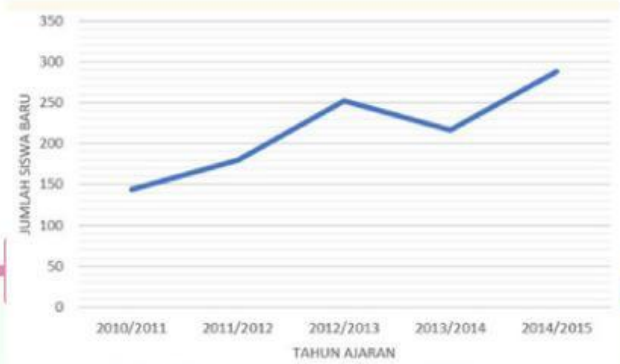

$$x = \frac{\quad}{2a}$$

LIVEWORKSHEETS

$$M = \left(\frac{x_1 + x_2}{2}, \frac{y_1 + y_2}{2}\right)$$

D. Tabel di bawah ini memperlihatkan data kegiatan ekstrakulikuler di SMP Y pada tahun 2020. Buatlah dalam bentuk diagram lingkaran dari data tersebut

Kegiatan Ekstrakurikuler	Jumlah Siswa
Paskibraka	75
OSIS	40
Pramuka	60
PMR	50
KIR	25

A

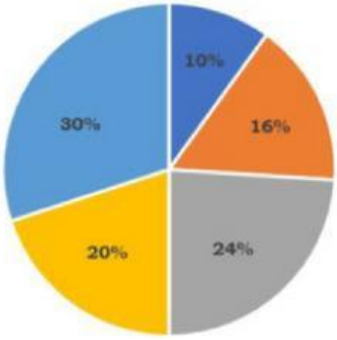

Paskibraka OSIS Pramuka PMR KIR

B

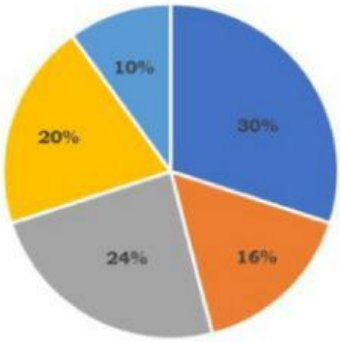

Paskibraka OSIS Pramuka PMR KIR

C

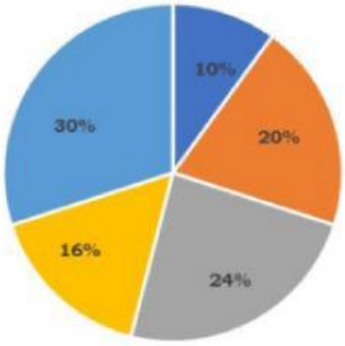

Paskibraka OSIS Pramuka PMR KIR

D

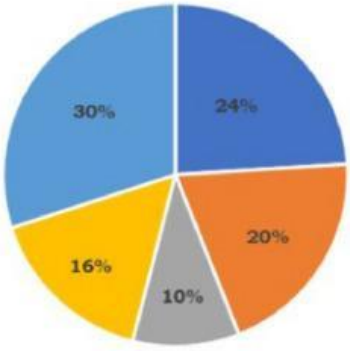

Paskibraka OSIS Pramuka PMR KIR

$$x = \frac{-b \pm \sqrt{b^2 - 4ac}}{2a}$$

LIVEWORKSHEETS

$$M = \left(\frac{x_1 + x_2}{2} , \frac{y_1 + y_2}{2} \right)$$

E. Urutkan langkah-langkah dalam menyusun diagram lingkaran dengan baik dan benar!

Menghitung besar sudut masing-masing juring lingkaran	LANGKAH PERTAMA
Hitung nilai total/keseluruhan data dengan menjumlahkan semua frekuensi data tersebut	LANGKAH KEDUA
Membuat lingkaran, kemudian membagi beberapa juring sesuai dengan masing-masing nilai yang telah ditentukan berdasarkan data	LANGKAH KETIGA
Menghitung presentase masing-masing juring lingkaran	LANGKAH KEEMPAT

$$x = \frac{-b \pm \sqrt{b^2 - 4ac}}{2a}$$

LIVEWORKSHEETS