Frações

1 – Ordena cada conjunto por ordem crescente do valor das suas frações.

2 – Seleciona a imagem em que $\frac{1}{4}$ da figura está pintada.



3 – Seleciona a imagem em que $\frac{3}{4}$ da figura está pintada de azul.

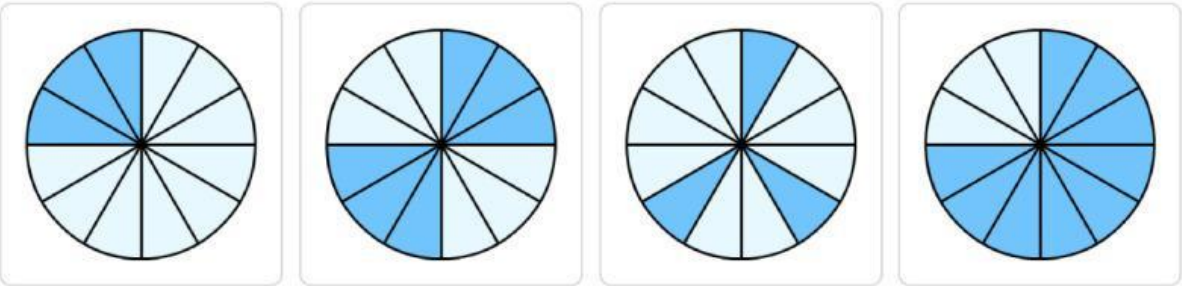

LIVEWORKSHEETS

4 - Coloca as frações listadas nos locais corretos da reta numérica.

$\frac{7}{4}$ $\frac{25}{10}$ $\frac{3}{2}$

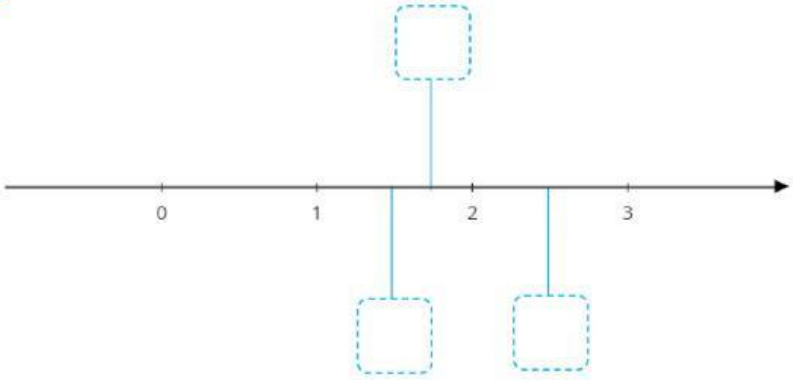

5 - Calcula o valor das expressões numéricas seguintes.

$\frac{5}{8} + \frac{2}{8} = \frac{\square}{\square}$ $\frac{5}{8} - \frac{2}{8} = \frac{\square}{\square}$ $\frac{1}{8} + \frac{9}{8} = \frac{\square}{\square}$

$\frac{7}{6} + \frac{5}{6} = \frac{\square}{\square}$ $\frac{9}{6} - \frac{3}{6} = \frac{\square}{\square}$ $\frac{8}{12} - \frac{7}{12} = \frac{\square}{\square}$

6 - $\frac{4}{5}$ de um conjunto de 20 mesas, são:

- 80 mesas
- 4 mesas
- 16 mesas
- 8 mesas

LIVEWORKSHEETS