1 Utiliza el **Recortable 2** y ordena los números.

¿Dónde pongo esta tarjeta?

75

0	1	2	3	4	5	6	7	8	9
10	11	12	13	14	15	16	17	18	19
20	21	22	23	24	25	26	27	28	29
30	31	32	33	34	35	36	37	38	39
40									
50									59
	61				65				
70									
	81								89
90						96		98	
100									

Página 155

2 Completa cada secuencia con el número que corresponde.

A.

94	95	96		98	

B.

77		79		81	82

3 Responde.

A. 3 más que 97 es igual a _____.

B. 10 menos que 100 es igual a _____.

LIVEWORKSHEETS

Números mayores que 100

1 ¿Cuántos lápices hay?

100 y 12 son 112.

112 se lee: ciento doce.

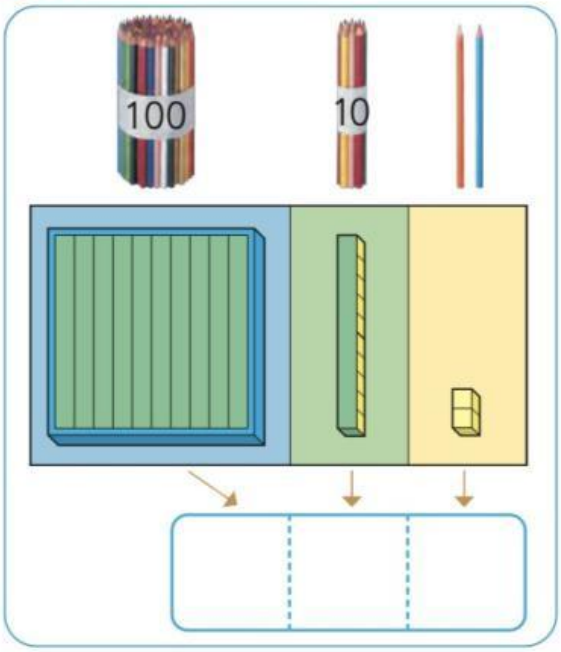

2 ¿Cuántos hay?

A.

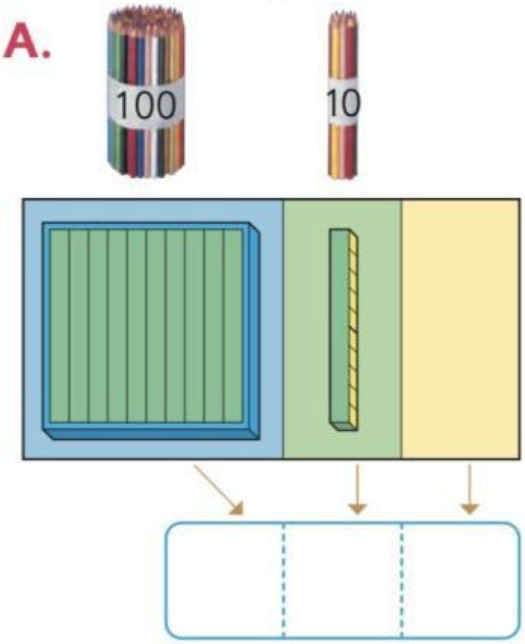

B.

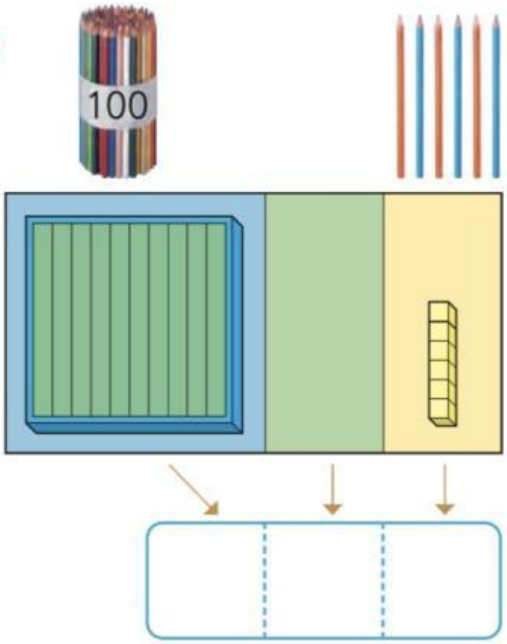

3 Lee los números.

100	101	102	103	104	105	106	107	108	109
110	111	112	113	114	115	116	117	118	119
120									

LIVEWORKSHEETS

Sumar

1 Carola recortó 20 estrellas y Ana 30.

¿Cuántas recortaron en total?

Suma la cantidad de decenas.

A. Escribe una expresión matemática.

☐ ○ ☐

B. Pensemos cómo encontrar la respuesta.

Decenas	Unidades
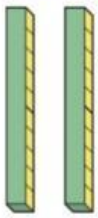	
	

Cuenta los grupos de 10.

Respuesta: ☐ estrellas.

Ejercita

Suma.

A. 40 + 30 = ☐

B. 20 + 10 = ☐

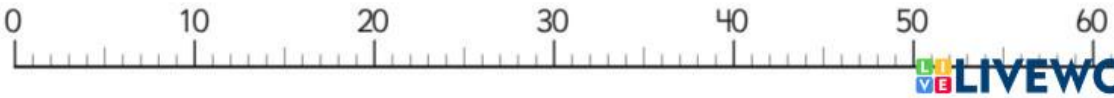

LIVEWORKSHEETS

2 Emilio tiene 23 lápices.

Su hermana mayor le dio 6 más.

¿Cuántos lápices tiene?

A. Escribe una expresión matemática.

[ ] ○ [ ]

B. Pensemos cómo encontrar la respuesta.

Decenas	Unidades
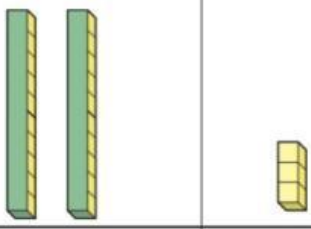	
	

Suma la cantidad de decenas y de unidades.

Respuesta: [ ] lápices.

Ejercita

Suma.

A. 42 + 1 = [ ]

B. 25 + 4 = [ ]



LIVEWORKSHEETS

Practica

1 Manuel tiene 50 hojas de papel lustre y Matilde 40. ¿Cuántos papeles tienen en total?

A. ☐ ○ ☐

B. Piensa cómo encontrar la respuesta.

Decenas	Unidades
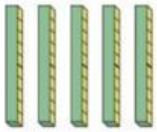	
	

Junta los grupos de 10.

Hay ☐ hojas de papel lustre en total.

2 Suma.

A. 60 + 20 = ☐

B. 80 + 20 = ☐

3 Tengo 34 pegatinas. Mi hermana me dio 3 más. ¿Cuántas tengo en total?

A. ☐ ○ ☐

B. Piensa cómo encontrar la respuesta.

Decenas	Unidades
	

Hay ☐ decenas y ☐ unidades.

Tengo ☐ pegatinas en total.

4 Suma.

A. 71 + 4 = ☐

B. 5 + 23 = ☐

LIVEWORKSHEETS