INSTITUTO ANTONIO NARIÑO

FORMACIÓN INTEGRAL CON EXCELENCIA ACADÉMICA

TALLER EN CLASE

ÁREA DE: MATEMÁTICAS
ASIGNATURA: MATEMÁTICAS
GRADO 1°____ PERIODO 1

V4

ESTUDIANTE:		**FECHA:**	
INDICADOR 3.1: Emplear las relaciones de orientación en las secuencias numéricas.		**CRITERIOS:** Interpretación de conceptos, aplicaciòn de algoritmos, verificación de resultados, analisis e interpretación de situaciones.	**ESCALA COLEGIO NARIÑO**
			94-100 SUP
			85-94 ALT
REFERENTES DE CONTENIDO: Orden de los números.			70-84 BSC
			10-69 BJO
REVISADO POR:	**DOCENTE: GISELL TORRES**	**JEFE DE AREA: Yeison Heredia Sarmiento**	
FIRMA ACUDIENTE:		**NOTA:**	

1. Ordena los números en los círculos según corresponda.

Menor a mayor

14 67 3 78 34 89 4 55

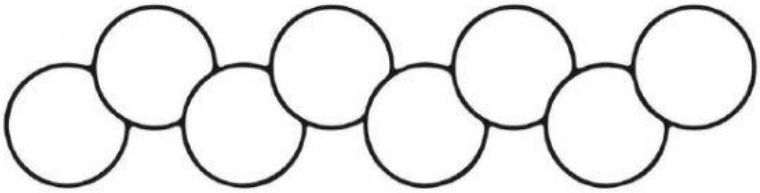

Mayor a menor

22 34 9 99 45 78 1 34

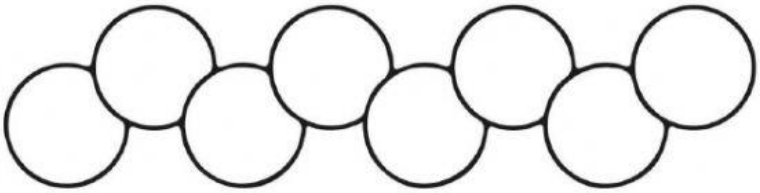

Menor a mayor

11 46 89 5 79 41 36 7

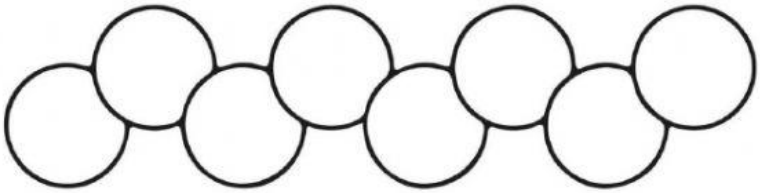

LIVEWORKSHEETS

2. Completa cada secuencia y responde las preguntas.

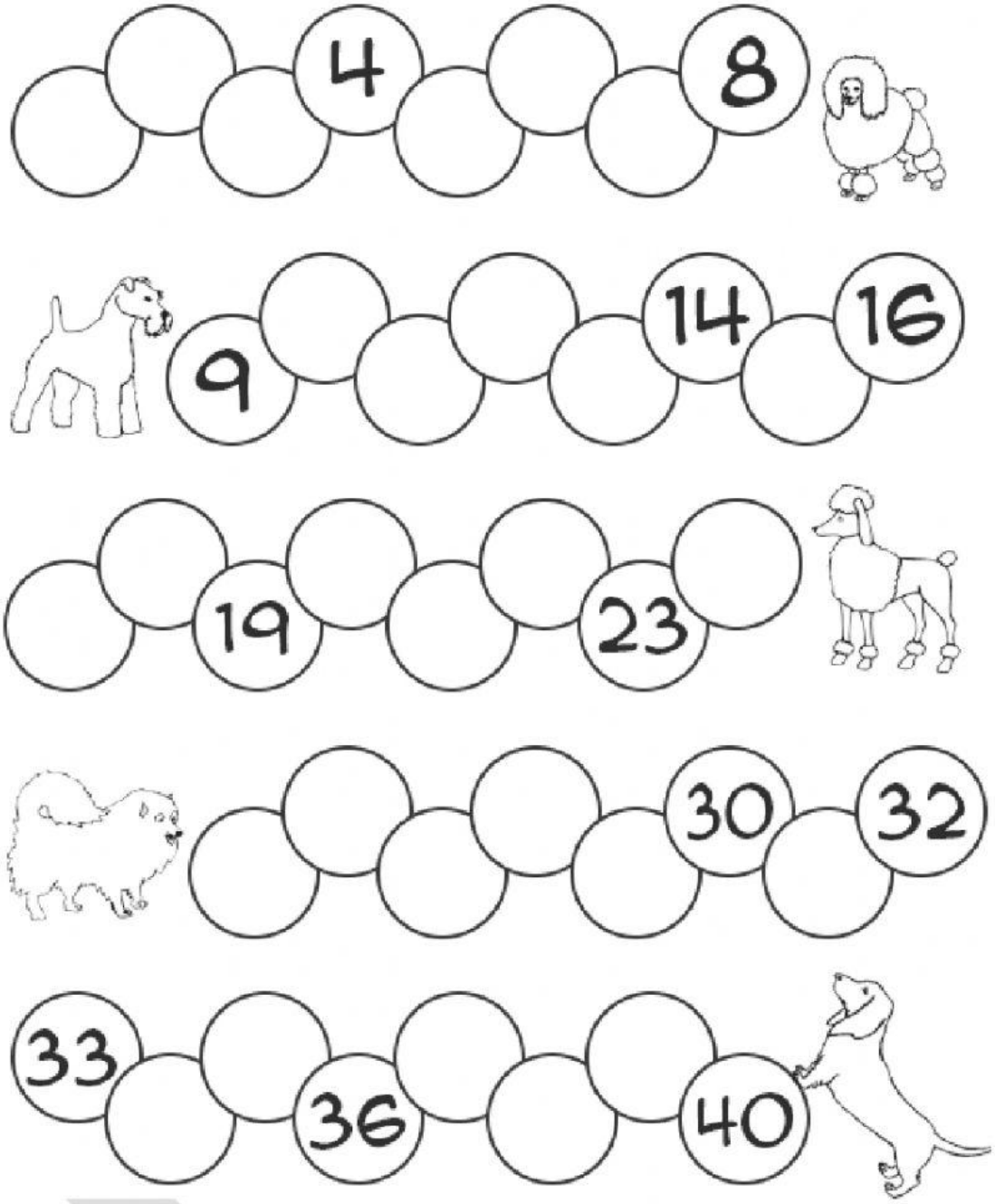

- ✓ **¿Cuál número va antes del 15?** _____
- ✓ **¿Cuál número va después del 22?** _____
- ✓ **¿Cuál número está entre el 7 y el 9?** _____
- ✓ **Comparando el 36 y 38 ¿Cuál número es mayor?** _____

LIVEWORKSHEETS

3. Escribe el número que va antes y después según corresponda.



LIVEWORKSHEETS

4. Compara los números y escribe <,> o =, según corresponda.

89 ◯ 98	25 ◯ 75
85 ◯ 42	15 ◯ 45
45 ◯ 12	70 ◯ 69
87 ◯ 99	12 ◯ 18
28 ◯ 28	38 ◯ 76
99 ◯ 1	21 ◯ 12

5. Completa las oraciones con las palabras que corresponda **(mayor que, igual que o menor que)**

- ✓ **El 14 es _____ el 28.**
- ✓ **El 20 es _____el 15.**
- ✓ **El 35 es _____el 32.**
- ✓ **El 56 es _____el 90.**
- ✓ **El 85 es _____el 85.**
- ✓ **El 48 es _____ el 25.**
- ✓ **El 37 es _____el 37.**

LIVEWORKSHEETS

6. Escribe números que cumplan cada condición.

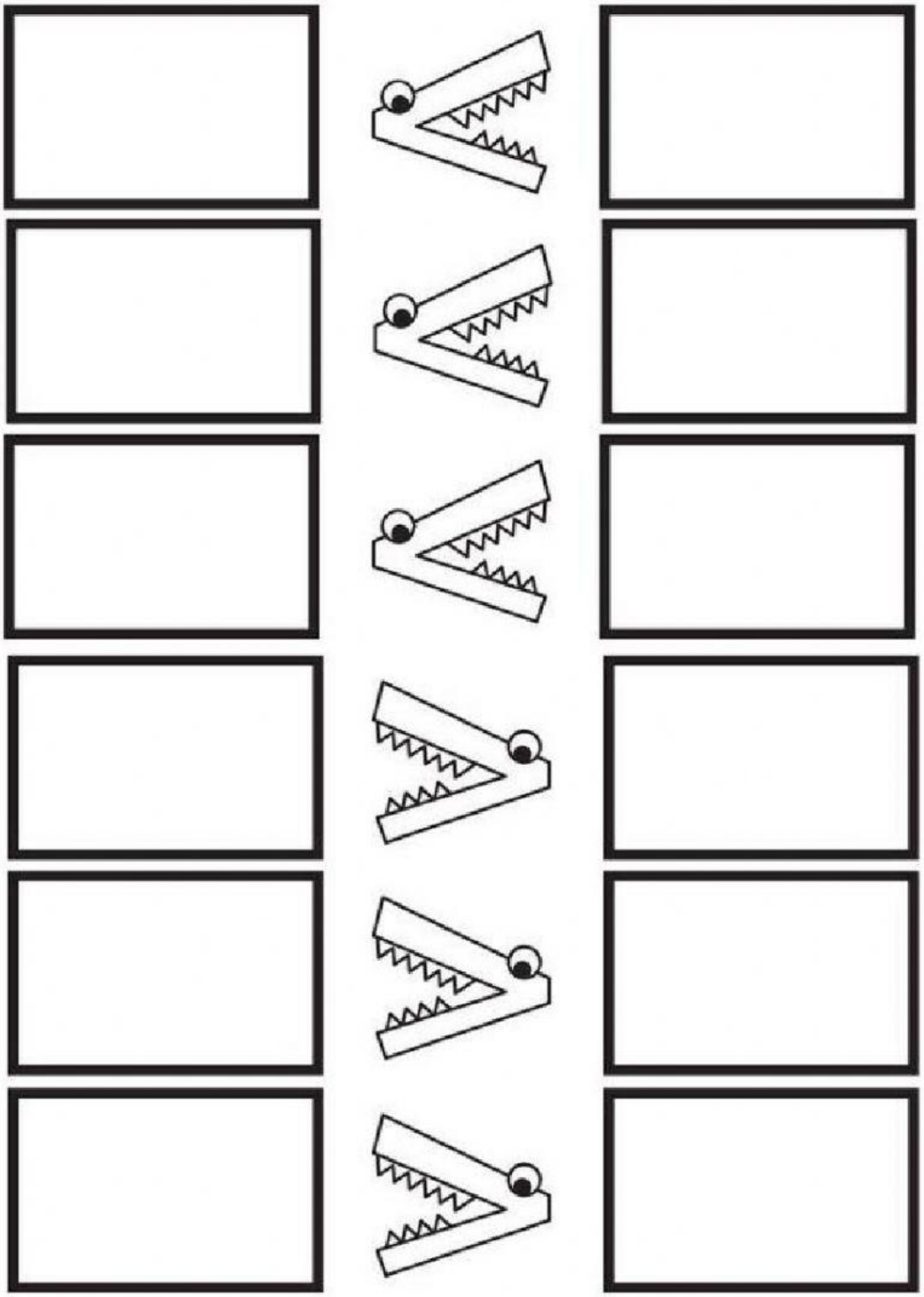

LIVEWORKSHEETS