# ورقة عمل (اختبر نفسك)

**الفصل الثالث :** **(٣-٥) المماسات**

**الاسم :** **الشعبة :**

١- حدد ما إذا كانت $\overline{FG}$ مماسًا لدائرة $E$

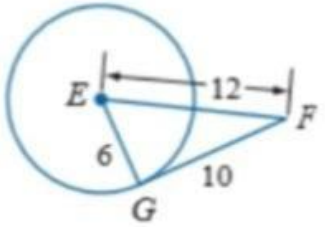


٢- إذا كان المضلع يحيط بالدائرة فأوجد قيمة $x$ ثم أوجد محيط المضلع .

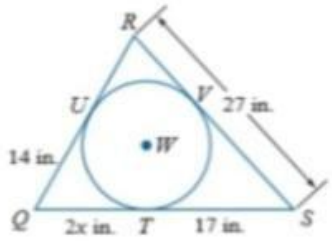


٣- أوجد قيمة $x$ في الشكلين الآتيين مفترضًا أن القطعة المستقيمة التي تبدو مماسًا لدائرة هي مماس فعلاً :

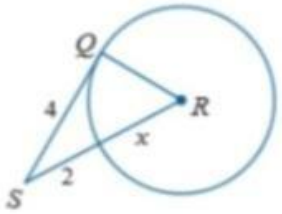


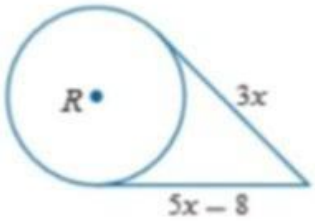


عمل على تفعيل ورقة العمل
طالبات :
ريماس عسيري
دانية الصاعدي رفيف المولد

باشراف المعلمه :
امينه رجب



LIVEWORKSHEETS