Nama: No.Absen: Kelas:

Geometri : Bangun Datar

Tariklah gambar bangun datar di bawah ke dalam kotak sesuai penggolongan bangun datarnya!

SEGITIGA	SEGIEMPAT	BUKAN SEGITIGA DAN BUKAN SEGIEMPAT

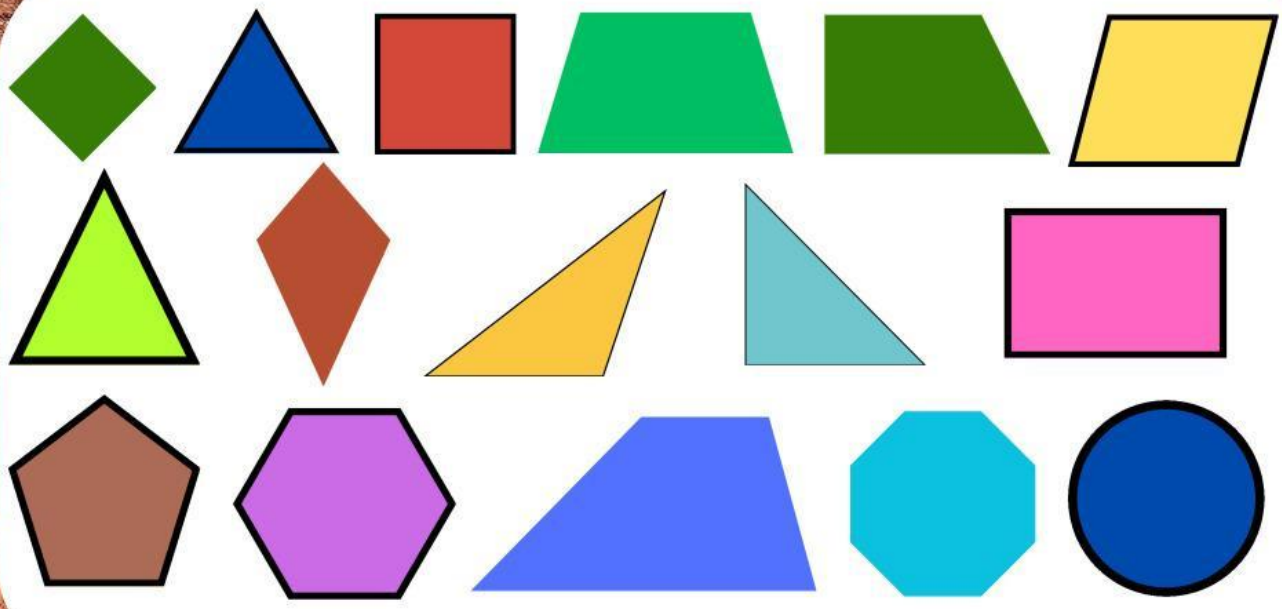

©KAMI BATA MATEMATIKA

@chitrasintarani

LIVEWORKSHEETS

Geometri : Bangun Datar

Perhatikan gambar bangun datar di bawah ini. Tuliskan nama bangun datar, beserta jumlah sisi, sudut, dan titik sudutnya.

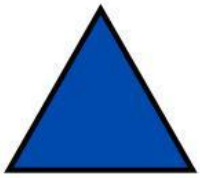

Nama: .....
Jumlah Sisi: .....
Jumlah Sudut: .....
Jumlah Titik Sudut: .....

Nama: .....
Jumlah Sisi: .....
Jumlah Sudut: .....
Jumlah Titik Sudut: .....

Nama: .....
Jumlah Sisi: .....
Jumlah Sudut: .....
Jumlah Titik Sudut: .....



Nama: .....
Jumlah Sisi: .....
Jumlah Sudut: .....
Jumlah Titik Sudut: .....

Nama: .....
Jumlah Sisi: .....
Jumlah Sudut: .....
Jumlah Titik Sudut: .....



Nama: .....
Jumlah Sisi: .....
Jumlah Sudut: .....
Jumlah Titik Sudut: .....

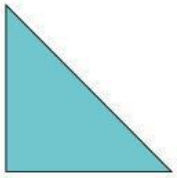

Nama: .....
Jumlah Sisi: .....
Jumlah Sudut: .....
Jumlah Titik Sudut: .....

Nama: .....
Jumlah Sisi: .....
Jumlah Sudut: .....
Jumlah Titik Sudut: .....



Nama: .....
Jumlah Sisi: .....
Jumlah Sudut: .....
Jumlah Titik Sudut: .....



Nama: .....
Jumlah Sisi: .....
Jumlah Sudut: .....
Jumlah Titik Sudut: .....



Nama: .....
Jumlah Sisi: .....
Jumlah Sudut: .....
Jumlah Titik Sudut: .....

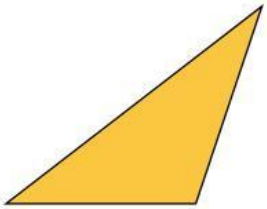

Nama: .....
Jumlah Sisi: .....
Jumlah Sudut: .....
Jumlah Titik Sudut: .....



Nama: .....
Jumlah Sisi: .....
Jumlah Sudut: .....
Jumlah Titik Sudut: .....



Nama: .....
Jumlah Sisi: .....
Jumlah Sudut: .....
Jumlah Titik Sudut: .....

Nama: .....
Jumlah Sisi: .....
Jumlah Sudut: .....
Jumlah Titik Sudut: .....

Nama: .....
Jumlah Sisi: .....
Jumlah Sudut: .....
Jumlah Titik Sudut: .....

©KAMI BATA MATEMATIKA

@chitrasintarani

LIVEWORKSHEETS