urdaneta oianguren
ordiziako ikastetxe publikoa

KALITATEA HEZKUNTZAN

IZENA:.....**MAILA**::.....**DATA**:.....

MASA EDO PISUA

Gogoratu

Kilogramoa edo **kilo**a da **masa**-unitate nagusia.

- 1 kilo = 2 kilo erdi = 4 kilo laurden.
- 1 kilo = 1.000 gramo ▶ 1 kg = 1.000 g.

1 Osatu.

Zenbat kilo erdi dira? ▶	• 6 kilo	▶ _____ kilo erdi.
	• 1 kilo eta erdi	▶ _____ kilo erdi.
	• 2 kilo eta erdi	▶ _____ kilo erdi.
Zenbat kilo laurden dira? ▶	• 5 kilo	▶ _____ kilo laurden.
	• 2 kilo eta laurden	▶ _____ kilo laurden.
	• 3 kilo eta erdi	▶ _____ kilo laurden.

2 Zer pisu du bizkar-zorro bakoitzak? Erreparatu balantzei eta osatu.

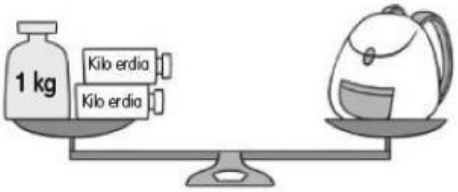

Bizkar-zorroak _____ g-ko pisua du.

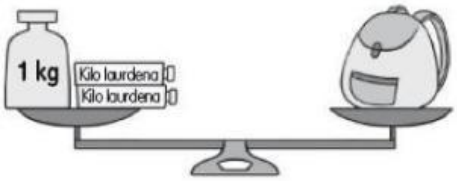

Bizkar-zorroak _____ g-ko pisua du.

3 Kalkulatu zenbat gramoko pisua duen fruitu bakoitzak.



_____ g



_____ g

LIVEWORKSHEETS