LKPD
Lembar Kerja Peserta Didik
PERUBAHAN WUJUD BENDA

tonton materi berikut:

PPT

Baca materi berikut

Bahan Ajar, Booklet dan Buku Saku
Link

LIVEWORKSHEETS

PERUBAHAN WUJUD BENDA

Nama: **Kelas:**

Tulislah jawaban yang benar pada kolom yang disediakan!



- Apa yang terjadi ketika es ditaruh di atas meja di ruangan yang hangat?

- Bagaimana perubahan wujud benda pada gambar disamping?



- Pernahkah kalian melihat orang menjemur pakaian di bawah sinar matahari, apa bentuk perubahan wujud benda tersebut?

- apa yang terjadi ketika bola mencapai ketinggian maksimum?

LIVEWORKSHEETS

MENJODOHKAN

Hubungkan pasangan yang tepat dengan sebuah garis.

Menguap



Mengembun

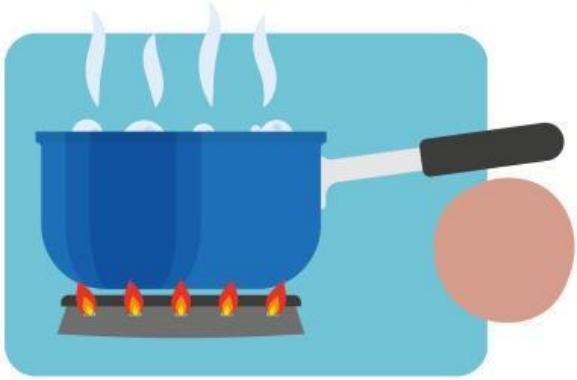

Mencair

Menyublim

LIVEWORKSHEETS