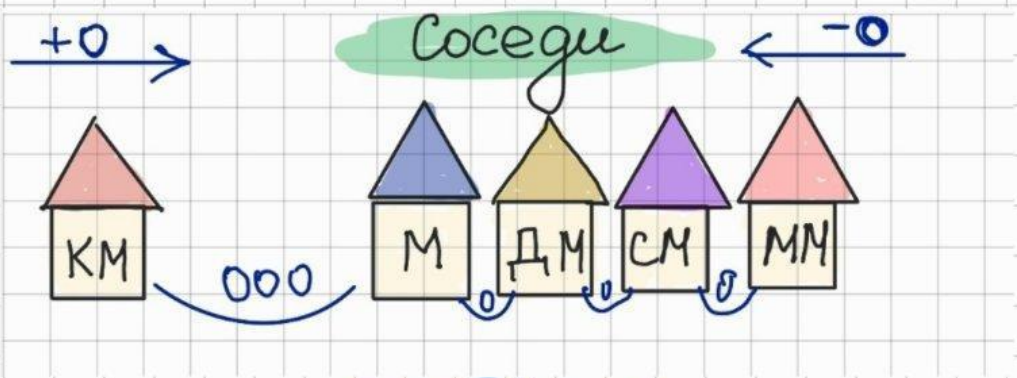

Переведи:

40 м =	дм	300 мм =	см
7 дм =	мм	7000 км =	м
61 см =	мм	50 дм =	м
2 км =	м	180 дм =	см
8 м =	см	400 мм =	дм

Задача

На лугу растёт 120 замечательных цветов. $\frac{1}{4}$ из них белые. Сколько белых цветов на лугу ?

(шт)

Ответ: белых цветов.



Задача

В классе $\frac{1}{5}$ стульев красных. Это 7 стульев. Сколько же всего стульев в классе?

(шт)

Ответ: стульев в классе.

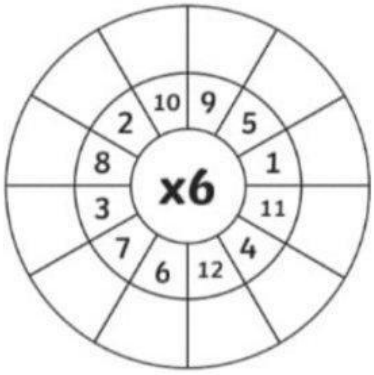

LIVEWORKSHEETS