نشاط تعلم ذاتي
درس الزوايا
LIVEWORKSHEETS

صل بخط بين نوع الزاوية وشكلها

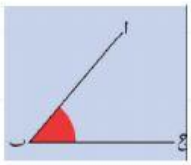

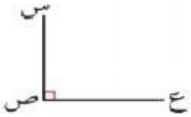

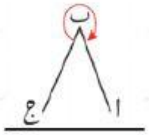

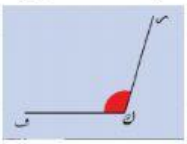

زاوية قائمة

زاوية حادة

زاوية منفرجة

زاوية مستقيمة

زاوية منعكسة

LIVEWORKSHEETS



قيمة س في الشكل المقابل تساوي:

أ) ٤٠

ب) ٦٠

جـ) ٣٠

د) ٨٠

أ / فاطمة الهدابية
LIVEWORKSHEETS