## Câu 1: Tính nhẩm

200 + 500 = .....

340 + 120 = .....

900 - 700 = .....

780 - 600 = .....

## Câu 2: Nối cho phù hợp:

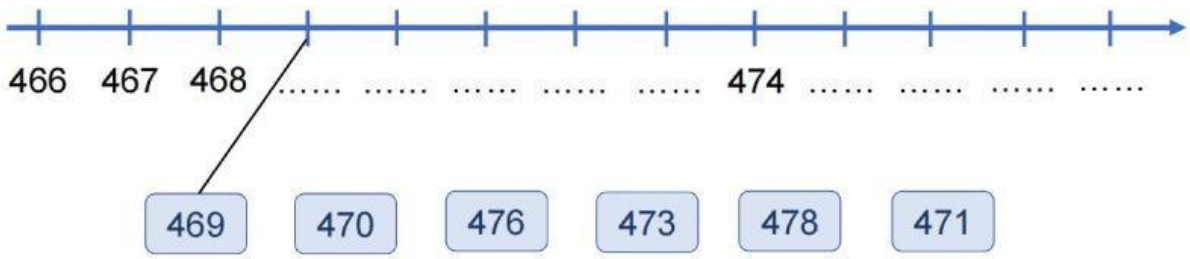


## Câu 3: Điền số vào chỗ chấm:

Số liền sau của 469 là: .....

Số liền trước của 474 là: .....

Số liền trước của 466 là: .....

Số liền sau của 479 là: .....

## Câu 4: Viết các số sau thành tổng:

809 = .....

432 = .....

660 = .....

## Câu 5: Sắp xếp các số: 806, 608, 413, 431theo thứ tự:

Từ bé đến lớn:

Từ lớn đến bé:

## Câu 6: Nối phép tính với kết quả thích hợp:

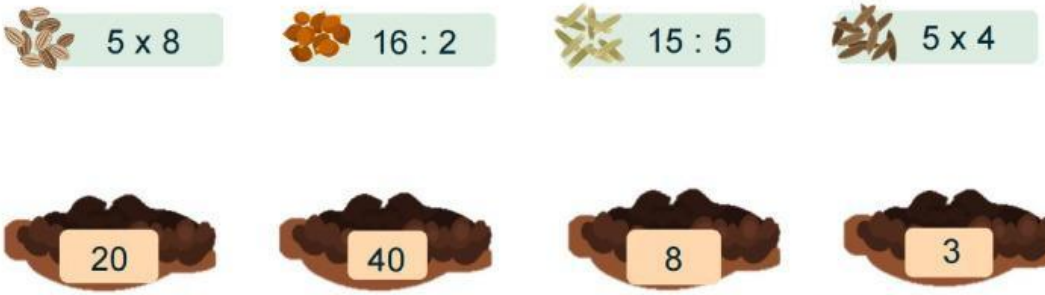


LIVEWORKSHEETS

Câu 7: Nối các vật có dạng hình khối tương ứng

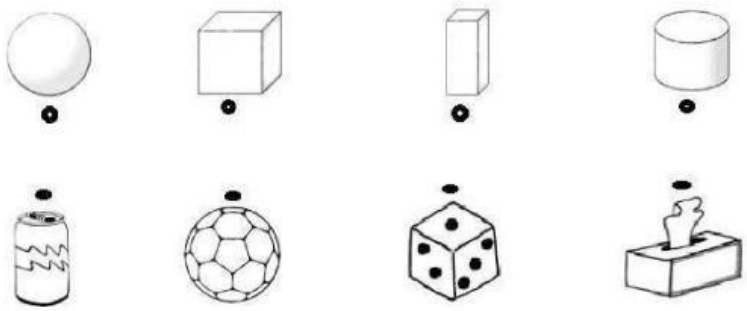

Câu 8: Quan sát hình bên và điền vào chỗ trống:

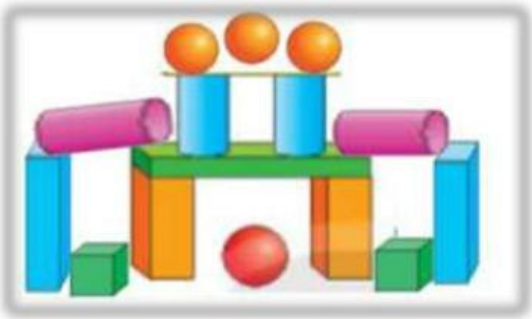

Trong hình bên có:

a) Có ..... khối trụ

b) Có ..... khối cầu

c) Có ..... khối lập phương

d) Có ..... khối hộp chữ nhật

e) Khối hộp chữ nhật nhiều hơn khối

f) lập phương ..... khối

Câu 9: Quan sát cân, điền từ "nặng hơn" , "nhẹ hơn" vào chỗ chấm

a) Con mèo ..... con chó

b) Con chó ..... con mèo

Câu 10: Đúng ghi Đ, sai ghi S:

1 m = 10 dm

100 m = 1 cm

1 m = 100 cm

100 cm = 1 dm

LIVEWORKSHEETS