المملكة العربية السعودية
وزارة التعليم
الإدارة العامة للتعليم بمنطقة المدينة المنورة
مكتب تعليم قباء
المدرسة / ثانوية الأميرة نورة بنت عبدالرحمن الفيصل

ثانوية الأميرة نوره بنت عبدالرحمن الفيصل

وزارة التعليم
Ministry of Education

المعادلة القطبية r=4 تمثيلها البياني عبارة عن دائرة طول قطرها..

A- 2

B- 3

C- 8

D- 4

المسافة بين النقطتين p1 =(0,40),p2 =(٣،٦٠) تساوي

A- 0

B- 40

C- 3

D- 60

ما الصورة القطبية للمعادلة ٤= ٢ (y-2)+x2؟

A- r=sin0

B- r=2sin0

C- r=4sin0

D- r=8sin0

القيمة المطلقة لعدد المركب ٣+٤i تساوي..

A- 2

B- 4

C- 3

D- 5

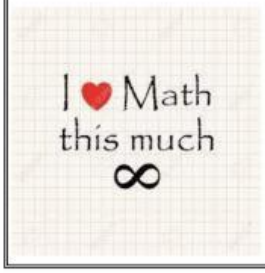

LIVEWORKSHEETS

المملكة العربية السعودية
وزارة التعليم
الإدارة العامة للتعليم بمنطقة المدينة المنورة
مكتب تعليم قباء
المدرسة / ثانوية الأميرة نورة بنت عبدالرحمن الفيصل

الشكل المجاور يمثل المعادلة :

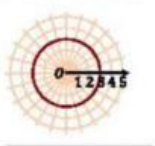

A- r=3

B- r=6

C- r=2

D- r=4

تمثيل النقطة (٢,٥٠°) في المستوى القطبي هو نفسة تمثيل النقطة :

A-(٢,٥٠°)

B-(٢,١٣٠°)

C-(-٢,-٥٠°)

D-(-٢,٢٣٠°)

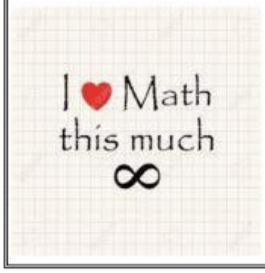

LIVEWORKSHEETS