ใบงานวิชาคณิตศาสตร์ ชั้นประถมศึกษาปีที่ 6

ตัวชี้วัดที่ ค 2.2 ป. 6/1

เรื่อง การจำแนกชนิดของรูปสามเหลี่ยม

คะแนน

ชื่อ ..... เลขที่ ..... ชั้น ป.6/.....

คำชี้แจง : จงระบุชนิดของรูปสามเหลี่ยม

รูปสามเหลี่ยม	ชนิดของรูปสามเหลี่ยม	
	พิจารณาจากขนาดของมุม	พิจารณาจากความยาวของด้าน
1 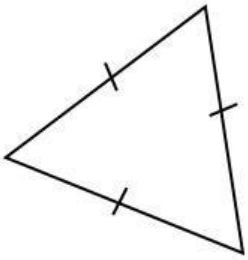	.....	.....
2 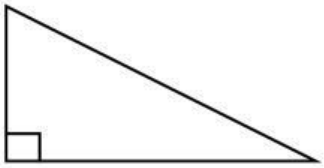	.....	.....
3 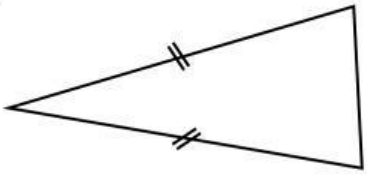	.....	.....
4 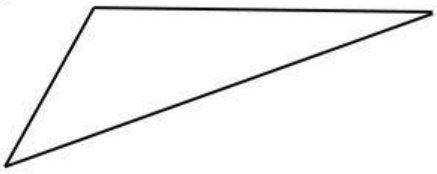	.....	.....
5 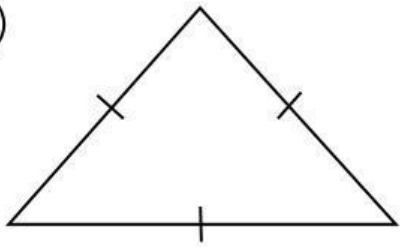	.....	.....

LIVEWORKSHEETS