ชื่อ - นามสกุล ..... ชั้น ม. ..... เลขที่ .....

แบบทดสอบเก็บคะแนน

<u>คำชี้แจง</u> ให้นักเรียนตอบคำถามให้สมบูรณ์ทุกข้อ

1. จากแบบจำลองอะตอมตามรูปภาพข้างล่าง ให้นักเรียนระบุว่าเป็นแบบจำลองอะตอมของนักวิทยาศาสตร์ท่านใด โดยนำคำที่กำหนดให้ต่อไปนี้วางใต้รูปให้สัมพันธ์กับแบบจำลองอะตอม

ดอลตัน	โบห์ร	กลุ่มหมอก	ทอมสัน	รัทเทอร์ฟอร์ด
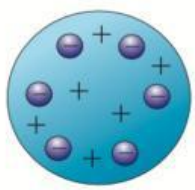	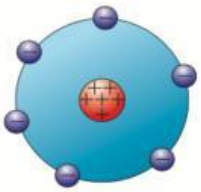			
A	B	C	D	E

2. จากรูป เป็นการทดลองของนักวิทยาศาสตร์ท่านใด .....

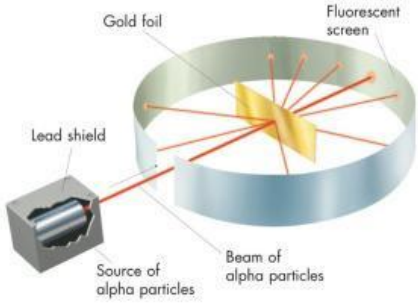

และทำให้ทราบว่า อะตอมส่วนใหญ่เป็นที่ว่าง ภายในกลางอะตอมมีประจุบวกอยู่อย่างหนาแน่น และมีมวลมาก ซึ่งต่อมาเรียกว่า .....

3. ให้นักเรียนลากเส้นจับคู่ข้อความที่กำหนดให้ต่อไปนี้ให้สัมพันธ์กับสัญลักษณ์แสดงชนิดของพลาสติก

● PS ● LDPE ● HDPE ● PP ● PVC ● PET

LIVEWORKSHEETS