CM3.1 UD08 T10 MEDIDAS SOBRE EL PLANO			Nota
Nombre y apellidos:	Nº:	Grupo:	
	Fecha:		

1) Indica el valor del ángulo x en cada caso: (2,5 puntos)

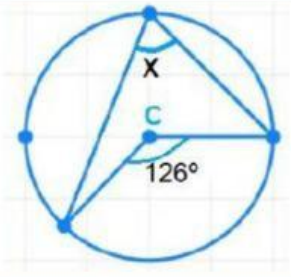

X=

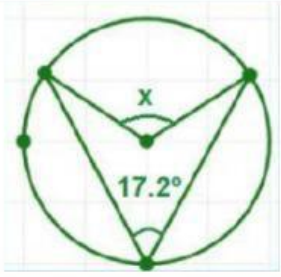

X=

2) Calcula la altura x del pino: (2,5 puntos)

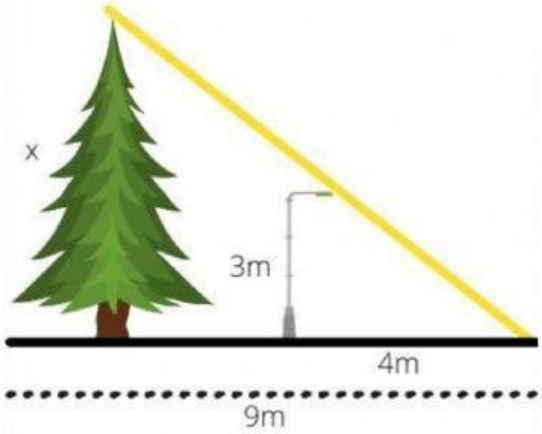

X=

3) Dado el plano de escala 1:100 calcula las dimensión A en la realidad (2,5 puntos)

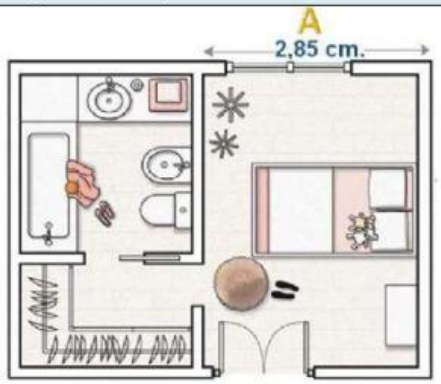

A _____

4) Halla la medida de la torre Eiffel sabiendo que proyecta una sombra de 400 m y que la hipotenusa son 500 m (2,5 puntos)

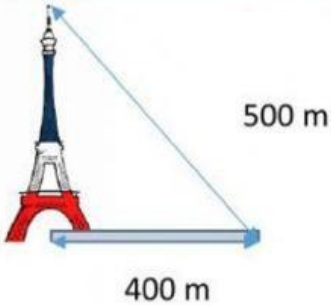

La torre mide .....

LIVEWORKSHEETS