Исторически факти и образи в „Опълченците на Шипка“ - Иван Вазов

11 август 1877

1. Задача

Изгледайте видеото. Отворете от портала LITERNET текста: (Автори – В - Вазов, Иван – Стихотворения – „Опълченците на Шипка“).
Търсите и откривате стиховете в текста на произведението, за да попълвате пропуснатото от тях към задачите.

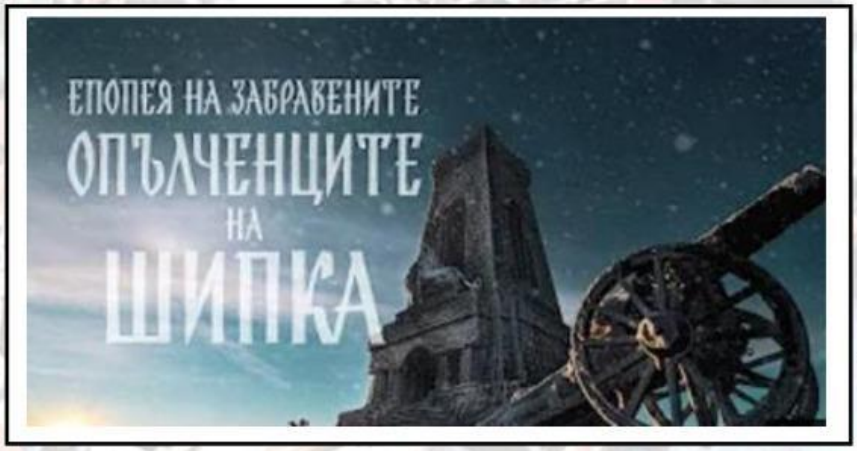

LIVEWORKSHEETS

Беласица стара и новий.....

2. Задача

Изгледайте видеото от 17 мин до 19 мин.
Пренесете се в реално време в Ключката клисура на планината Беласица и съсъставете кратка визитка на цар Самуил.

Цар Самуил управлява България в края на .....Столица на България при неговото управление е град .....

През .....година византийският император Василий II разгромява войската на цар Самуил при село.....и ослепява .....хиляди български войници, с което си спечелва прозвището.....

3. Задача

Пренесете се виртуално в църквата „Св. Неделя“ в Батак.
Кое е общото между двете изображения?

LIVEWORKSHEETS

4. Задача

Анализирайте историческите извори, като отговорите на въпросите.

1. *...Големи села като Ветрен представляват купища от развалини; изгладнели деца се молят за хляб; виждат се хора, на които турците са отрязали носа и ушите...Изглежда, че войските са получили заповед да колят всички при първа съпротива и за такава се смята всичко: противопоставяне на грабежите, опит за бягство, опит за укриване.*

Доклад на анкетната комисия, ръководена от княз Церетелев, май 1876 г.

2. *Няма къща, под чиито развалини да не сме открили човешки останки... Влязохме в черковния двор...от тази чудовищна гробница сега можеха да се видят подаващи се глави, китки, крака, стъпала и ръце в ужасна безредица. Казаха ни, че само тук лежат три хиляди души…Навред ужаси, ужаси, ужаси...*

Репортажите на Макгахан, август 1876 г.

3. *Батак беше с девет хиляди жители, сега са 1300. На седем хиляди човешки същества е изгаснал животът, но къде се намираме, не се ли свършват още завоеванията на ятагана, на кола, на горилището, на безчестното от всякакъв вид.*

Писмо на Джузепе Гарибалди, 17.08.1876 г.

4. *Избиват един народ. Къде? В Европа. Има ли свидетели? Един свидетел – целият свят!...Кога ще свърши мъченичеството на тази героична нация? Дошъл е моментът, в който човешката съвест взема думата и заповядва на правителствата да я слушат...Трябва да се сложи край на империите, които убиват!*

Из реч на Виктор Юго, 29.09.1876 г.

5. В международната преса в 200 вестника излизат над 3000 материала, разкриващи истината за потушаването на Априлското въстание. В защита на българите се обявяват още: Ото фон Бисмарк, Юж. Скайлер, К. Иречек, Ив. Аксаков, Ф. Достоевски, Лев Толостой, Ив. Тургениев, В. Верещагин, Дм. Менделеев и мн. др.

Дж. Макгахан

княз Церетелев

Кое е общото: **и различното между текстовете от :**

Колона 1.
Колона 2.

Извадете доказателства от текстовете:

а/ зверствата са над мирното население

б/ са резултат от официалната политика на Османската империя

в/ цивилизована Европа не може да остане безучастна към съдбата на българите

Колко време е изминало от Априлското въстание до отзвука от него по света?

Колко време е изминало от Априлското въстание до боевете при Шипка?

/използвайте хронологията от изворите и заглавието на одата/

Дж. Гарибалди

Виктор Юго

К. Иречек

LIVEWORKSHEETS

О, ... !

. . . . . безумний сочи върха пак . . .



Знаете ли, че:

Кой е връх Шипка? В общественото пространството от десетилетия остава едно объркване - в момента назоваваме два върха с името Шипка. Планинският връх с надморска височина 1326 метра, назован като Свети Никола, е избран за място на паметния монумент.

На километър северно от Паметника на Свободата има друг връх, който е по-нисък –1232 метра. Именно там, през август 1877 г., се е намирал командният пункт на генерал Николай Столетов и именно този връх Иван Вазов възпява в одата си.

По предварителен план паметникът е трябвало да бъде издигнат на Орлово гнездо, на мястото на най-тежките и най-жестоките боеве за Шипченския проход. Скалите на Орлово гнездо се намират между двата упоменти върха. За да бъдат запазени като историческа светиня, а и заради наложителните скъпоструващи подпорни стени и подравнявания, обаче е била избрана съседната височина – връх Свети Никола, който се издига над прохода и се вижда отдалече от всички страни.

Изработката на монументалната бронзова фигура на лъва от Паметника на Свободата се свързва с името на известен варненски архитект. Прочетете и научете повече за него. Обърнете внимание на други известни негови творби, както и къде е паметникът му във Варна. **Запишете и запомнете името му:**

.....

LIVEWORKSHEETS

Тогава....., нашиș генерал,

ревна гороломно: „Млади .....,

венчайте България с лаврови венци!

на вашата сила .....повери

прохода, войната и себе дори“

5. Задача

Изгледайте видеото и попълнете пропуснатото в текста:

Самарското знаме е изработено в девическия манастир на град

като дар за участниците в от 1876 г.
То е връчено в град на

в Руско – турската война (1877 – 1878 г.).

От едната му страна е извезан образа на , а от другата – образите на .
Знамето е връчено на командира на Трета опълченска дружина подполковник . Бойното кръщение на Самарскоро знаме е в боевете при .

Знаете ли, че:

Един от знаменосците, пазители на Самарското знаме, позирал на художника Ярослав Вешин за едноименната картина, е живял в град Варна след Освобождението.

Прочетете и научете повече за него. **Запомнете и запишете името му:**

.....

LIVEWORKSHEETS

Йоще миг - ще падне заветният хълм.

Изведнъж.....пристигна със гръм.

6. Задача

а/ Попълнете имената на историческите личности под визитките им, като използвате хипервръзките.

б/ Изпълнете дигиталното упражнение.

Руският император, „цар освободител“

Руският генерал, ръководител на Предния отряд

Руският генерал, ръководител на българското опълчение и боевете при Шипка



Руският генерал, свалил обсадата на Осман паша в Плевен



Руският генерал, изпратил подкрепление в боевете на Шипка

Османски паша, обсадил Плевен

Османски паша, ръководил настъплението при Шипка

LIVEWORKSHEETS

...едно име ново, голямо антично,

като.....славно, безгранично...,

...

Нищо. Те ще паднат, но честно, без страх -

кат шъпа.....под сганта на.....

7. Задача

Изгледайте видеото от 16 до 20 мин. и попълнете попълнете таблицата:

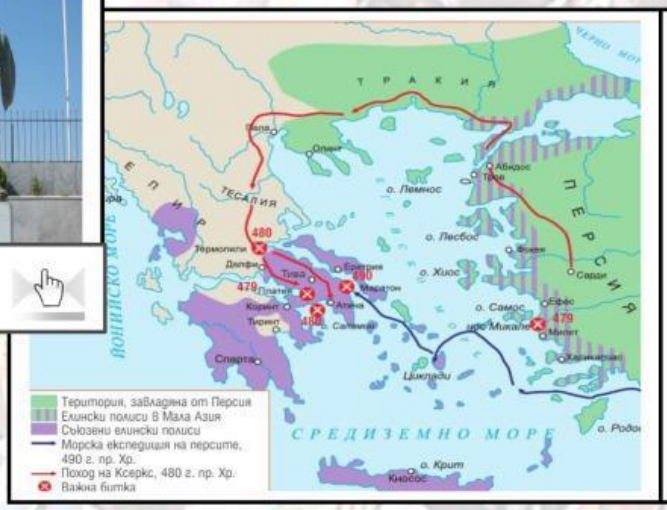

Показател	Битката при Термопили	Битката при Шипка
1. Коя е войната?		
2. Кога протича битката?		
3. Кои исторически личности участват?	- Спартанският цар - Персийският цар	- Българските - Ръководени от ген. - Подкрепени от ген. - паша
4. Кой побеждава?		
5. Открийте и запишете най-малко три факта, по които събитията си приличат:	1. 2. 3.	

LIVEWORKSHEETS

И днес йощ Балканът, щом буря зафаща,
спомня тоз ден бурен, шуми и препраща
славата му дивна като някой ек
от урва на урва и от век на век!

Наталия Борисова,
старши учител по история и цивилизации,
ОУ *Добри Чинтулов* - Варна
borisova.nataliya.nb@gmail.com

LIVEWORKSHEETS