PHIẾU THI ĐẤU – BẢN DEMO 1

NHÓM: ..... - LỚP: .....

1 Phân số nào chỉ phần miếng bánh pizza Luca đã ăn?

- ☐ $\frac{1}{8}$
- ☐ $\frac{5}{8}$
- ☐ $\frac{9}{8}$
- ☐ $\frac{6}{16}$

2 Quan sát và cho biết Luca còn phải đi bao nhiêu phần quãng đường nữa ?

- ☐ $\frac{7}{12}$
- ☐ $\frac{12}{24}$
- ☐ $\frac{22}{24}$
- ☐ $\frac{1}{12}$

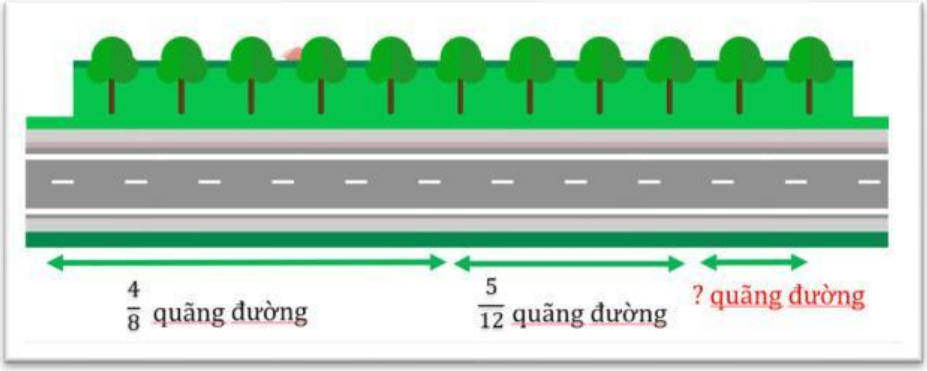

3 Xem ảnh và chọn câu nêu hoạt động trong các câu sau:

- ☐ Bầu trời xanh thẳm với những đám mây trắng.
- ☐ Những bông hoa thơm ngát.
- ☐ Chiếc xe máy màu đỏ nổi bật trên con đường.
- ☐ Luca chở Alberto trên chiếc xe màu đỏ.

LIVEWORKSHEETS

PHIẾU THI ĐẤU – BẢN DEMO 1

NHÓM: ..... - LỚP: .....

4 Nối các từ sau với nhóm từ loại tương ứng

Danh từ	Động từ

Bác sỹ | hát | Chạy | bơi | Bàn ghế | Nhảy

5 Điền số thích hợp vào ô trống ?

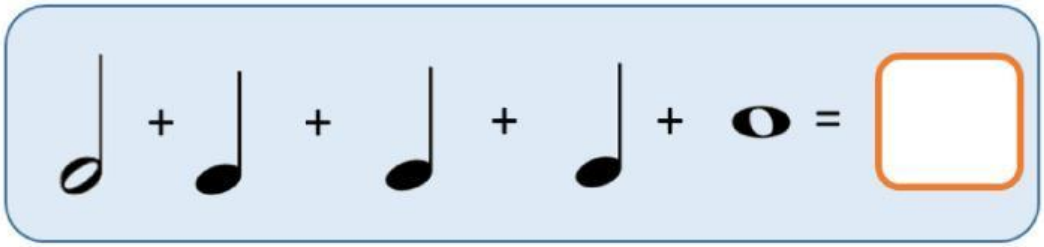

6 Chọn khối lệnh còn thiếu của chương trình điều khiển : động cơ quay với tốc độ 55%, di chuyển trong 1 vòng, sau đó phát âm thanh.

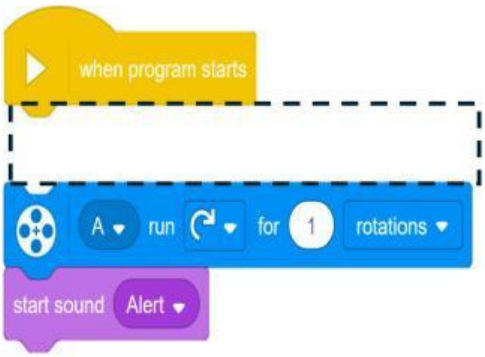

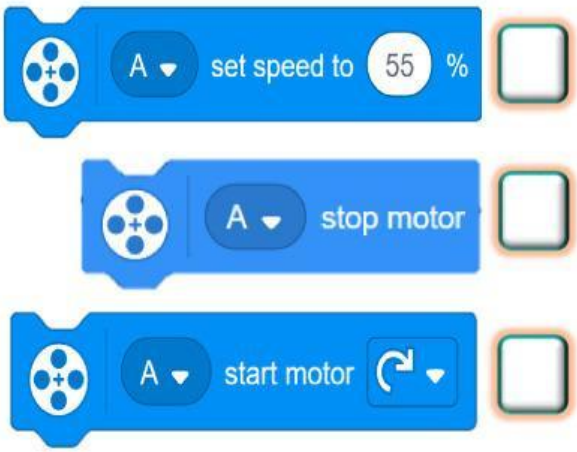

LIVEWORKSHEETS