WELLSPRING INTERNATIONAL BILINGUAL SCHOOL

Happy Journey

PHIẾU THI ĐẤU – GÓI SỐ: 6

NHÓM: ..... - LỚP: .....

1 **Xác định CN trong câu sau:**
Vệt sương mỏng như chiếc khăn voan vắt hờ hững trên sườn đồi.

- Vệt sương mỏng như chiếc khăn voan
- Như chiếc khăn voan
- Mỏng như chiếc khăn voan vắt hờ hững trên sườn đồi
- Vệt sương mỏng

2 **Chú rùa màu xanh lá bò từ A đến B theo đường màu cam. Chú rùa màu nâu bò từ B về A theo đường màu đỏ (như hình vẽ).**
So sánh độ dài quãng đường của hai chú rùa.

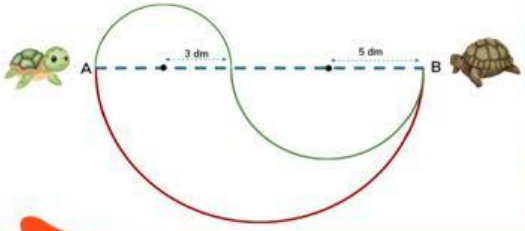

- Quãng đường rùa xanh dài hơn rùa nâu
- Quãng đường rùa nâu dài hơn rùa xanh
- Quãng đường rùa vàng dài hơn rùa nâu
- Bằng nhau

3 **Mavis làm một tháp chất lỏng như hình dưới đây.**
Hỏi chất lỏng nào có thể tích lớn nhất và thể tích đó bằng bao nhiêu?

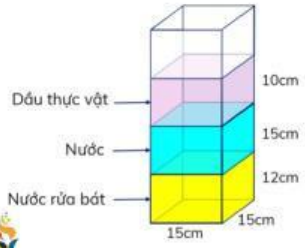

- $3375\ cm^3$
- $3385cm^3$
- $3395cm^3$
- $3400cm^3$

Star

LIVEWORKSHEETS

WELLSPRING INTERNATIONAL BILINGUAL SCHOOL

Happy Journey

4 Chọn hiện tượng về nghĩa thích hợp điền vào chỗ trống

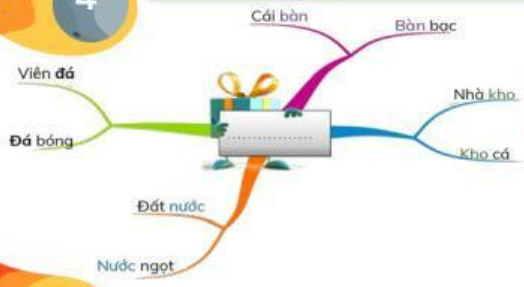

- [ ] Từ đồng âm
- [ ] Từ nhiều nghĩa
- [ ] Từ đồng nghĩa
- [ ] Từ trái nghĩa

5 Hãy chọn đáp án nêu nhận xét đúng về lệnh lập trình của bạn Joe dưới đây

- [ ] Chương trình của bạn Joe sai ở câu lệnh số 1
- [ ] Chương trình của bạn Joe sai ở câu lệnh số 2
- [ ] Chương trình của bạn Joe sai ở câu lệnh số 3
- [ ] Chương trình của bạn Joe sai ở câu lệnh số 1 & 2

6 Hãy chỉ các bộ phận của nhị và nhụy hoa bằng cách kéo thả các từ đã cho vào tranh sao cho phù hợp:

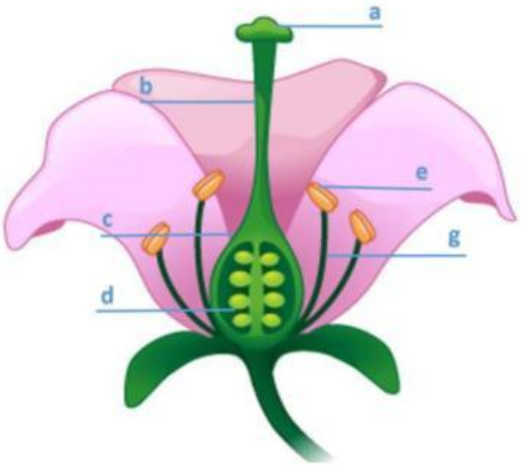

Bầu nhụy | Bao phấn | Noãn

Chỉ nhị | Đầu nhụy | Vòi nhụy

Star I'M A MASTER WISer

LIVEWORKSHEETS