Десяток. Утворення десятків першої сотні. Лічба.

1 Запиши послідовно числа в порядку зменшення.
10, 6, 5, 3, 1, 7, 2, 8, 9, 4.

2 Скільки десятків ягід горобини на китицях? Запиши.



3 дес. = 30



☐ дес. = ☐☐



☐ дес. = ☐☐

☐ дес. = ☐☐



☐ дес. = ☐☐

☐ дес. = ☐☐

LIVEWORKSHEETS