PHIẾU THI ĐẤU – GÓI SỐ 9

NHÓM: ..... - LỚP: .....

1 Bể cá sau chứa được bao nhiêu lít nước ($1dm^3 = 1l$)?

A. 5,6ml

B. 560l

C. 56l

D. $0,56dm^3$

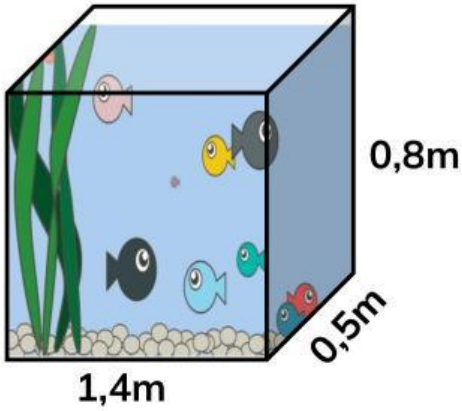

2 Tính diện tích phần tô màu xanh của hình dưới đây.
Biết AC = 12 cm, BH = 6 cm, IH = $\frac{1}{3}$ AC

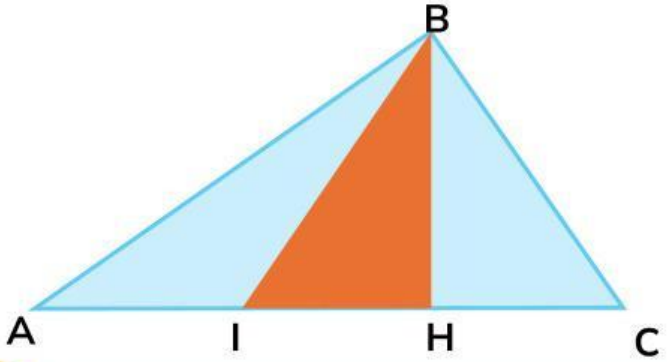

A. $24cm^2$

B. 24cm

C. $12cm^2$

D. 12cm

3 Hãy xếp các cặp quan hệ từ vào các cột sao cho phù hợp.

Mặc dù - Nhưng | Do - Nên | Càng - Càng | Không những - mà

Các cặp quan hệ từ thể hiện mối quan hệ		
Nguyên nhân Kết quả	Tương phản	Tăng tiến

LIVEWORKSHEETS

WELLSPRING INTERNATIONAL BILINGUAL SCHOOL

Happy Journey

4 Đặt câu ghép miêu tả khung cảnh và không khí buổi tiệc

.....

5 Đây là quy trình sản xuất vật liệu nào?

A. Dâu tằm

B. Kén tằm

C. Lụa

D. Áo

6 Sắp xếp lại những câu lệnh sau để thành chương trình đúng: Động cơ A quay với tốc độ 50%, chiều quay sang phải trong 3 vòng, phát âm thanh

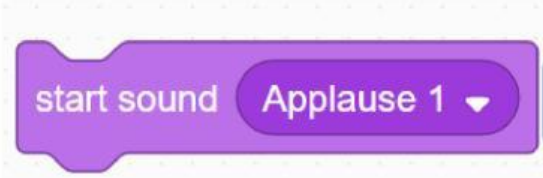

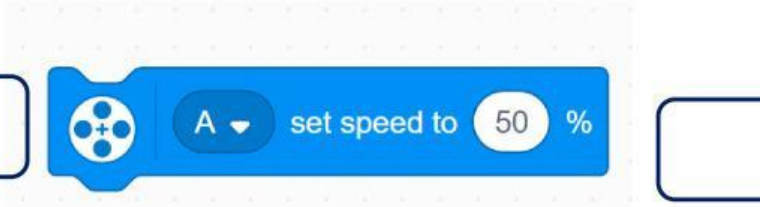

LIVEWORKSHEETS