STROMY NAŠÍCH LESŮ

1. Vybarvěte trojice, které k sobě patří:

BUK

DUB





JÍROVEC

JAVOR

LIVEWORKSHEETS

2. Vylušti křížovku:

1. *Plody dubu.*
2. *Nachází se v šiškách.*
3. *Plody Jírovce Maďalu.*
4. *Jehličnatý strom, který na zimu opadá.*
5. *Orgán nahosemenných rostlin (stromů).*
6. *Nejvyužívanější a nejdůležitější dřevina v Evropě.*
7. *Plody buku lesního.*
8. *Úzké tuhé listy jehličnatých stromů.*
9. *Jinak řečeno smůla.*

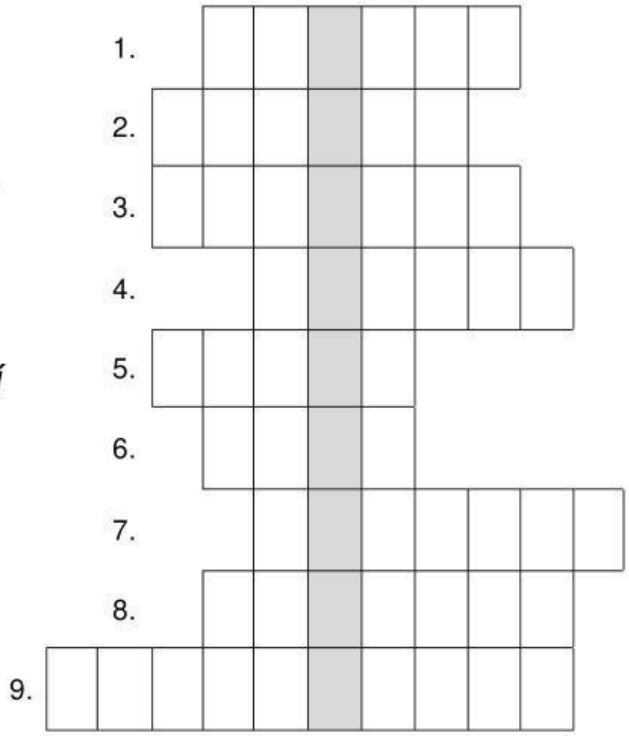

TAJENKA: Přírůstek dřeva, díky kterému spočítáme, jak je strom starý…….

3. Přiřaď strom ke správné definici:

Má ploché jehličí, jeho šišky stojí na větvích.

.....

Má měkké a ploché jehličí. Jeho krátké šišky stoji na větvích. Na zimu opadává.

.....

Šišky má krátké a kuželovité.

.....

Jehlice vyrůstají ve svazcích po dvou. Šišky visí směrem dolů.

.....

MODŘÍN OPADAVÝ

JEDLE BĚLOKORÁ

SMRK ZTEPILÝ

BOROVICE LESNÍ

LIVEWORKSHEETS