BAHAN AJAR MATEMATIKA

BANGUN DATAR

Nama :

Kelas :

LIVEWORKSHEETS

SEBELUM MEMULAI PEMBELAJARAN, TONTONLAH DAN PERHATIKAN VIDIO DIBAWAH INI

LIVEWORKSHEETS

SETELAH MENONTON VIDEO YANG DISAJIKAN, KERJAKANLAH SOAL-SOAL BERIKUT!

1. **Apakah nama bangun datar dibawah ini?**

A. Persegi Panjang
B. Persegi
C. Lingkaran
D. Segitiga

2. **Titik-titik tak hingga yang mempunyai jarak yang sama dengan titik pusat disebut?**

A. Jajar Genjang
B. Persegi
C. Layang-layang
D. Lingkaran

3. **Pilihlah sifat-sifat dibawah ini yang merupakan sifat dari bangun datar segitiga!**

- ☐ Jumlah sudut 360°
- ☐ Jumlah sudut 180°
- ☐ Keliling = a+b+c
- ☐ Keliling = 2 (p+l)
- ☐ Memiliki 3 sudut
- ☐ Memiliki 4 sudut

LIVEWORKSHEETS

4 **Pilihlah nama yang sesuai dengan bangun di bawah ini!**





5 **Buatlah garis ke jawaban yang benar !**

Jajargenjang

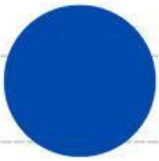

Trapesium

Lingkaran

LIVEWORKSHEETS

6 **Tariklah rumus yang sesuai dengan gambar !**

Bangun Ruang	Rumus Luas	
		L = p x l
		L = 1/2 . a . t
		L = π r^2

LIVEWORKSHEETS