Colegio Pedagógico Américas

Primer Grado

¡Tú puedes hacerlo!

Matemáticas

Escribe tu nombre completo:

Arrastra las imágenes para seguir la secuencia del patrón.

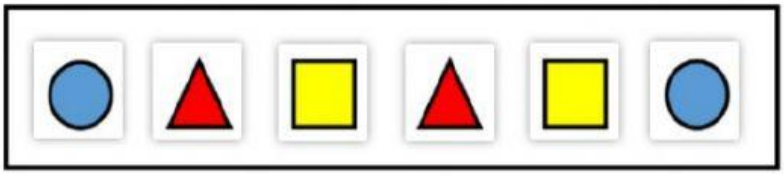

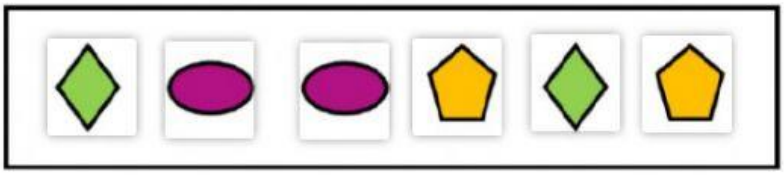



LIVEWORKSHEETS

Colegio Pedagógico Américas

Primer Grado

1.COLOCA CADA FIGURA PLANA EN SU LUGAR



Rectángulo Triángulo Cuadrado Círculo Pentágono Rombo Trapecio

Cuenta y completa. Señala el vértice y el lado en la última figura.

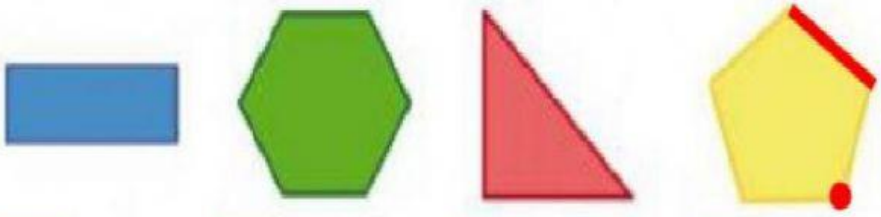

vértice

lado

☐ lados ☐ lados ☐ lados ☐ lados

☐ vértices ☐ vértices ☐ vértices ☐ vértices

LIVEWORKSHEETS

Colegio Pedagógico Américas

Primer Grado

Escribe con letra los siguientes números

175 _____

429 _____

316 _____

89 _____

Escribe con Número

- Ciento cuarenta y tres _____
- Trescientos veintidós _____
- Cincuenta y siete _____
- Doscientos cinco _____
- Noventa y nueve _____

LIVEWORKSHEETS

Colegio Pedagógico Américas

Primer Grado

Observa a los corredores y escribe en qué lugar van cada uno.



OCTAVO

SÉPTIMO

TERCERO

NOVENO

SEXTO

DÉCIMO

PRIMERO

SEGUNDO

CUARTO

QUINTO

¡Que te vaya bien!

Suerte!!

LIVEWORKSHEETS

Colegio Pedagógico Américas

Primer Grado

LIVEWORKSHEETS