LEMBAR KERJA

MATEMATIKA

Tabung

Nama :

Kelas :

LIVEWORKSHEETS

AKTIVITAS 1

Manakah dari gambar berikut yang berbentuk tabung?



LIVEWORKSHEETS

AKTIVITAS 2

Letakan bagian-bagian tabung berikut pada kotak yang sesuai!

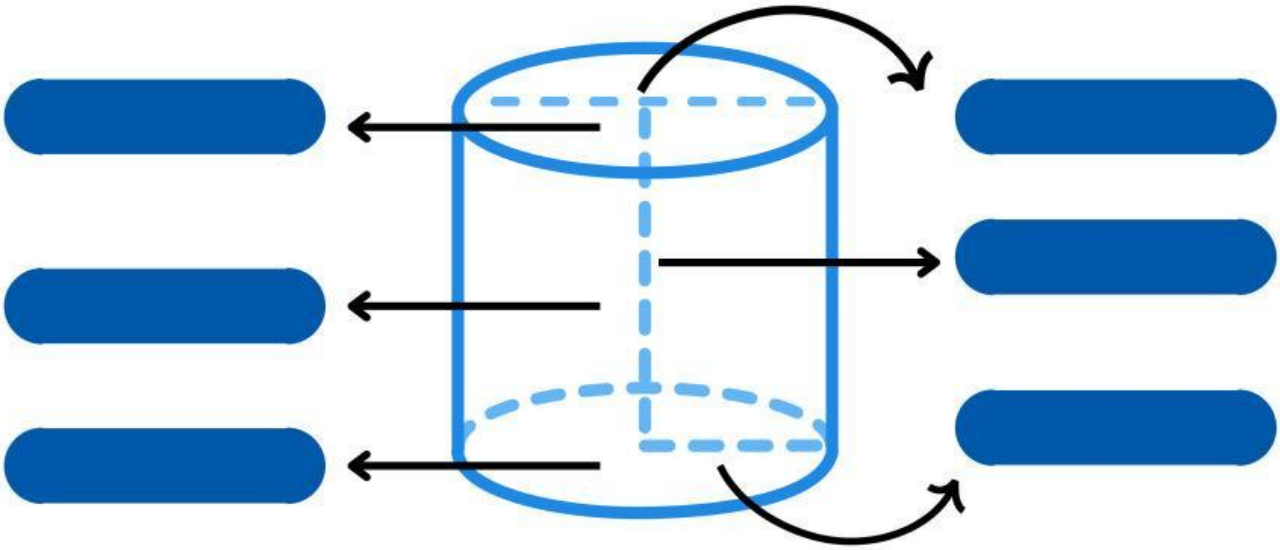

Jari-Jari | Alas | Selimut

Tinggi | Tutup | Diameter

LIVEWORKSHEETS

AKTIVITAS 3

Jika tabung dipotong sisi-sisinya, maka akan membentuk jaring-jaring tabung. Pilihlah 2 jaring-jaring tabung yang tepat!

(A)

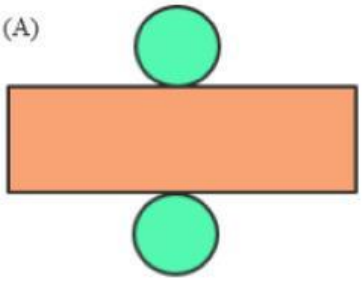

(B)

(C)

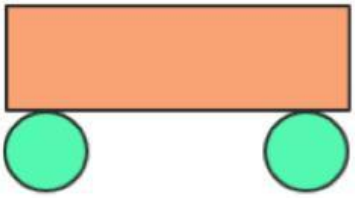

(D)

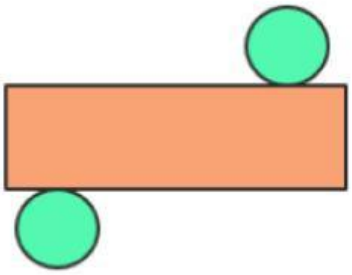

(E)

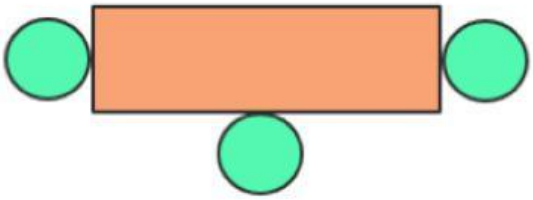

LIVEWORKSHEETS

AKTIVITAS 4

Seorang tukang kayu sedang membuat sebuah tiang lampu berbentuk tabung dengan jari-jari alas 8 cm dan tinggi 25 cm. Dia akan melapisi kayu tersebut dengan cat, untuk memperkirakan jumlah cat yang dibutuhkan berapakah luas permukaan tiang tersebut?

Permukaan tiang terdiri atas 3 bagian, yaitu:

- Tutup tiang yang berbentuk _____ dengan luas = _____
- Selimut tiang yang berbentuk _____ dengan luas = _____
- Alas tiang yang berbentuk _____ dengan luas = _____

Maka luas permukaan tiang tersebut

adalah _____ cm^2

LIVEWORKSHEETS