LECCIÓN DE MATEMÁTICAS
FRACCIONES

1.- Selecciona la fracción representada con flecha o con punto en cada semirrecta

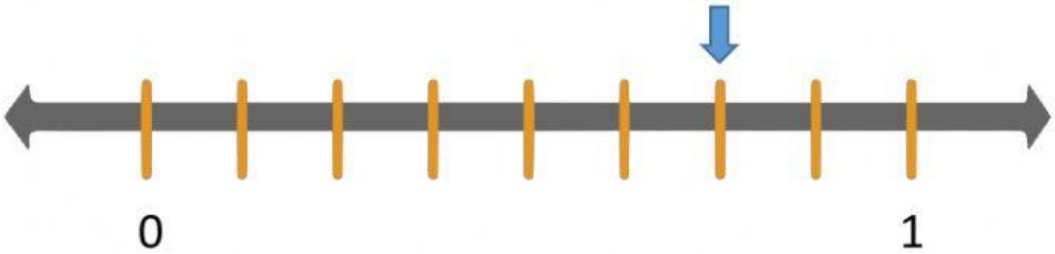

$\frac{4}{7}$ $\frac{6}{8}$ $\frac{2}{8}$

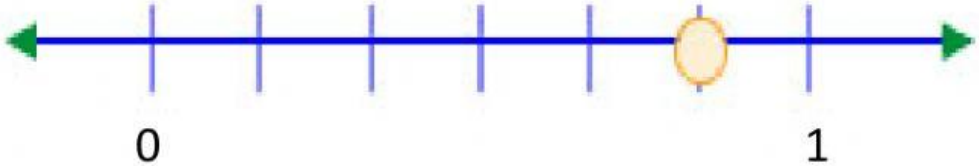

$\frac{2}{6}$ $\frac{5}{8}$ $\frac{5}{6}$

2.- Selecciona V si es verdadero y F si es falso según corresponda

La fracción $\frac{7}{8}$ es una fracción impropia	V	F
En $\frac{7}{7}$ la fracción es aparente o igual.	V	F
Para que dos fracciones sean iguales, deben ser equivalentes	V	F
$\frac{2}{8}$ es mayor qué $\frac{4}{6}$	V	F
$\frac{1}{2}$ es una fracción equivalente de $\frac{6}{12}$	V	F
Si dos fracciones tienen el mismo denominador será menor la que tiene mayor numerador.	V	F

LIVEWORKSHEETS

3.- Lee la situación y escoge la respuesta correcta

a) Si Carlos bebe $\frac{4}{10}$ de agua al día y Camila $\frac{3}{5}$ de agua. ¿Quién de los dos bebe más agua?

CARLOS **CAMILA** **LOS DOS**

b) El jueves Patricio leyó $\frac{5}{10}$ de un libro y el viernes $\frac{2}{10}$ más.

¿Qué parte del libro le falta por leer a Patricio?

$\frac{7}{10}$ $\frac{3}{10}$ $\frac{4}{10}$

4.- Compara las siguientes fracciones y selecciona el signo >,< o = según corresponda.

$\frac{6}{8}$ ○ $\frac{7}{9}$

> < =

$\frac{2}{3}$ ○ $\frac{2}{6}$

> < =

$\frac{4}{2}$ ○ $\frac{8}{4}$

> < =

$\frac{1}{5}$ ○ $\frac{3}{5}$

> < =

LIVEWORKSHEETS

5.- Observa los gráficos, escribe la fracción y une con línea la clase de fracción que corresponde.

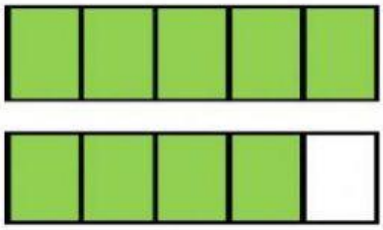

FRACCIÓN PROPIA

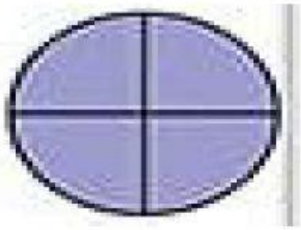

FRACCIÓN IMPROPIA



FRACCIÓN APARENTE



FRACCIÓN DECIMAL

LIVEWORKSHEETS