PH TATA SURYA

TANGGAL : **KELAS :** **NAMA :**

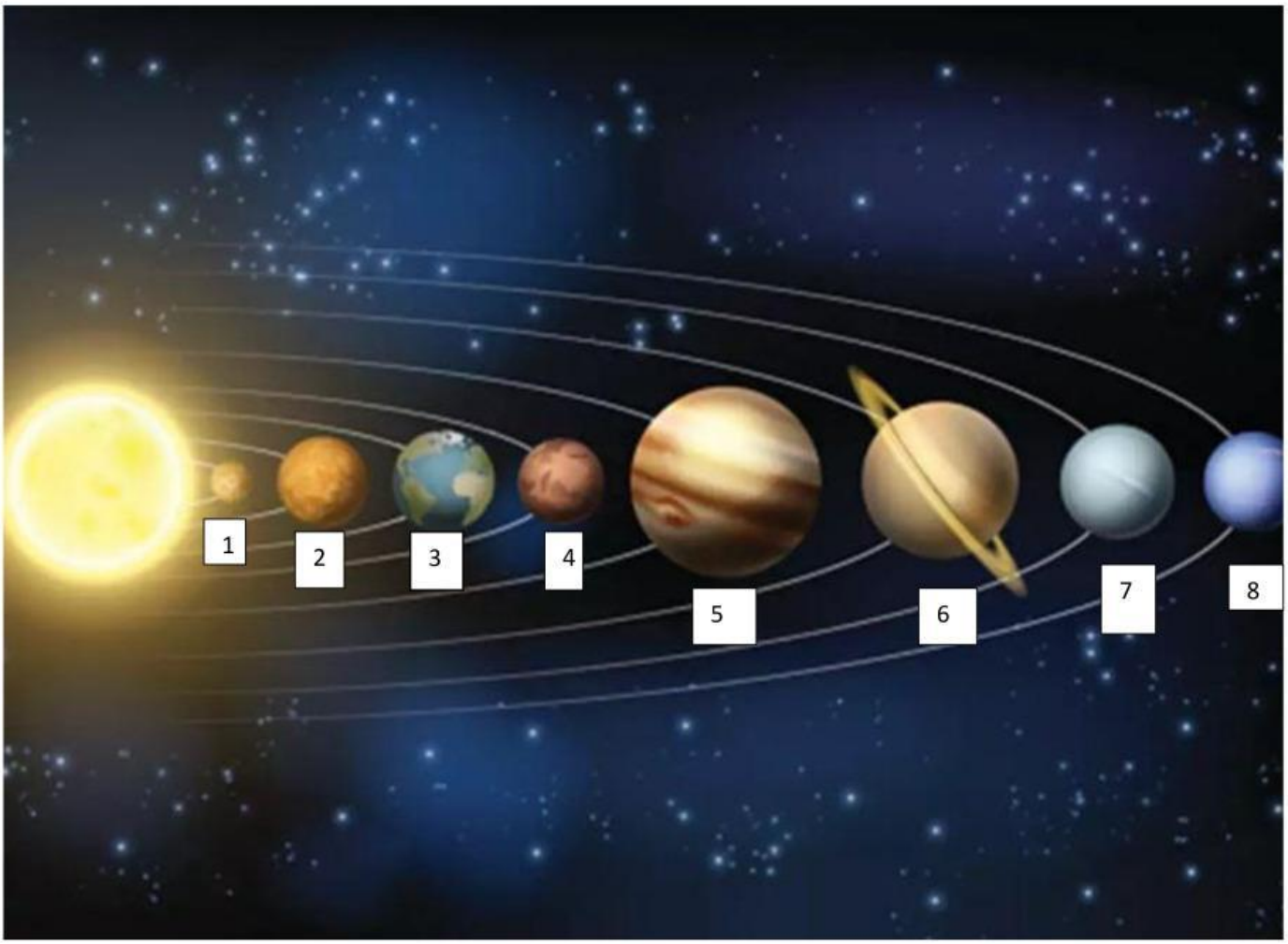

A. Isilah dengan pilihan di sebelah kanan

1. ……..
2. ……..
3. …….
4. …….
5. …….
6. …….
7. ……..
8. ……..

Pilihan Jawaban

a. Pluto
b. Merkurius
c. Jupiter
d. Neptunus
e. Bumi
f. Saturnur
g. Venus
h. Uranus
i. Mars

LIVEWORKSHEETS

B. Berilah tanda panah sesuai dengan gambar yang benar!

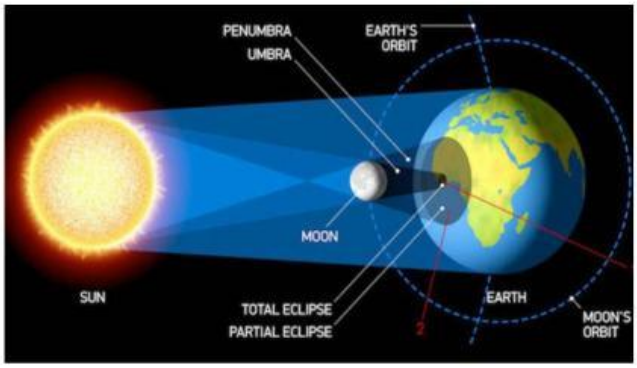

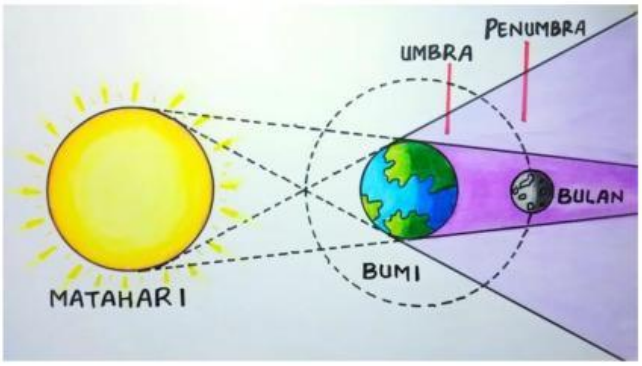

Gambar Gerhana Bulan

Gambar Gerhana Matahari

C. Isilah

Akibat Rotasi Bumi adalah

1. ……
2. ……
3. ……
4. ……

Akibat Revolusi bumi adalah

1. ……
2. ……
3. ……
4. ……
5. ……

D. Tulislah bagian-bagian dari Matahari

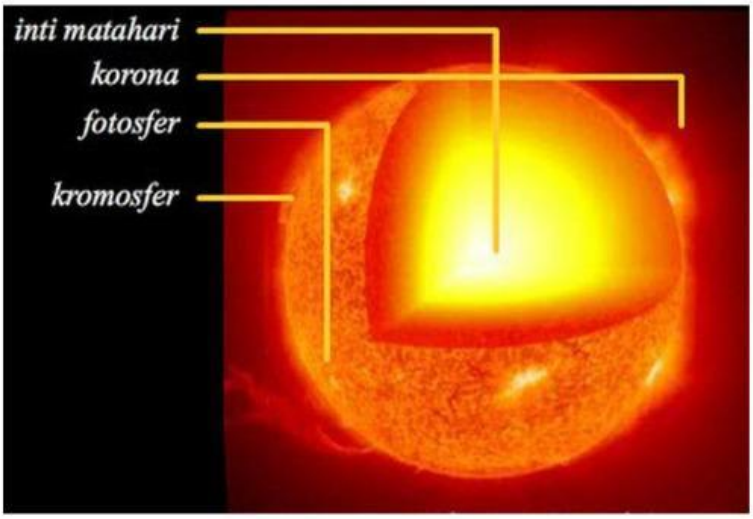

LIVEWORKSHEETS

E. Carilah kata dalam kotak-kotak ini,

(INTI, KORONA, BULAN, PLANET, KOMET, MARS, URANUS, GERHANA, KALENDER, VENUS, GALAKSI)

A	K	O	R	O	N	A	U
G	A	L	A	K	S	I	R
P	L	A	N	E	T	M	A
N	E	K	B	U	L	A	N
I	N	T	I	M	A	R	U
T	D	V	E	N	U	S	S
G	E	R	H	A	N	A	I
A	R	A	K	O	M	E	T

LIVEWORKSHEETS