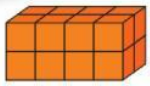

١ المُجسَّمُ الَّذِي حَجْمُه يُساوِي حَجْمَ المجَسَّم أَعْلاه هُو:

أ) 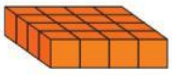

ب) 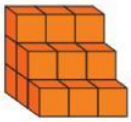

جـ) 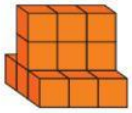

د)

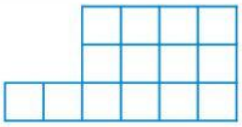

٢ إِذَا أُكمِلَ الشَّكلُ أَعلَاه لِيُصبِحَ مُستطيلًا بِإِضَافةِ أَربَعَةِ مُربعاتٍ؛ فَإِنَّ المُحيطَ:

أ) يَزدادُ بِمقدَارِ ٤ وحداتٍ

ب) يَنقصُ بِمقدارِ ٤ وحداتٍ

جـ) يَزدادُ بِمقدارِ وحدَتين

د) لا يَزدادُ ولا يَنقصُ

٣ يَعرضُ الجَدولُ المُجاورُ أوقاتَ بدء وانتهاء أَربَعَة طُلابٍ مِن حَلِّ الواجِبِ المَدرسِيِّ، مَن الطَّالبُ الأَسرَعُ؟

وَقتُ حَلِّ الوَاجِبِ

اسم الطالب	البداية (مساءً)	النهاية (مساءً)
أحمد	٢:٢٠	٣:٤٥
سامي	٢:٠٠	٣:٣٠
حسام	٣:٤٠	٥:٠٠
ناصر	٤:١٥	٥:٢٠

أ) أَحمدُ

ب) سَامي

جـ) حُسامُ

د) نَاصرُ

٤ في الشَّكلِ المُجَاورِ، أَيُّ العِبَاراتِ التاليةِ صَحِيحَة ؟

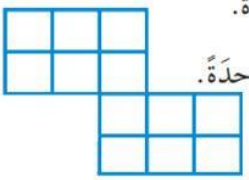

أ) المُحِيطُ يُسَاوِي ١٢ وِحدَةً.

ب) المُحِيطُ يُسَاوِي ١٤ وِحدَةً.

جـ) المُحِيطُ أَكبَرُ مِن ١٦ وِحدَةً.

د) المُحِيطُ أَقَلُّ مِن ١٨ وِحدَةً.

٥ أَيُّ الخَيارَاتِ التاليةِ يُمثِّلُ مُحيط المُستَطِيلَ؟



أ) ٦+٤

ب) ٦ × ٤ × ٢

جـ) ٦ × ٤

د) ٦ + ٤ + ٦ + ٤

٦ أَيُّ الأَشكَالِ التاليةِ أَكبَرُ مِسَاحةً؟

أ) 

ب)

جـ) 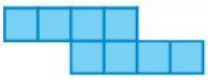

د)

٧ غَادَرَ قِطَارُ(سار) مَحطَةَ الرِّياضِ السَّاعةَ ٤٥ : ٧ صباحًا متجهًا إلى مَحطتِه الأَخيرَةِ فِي مَدينَةِ بُريدَة، إذا وَصَلَ بَعدَ سَاعَتينِ و١٨ دَقيقَةً، فَكَمْ كَانَ وَقتُ الوُصولِ؟

أ) ٩:١٥ صباحًا

ب) ١٠:٠٣ صباحًا

جـ) ١٠:١٣ صباحًا

د) ١٠:٥٣ صباحًا

LIVEWORKSHEETS

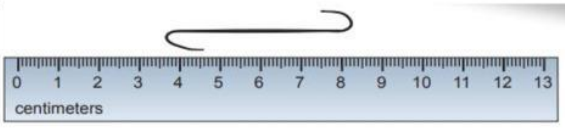

٨ إِذَا تَمَّ تَعديلُ القِطعةِ المعدِنيَّةِ فِي الرَّسمِ أَعْلاه لِتُصبحَ مُستقيمَةً، أَيُّ الأَطوَالِ التاليةِ هُو الأَقربُ إلى طُولِهَا؟

أ) ٥ سم
ب) ٧ سم
جـ) ٨ سم
د) ٩ سم

---

٩ إِذَا كَانتْ كُل وِحدةٍ في الشَّكلِ التالي تُمثلُ ١ سنتمترًا مربعًا، فَمَا مسَاحَة الشَّكلِ المُظَلَّلِ؟

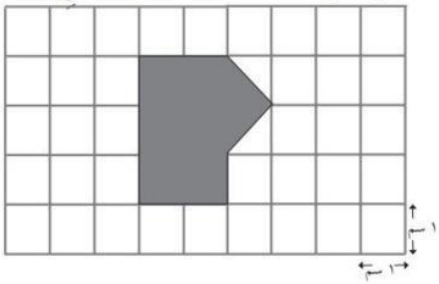

---

١٠ قِطْعةُ أَرضٍ مُربَّعةُ الشَّكلِ مسَاحَتهُا ١٠٠ مِترٍ مُربعٍ، سَارَ وَليدٌ حَولَ تِلكَ القِطعَةِ ٤ مراتٍ، مَا المسَافَةُ الَّتِي قَطعَها وَليدٌ خِلالَ سَيرِهِ حَولَ القِطعَةِ؟

---

١١ أَيُّ الكِمِّيَّاتِ التاليةِ يُمكنُ أَنْ تُساوِي ١٥٠ مِللتر؟

أ) مَاءٌ فِي كوبٍ زُجاجِيٍّ.
ب) نِفْطٌ فِي صِهرِيجٍ.
جـ) دَواءٌ فِي مِلعَقةٍ.
د) مَاءٌ فِي بِركةِ سِباحَةٍ .

---

١٢ شَاهدَتْ رِيمُ أَربَعةَ مَقاطعِ فيديو تَعليميَّة بشَكلٍ مُتَتَالٍ عَبرَ مِنَصةِ مَدرَستِي، إِذَا كَانَ زَمَنُ عَرضِ المَقطَعِ الأَوَّلِ وَالثَّانِي مَعًا ثُلث سَاعَةٍ، والمَقطَعِ الثَّالِثِ ٨ دَقائِق، وَالمَقطَعِ الرَّابِعِ ٧ دَقائِق، وَبَدأتْ رِيمُ مُشَاهدَةَ المَقاطِعِ فِي تَمامِ السَّاعَةِ ١٠:٣٠، فَمَتى تَنتَهِي مِن مُشاهَدَةِ جَميعِ المَقاطِعِ؟

أ) ١١:٠٠
ب) ١١:٠٥
جـ) ١١:١٠
د) ١٠:٤٥

---

١٣ لَدى المُهندسَةُ سَارةُ دَورةٌ تَدريبيةٌ عَن بِناءِ الأَلوَاحِ الشَّمسيَّةِ فِي المَزارِعِ، تَبدأُ الدَّورةُ فِي السَّاعَةِ الثَّامِنةِ صَباحًا، وَتَستغرِقُ المَسافَةُ بَينَ بَيتِ سَارةِ وَمَقرِّ الدَّورةِ ٤٠ دَقِيقةً. إِذَا اعتَادتْ سَارةُ الخُروجَ مِن البَيتِ عِندَ السَّاعَةِ ٧:٣٠ صَباحًا، فَهلْ تَتمكَّنُ مِن حُضورِ بِدايةِ الدَّورةِ؟
فسر إجابتك.

أتدَّربُ

من خلال الإجابة عن الأسئلة؛ حتى أعزِّزَ ما تعلمتُهُ من مفاهيمَ وما اكتسبتُهُ من مهارات.

أنا طالبٌ معدٌّ للحياةِ، ومنافسٌ عالميًّا.

LIVEWORKSHEETS