SOAL PENLAIAN HARIAN MATEMATIKA
BANGUN RUANG DAN JARING-JARINGNYA

MENJODOHKAN

Hubungkanlah pernyataan di Kolom A dengan jawaban yang tepat di Kolom B

KOLOM A	KOLOM B
Bangun ruang balok	
Jumlah sisi pada balok	Segi tiga
Jumlah rusuk balok	5
Jumlah sisi limas segi empat	Lingkaran
Bentuk sisi alas tabung	12
Jaring-jaring balok	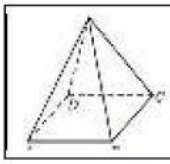
Jaring-jaring kubus	
Bangun ruang Limas segi empat	6
Bangun ruang prisma segi tiga	
Bentuk sisi alas limas segi tiga	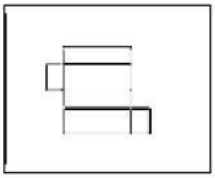

LIVEWORKSHEETS