Quiz! 8

Jawablah beberapa pertanyaan berikut untuk mengetahui sejauh mana pemahaman kalian terhadap materi yang sudah dipelajari.

Nama : _____ **Kelas :** _____

1. Berikan keterangan nama-nama proses yang sesuai pada gambar proses pelapukan berikut!

.....



.....



.....

.....

.....

2. Lengkapilah informasi pada tabel dibawah ini!

Jenis	Penyebab	Contoh
.....	.....	
.....	Reaksi kimia dan pengendapan asam	
Pelapukan Biologi		.....

Pelapukan Kimiawi

Angin, air, perubahan tempetatur, dan pembekuan

Pelapukan Mekanik

Akar tumbuhan, hewan penggali dan bakteri

LIVEWORKSHEETS

Quiz! 9

Jawablah beberapa pertanyaan berikut untuk mengetahui sejauh mana pemahaman kalian terhadap materi yang sudah dipelajari.

Nama : _____ **Kelas :** _____

1. Cocokan proses erosi berikut dengan gambar fenomena alam hasil erosi yang sesuai!

Abrasi

Eksarasi

Korosi

Ablasi

2. aku kehabisan pertanyaan jadi silakan nikmati video berikut tentang eksperimen erosi dari channel ruangguru.

LIVEWORKSHEETS

Quiz! 10

Jawablah beberapa pertanyaan berikut untuk mengetahui sejauh mana pemahaman kalian terhadap materi yang sudah dipelajari.

Nama : _____ **Kelas :** _____

1. Cocokan bentuk bentang alam berikut dengan tenaga sedimen pembentuknya!



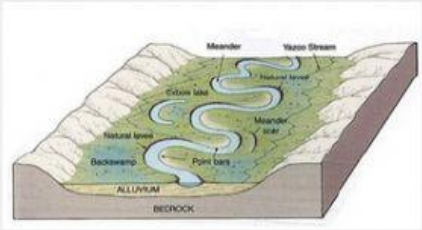

.....	.....	.....
Marine	**Fluvial**	**Aeolian**

2. video lagi aja ya ges

LIVEWORKSHEETS