EM VUI HỌC TOÁN • Tuần 26

Câu 1. Xăng ti mét viết tắt là

A. m. **B.** cm. **C.** mm. **D.** l.

Câu 2. Dấu thích hợp điền vào chỗ chấm là

75 ... 69

A. > **B.** < **C.** = **D.** Dấu khác

Câu 3. Em hãy cho biết số đo của hộp màu.

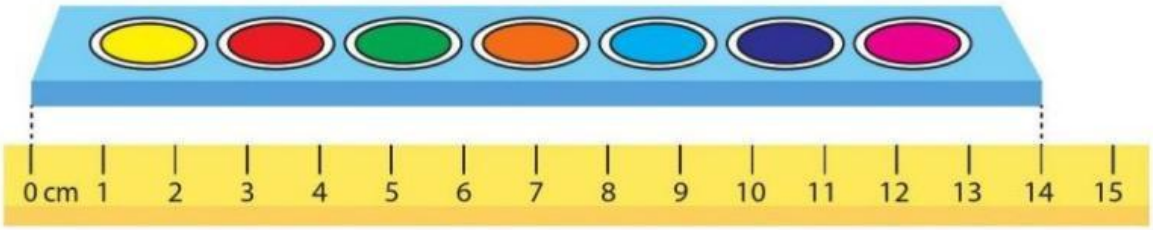

A. 11 cm. **B.** 12 cm.

C. 13 cm. **D.** 14 cm.

Câu 4. Băng giấy nào ngắn hơn?

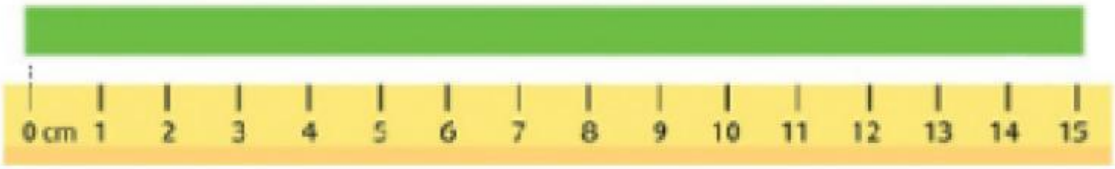

A. Băng giấy màu hồng.

B. Băng giấy màu xanh.

LIVEWORKSHEETS

EM VUI HỌC TOÁN • Tuần 26

Câu 5. Em hãy nhìn và viết số đo vào ô trống

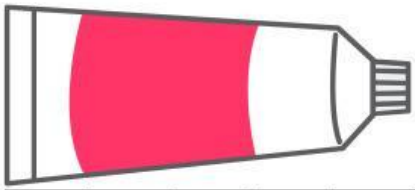

Tuýp màu có độ dài bằng ..... ô vuông.

Chiếc cọ có độ dài bằng ..... ô vuông.

Câu 6. Cho các số



a. Số lớn nhất là ☐

b. Số bé nhất là ☐

c. Xếp theo thứ tự từ bé đến lớn:

☐ ☐ ☐ ☐

d. Xếp theo thứ tự từ lớn đến bé:

☐ ☐ ☐ ☐

LIVEWORKSHEETS