EM VUI HỌC TOÁN • Tuần 26

Câu 1. Chiếc váy nào dài nhất?

A **B** **C** **D**

Câu 2. Dấu thích hợp điền vào chỗ chấm là

45 ... 47

A. > **B.** < **C.** = **D.** Dấu khác

Câu 3. Em hãy cho biết số đo của cây bút chì

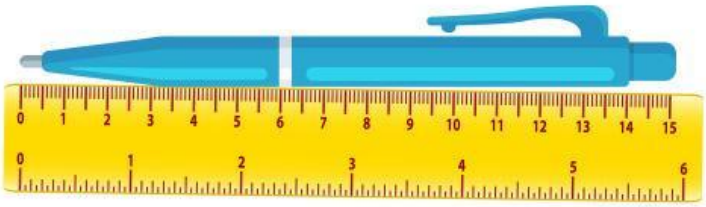

A. 12 cm. **B.** 13 cm.

C. 14 cm. **D.** 15 cm.

LIVEWORKSHEETS

Câu 4. Em hãy nhìn và viết số đo vào ô trống.

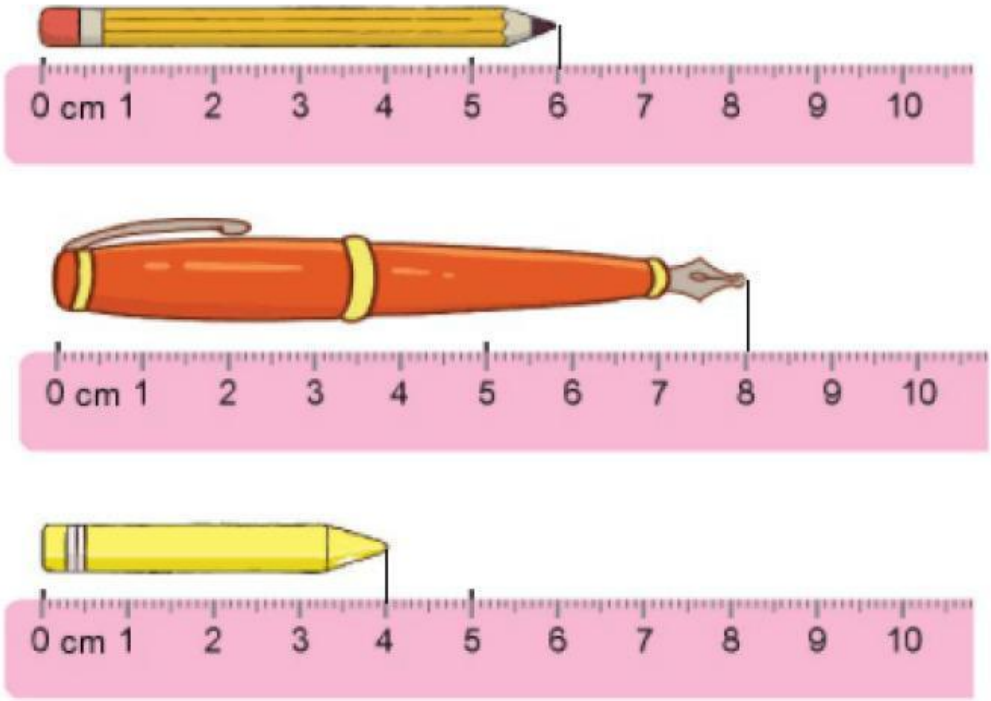

a)



Câu 5. Cho dãy số: **45, 68, 12, 90.**

a. Số lớn nhất là:.....

b. Số bé nhất là.....

c. Xếp theo thứ tự từ bé đến lớn:

☐ ☐ ☐ ☐

LIVEWORKSHEETS