1. Complete el organizador gráficos sobre los cantones de Tungurahua.

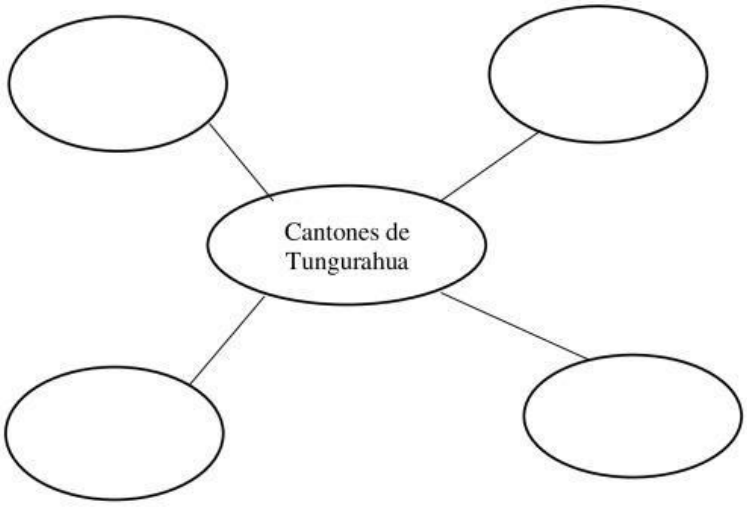

2. Escriba los límites del catón Ambato.

Norte: ……

Sur: ……

Este: ……

Oeste: ……

3. Escriba una V si es verdadero o una F si es falso los siguientes enunciados.

a) Los derechos de los niños son: Educación, salud, familia, nombre, jugar. ( )

b) El cantón Ambato se encuentra en la provincia de Pichincha. ( )

4. Observe los gráficos y complete los nombres de las instituciones que prestan ayuda en caso de un desastre natural. (Bomberos – Policía – Cruz Roja – Hospital)

_____

_____

_____

_____

LIVEWORKSHEETS

5. Complete con las palabras del recuadro.

Alcalde – Comisario – cantones – Tungurahua

a) La provincia esta formada por la unión de……

b) El cantón Baños pertenece a la provincia de……..

c) Máxima autoridad del catón……

d) Autoridad que controla los precios de los productos……..

6. Complete el siguiente mapa conceptual sobre el cantón con las palabras del recuadro.

Parroquias - Urbanas - Rurales - Cabecera - Cantonal

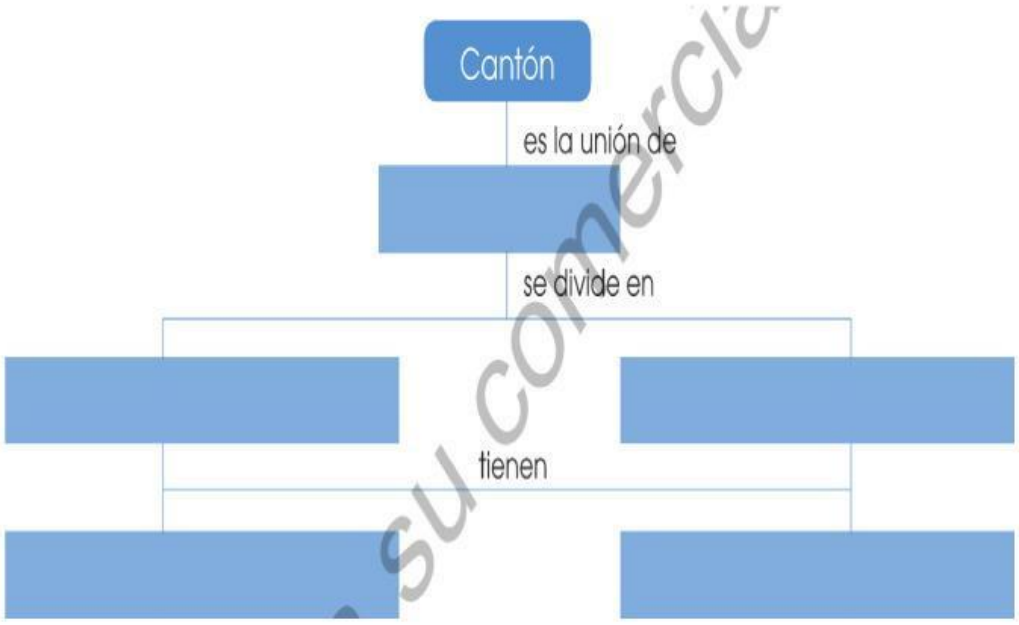

7. Escriba los símbolos de su provincia.

_____ _____

LIVEWORKSHEETS

HIMNO A TUNGURAHUA

CORO

Con la voz de Agoyán -voz del agua-
elevemos un himno de hermanos,
que en Ambato -con el Tungurahua
cielo y tierra se estrechan las manos.

ESTROFA I

Nuestra tierra avalancha de oro,
se prodiga a los cuatro horizontes,
con la audacia brioso del coro
de sus valles, sus ríos, sus montes.
Es crisol y también es cisterna
en su seno la idea se escancia;
voluntad a su fuerza; constancia,
su virtud palpitante y eterna.

ESTROFA II

Con el fuego de nuestros volcanes
encendieron las flamas la aureola
de este noble solar de los Juanes,
que es una india con alma española.
Y su pecho es un bronce sonoro
en que vibra este lema sagrado:
libertad e hidalguía, tesoro
de la pluma y también del arado.

Letra: _____

Música: _____

8. Una con líneas la fiesta tradicional con la ciudad.

- Fiesta de la fruta y de las flores
- Mama Negra
- Romería y peregrinación Virgen del Cisne
- El carnaval

- Loja
- Guaranda
- Ambato
- Latacunga

9. Una con líneas la provincia con su capital.

- Galápagos
- Tungurahua
- Pichincha
- Pastaza

- Quito
- Puyo
- Pto. Baquerizo Moreno
- Ambato

10. Observe el mapa del Ecuador, y escriba las regiones naturales.

- Sierra
- Oriente
- Galápagos
- Costa



LIVEWORKSHEETS