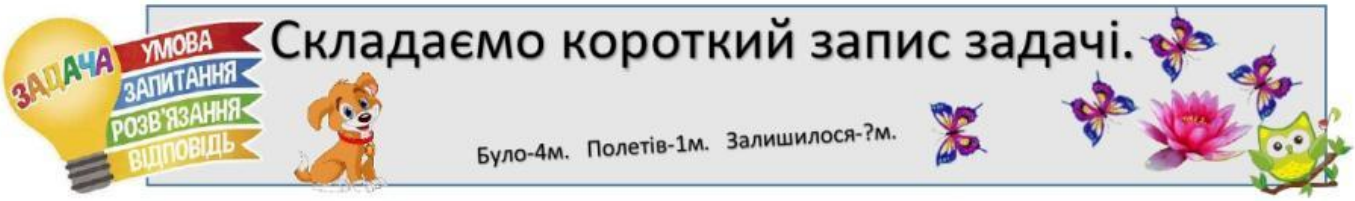

1. Обчисли.

3+3-4=	4-4+5=	6-0+3=
9-3-4=	7+3-2=	8-4-4=
5+4+1=	6-4+7=	8+1-3=

2. Розв'яжи задачу.

У Діани було 5 кактусів. Тато подарував їй ще 4 кактуси. Скільки кактусів стало у Діани?

Було — ☐ к.
Подарував — ☐ к.
Стало — ? к.

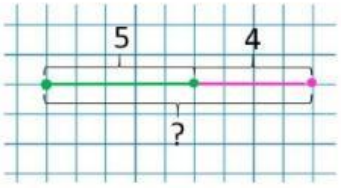

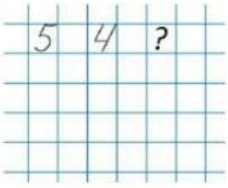

Відповідь: ☐ кактусів стало у Діани.

3. Допоможи синичкам добратися до годівничок.

4. Виконай інтерактивну вправу.

LIVEWORKSHEETS