# LKPD

# SISTEM EKSKRESI MANUSIA



KERJAKAN Soal di bawah ini !

1. Jika seluruh darah dalam tubuh melewati ginjal dalam 5 menit, berapa kali seluruh darah tersebut melewati ginjal selama satu jam?

A. 20 kali
B. 12 kali
C. 6 kali
D. 5 kali

2. Zat sisa metabolisme berikut yang diangkut oleh pembuluh kapiler menuju alveolus paru-paru adalah ....

I. Karbon dioksida
II. Air
III. Garam mineral

SISTEM EKSKR

LIVEWORKSHEETS

A. I dan II
B. I dan III
C. II dan III
D. I, II, dan III

3. pilihlah sesuai dengan zat yang dikeluarkan dari organ system ekskresi

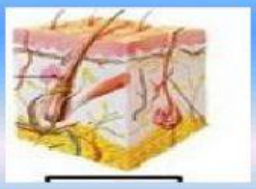

pilihlah nama-nama bagian proses pembentukan urine yang tertera pada huruf P, Q, dan R!

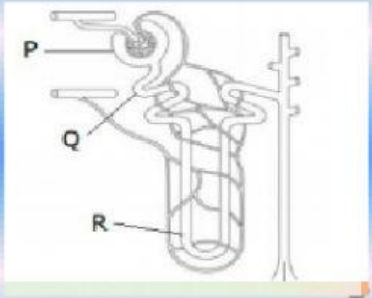


P
Q
R

4. Buatlah garis ke jawaban dengan benar!

| | |
|---|---|
| Bintil-bintil kecil berwarna merah, terasa gatal atau perih, umumnya muncul ketika keringat berlebih saat cuaca panas atau lingkungan yang sangat lembab. | Nefron |
| unit penyaring darah di dalam ginjal. | Heme dan globin |
| Hemoglobin yang terkandung dalam sel darah merah dipecah menjadi | Biang keringat |

LIVEWORKSHEETS

Tariklah nama bagian-bagian organ sesuai dengan gambar!

Bagian-bagian organ ginjal

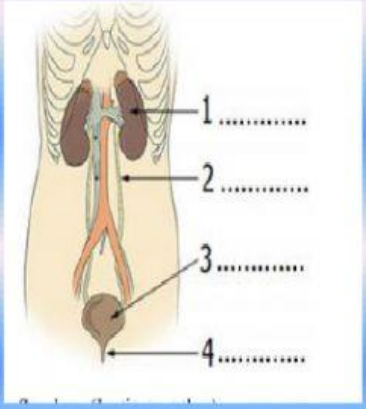


Nama bagian organ

1.

2.

3.

4.

pilihan bagian organ

KANTUNG KEMIH

URETRA

GINJAL

URETER

SISTEM EKSKRESI BY NUR IFTA'UL

LIVEWORKSHEETS