الكسور المكافئة / الصف الخامس
تدريب تيمس
اناث ماركا الاعدادية الاولى

Q1- اكتبي الكسر المكافئ الصحيح

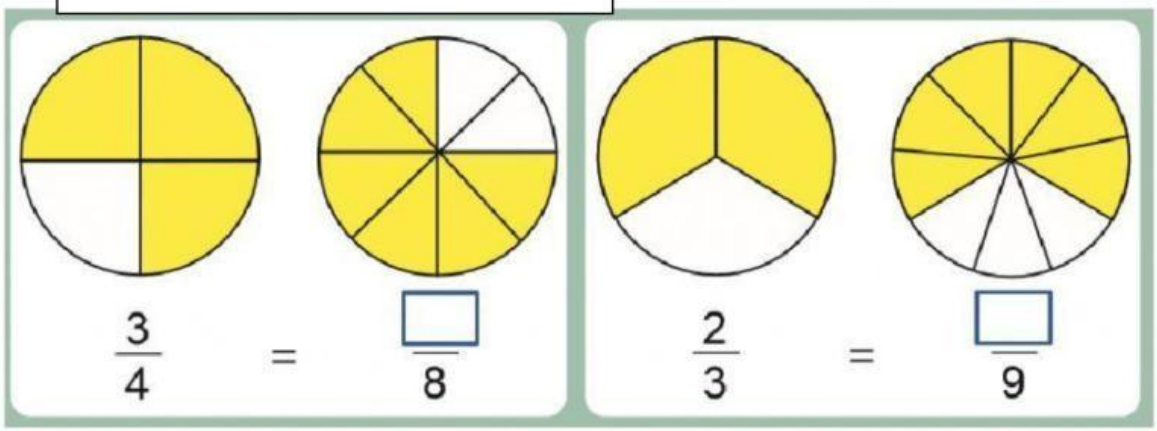

Q2- اختارى الأشكال الذى تكافئ الكسر ثلث1/3

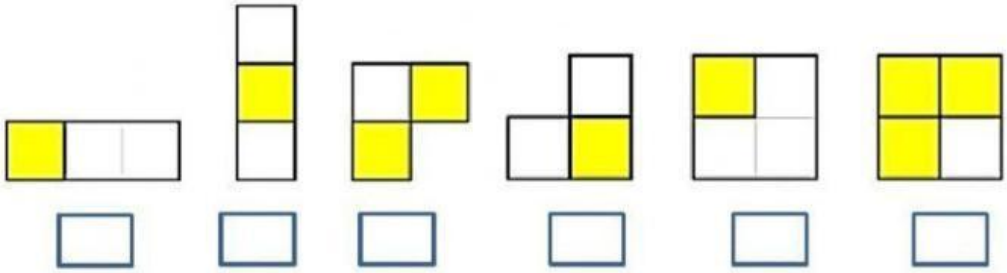

b) اختارى الأشكال التى تكافئ الكسر نصف2/1

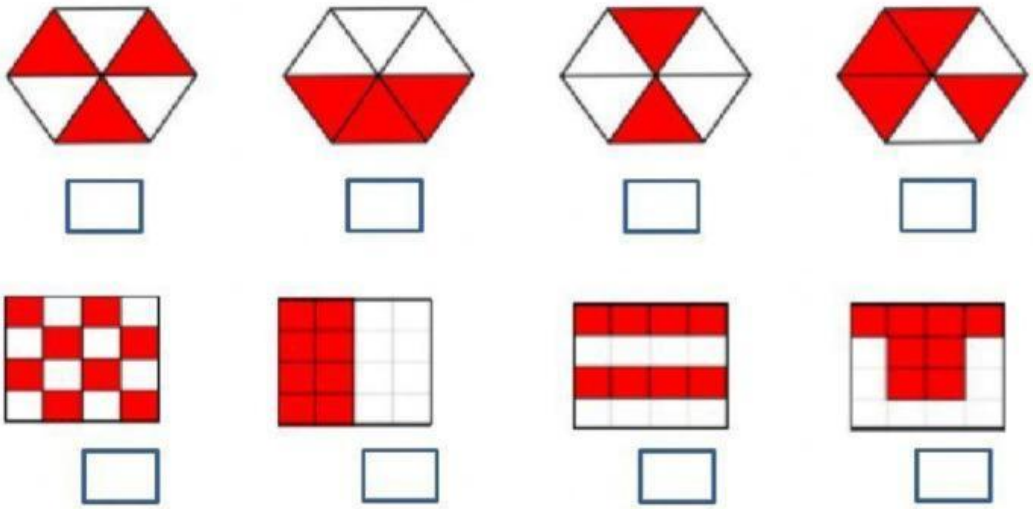

LIVEWORKSHEETS

LIVEWORKSHEETS

Q3- اكملي الفراغ بما يناسبها ليكون كسر مكافئ صحيح

$\frac{1}{3} = \frac{2}{\square}$ $\frac{1}{3} = \frac{3}{\square}$ $\frac{1}{3} = \frac{4}{\square}$ $\frac{1}{3} = \frac{5}{\square}$

$\frac{1}{3} = \frac{6}{\square}$ $\frac{1}{3} = \frac{7}{\square}$ $\frac{1}{3} = \frac{8}{\square}$ $\frac{1}{3} = \frac{9}{\square}$

$\frac{1}{9} = \frac{5}{\square}$ $\frac{1}{8} = \frac{4}{\square}$ $\frac{1}{12} = \frac{3}{\square}$ $\frac{1}{8} = \frac{\square}{32}$

Challenge

$\frac{1}{3} = \frac{\square}{99}$ $\frac{1}{3} = \frac{20}{\square}$ $\frac{1}{3} = \frac{\square}{120}$ $\frac{1}{3} = \frac{25}{\square}$

$\frac{7}{8} = \frac{\square}{56}$ $\frac{2}{3} = \frac{\square}{36}$ $\frac{5}{6} = \frac{\square}{48}$ $\frac{3}{7} = \frac{\square}{84}$

LIVEWORKSHEETS

LIVEWORKSHEETS