Name : _____

Class : _____

1

ASESMEN FORMATIF

Pengumpulan dan Penyajian Data

Pindah (*Drag*) dan tempatkanlah (*Drop*) diagram penyajian data berikut sesuai dengan namanya !

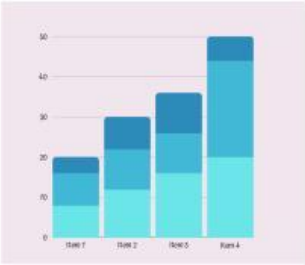

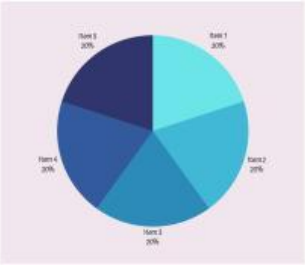

Diagram Lingkaran	Diagram Batang	Diagram Garis

LIVEWORKSHEETS

Untuk menjawab soal nomor 1-5, perhatikan diagram lingkaran berikut ini !

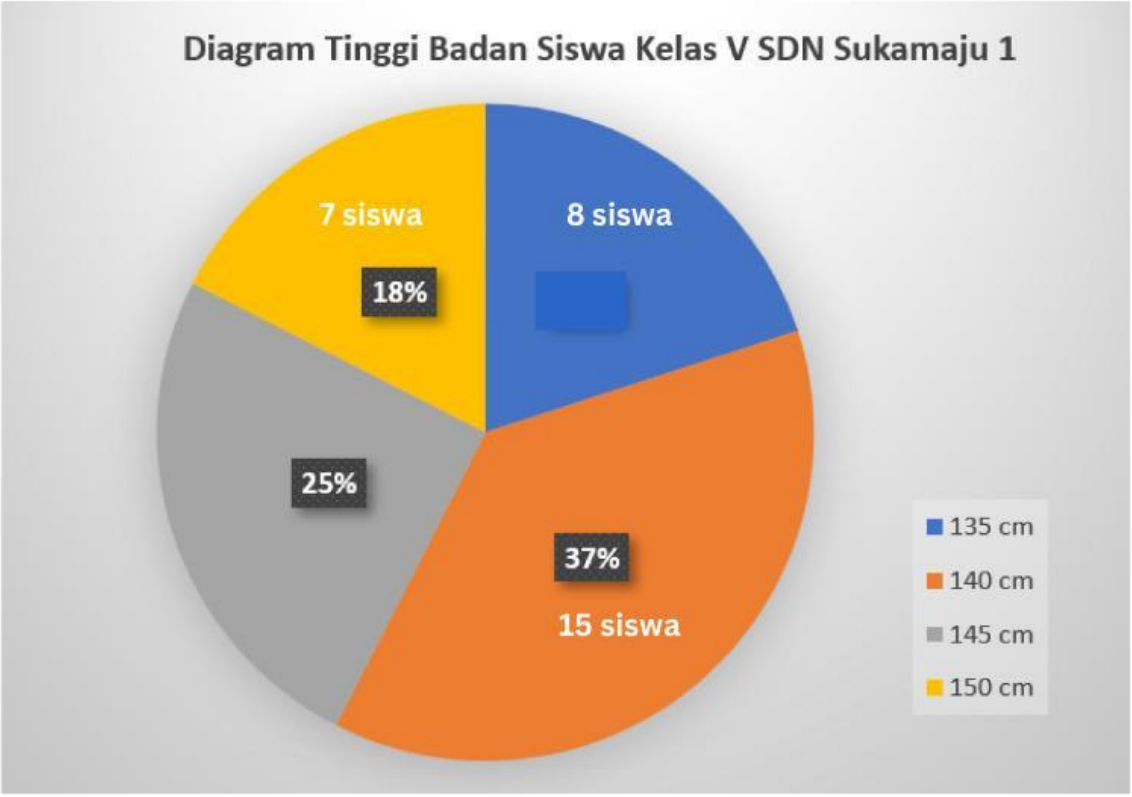

1. Jika jumlah seluruh siswa kelas V SDN Sukamaju 1 ada 40 orang, maka banyaknya siswa yang memiliki tinggi badan 145 cm sebanyak . . . .
2. Banyaknya bagian siswa yang memiliki tinggi badan 135 cm adalah . . . . %
3. Tinggi badan siswa yang paling banyak di kelas V adalah . . . .
4. Selisih siswa yang memiliki tinggi badan 140 cm dan 145 cm sebanyak . . . .
5. Jumlah siswa yang memiliki tinggi badan 135 cm dan 150 cm sebanyak . . . .

LIVEWORKSHEETS