โรงเรียนแสงวิทยา

วิชา คณิตศาสตร์ ชั้นประถมศึกษาปีที่ ๕

เรื่อง เส้นขนาน

ชื่อ.....นามสกุล.....ชั้น.....เลขที่.....

คำชี้แจง จงเลือกคำตอบที่ถูกที่สุด

1. จากรูป x มีขนาดกี่องศา

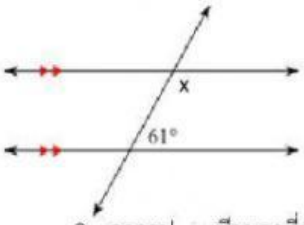

ก. 103°
ข. 119°
ค. 120°
ง. 114°

2. จากรูป x มีขนาดกี่องศา

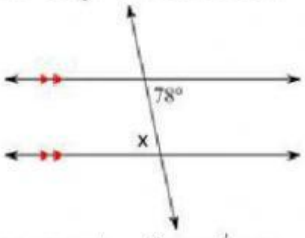

ก. 78°
ข. 102°
ค. 111°
ง. 69°

3. จากรูป x มีขนาดกี่องศา

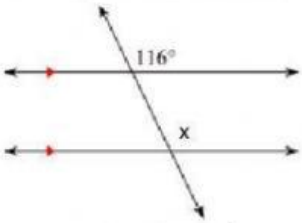

ก. 56°
ข. 64°
ค. 116°
ง. 117°

4. จากรูป x มีขนาดกี่องศา

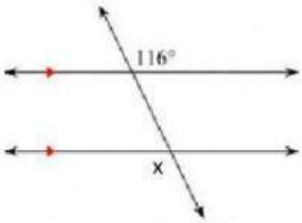

ก. 56°
ข. 64°
ค. 116°
ง. 117°

5. จากรูป x มีขนาดกี่องศา

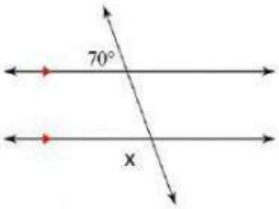

ก. 60°
ข. 70°
ค. 110°
ง. 120°

6. จากรูป x มีขนาดกี่องศา

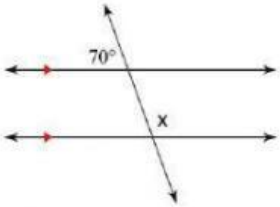

ก. 60°
ข. 70°
ค. 110°
ง. 120°

7. จากรูป จงหาขนาดของ x

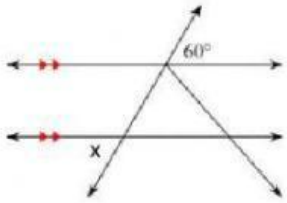

ก. 75°
ข. 74°
ค. 60°
ง. 46°

8. จากรูป จงหาขนาดของ x

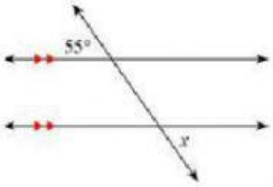

ก. 55°
ข. 75°
ค. 115°
ง. 125°

9. จากรูป x มีขนาดกี่องศา

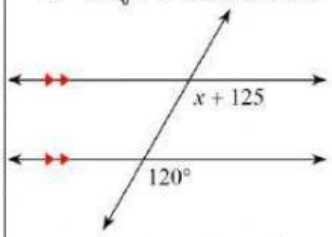

ก. 12°
ข. 10°
ค. 11°
ง. -5°

10. จากรูป x มีขนาดกี่องศา

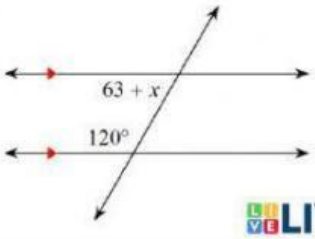

ก. -3°
ข. -5°
ค. -6°
ง. -7°

LIVEWORKS
LIVEWORKSHEETS

11. จากรูป x มีขนาดกี่องศา

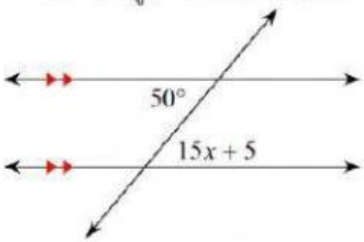

ก. -7°

ข. 3°

ค. 5°

ง. 9°

12. จากรูป x มีขนาดกี่องศา

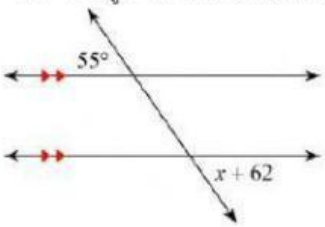

ก. 7°

ข. -7°

ค. -9°

ง. 9°

13. ถ้า $\overleftrightarrow{AB} // \overleftrightarrow{CD}$, $B\hat{A}E = 50^\circ$ และ $E\hat{C}D = 30^\circ$ ดังนั้น X มีขนาดกี่องศา

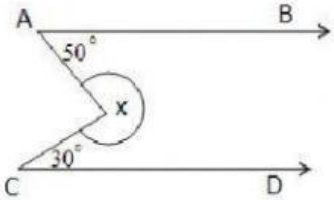

ก. 130°

ข. 150°

ค. 270°

ง. 280°

14. จากรูป $\overleftrightarrow{AB} // \overleftrightarrow{CD}$, m มีขนาดเท่าใด

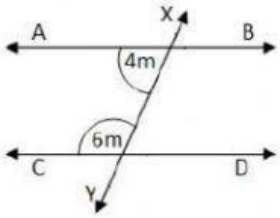

ก. 10°

ข. 15°

ค. 18°

ง. 20°

15. จากรูป จงหาขนาดของ m

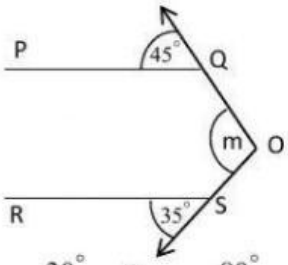

ก. 30° ข. 80°

ค. 100° ง. 180°

16. จากรูป $\overleftrightarrow{AB} // \overleftrightarrow{EF}$, x กางกี่องศา

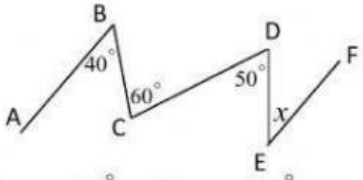

ก. 10° ข. 20°

ค. 30° ง. 40°

17. จากรูป จงหาขนาดของ m

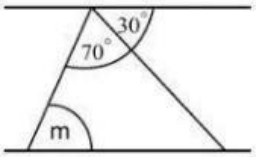

ก. 30° ข. 80°

ค. 100° ง. 180°

18. จากรูป $\overleftrightarrow{AB} // \overleftrightarrow{CD}$, m มีขนาดเท่าใด

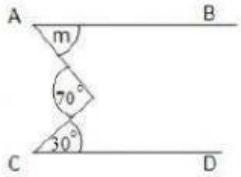

ก. 10°

ข. 20°

ค. 30°

ง. 40°

19. จากรูป จงหาขนาดของ m

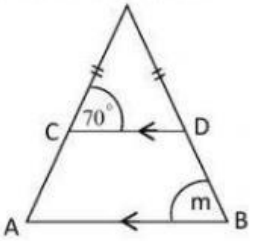

ก. 70° ข. 80°

ค. 100° ง. 110°

20. จากรูป จงหาขนาดของ m

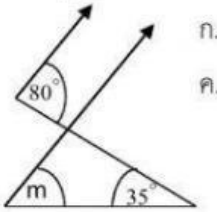

ก. 35° ข. 40°

ค. 45° ง. 100°

LIVEWORKSHEETS