COLEGIO DIEGO THOMSON

APLICANDO
EL TEOREMA DE PITÁGORAS

Apellidos y nombre: _____

Profesor: Jaime Antonio Cedamanos Torres

1.- Resuelve las siguientes operaciones

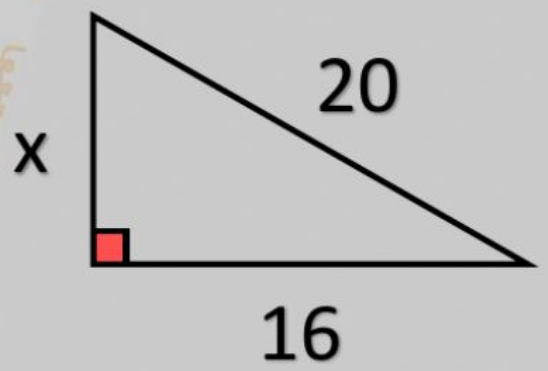

x = ☐

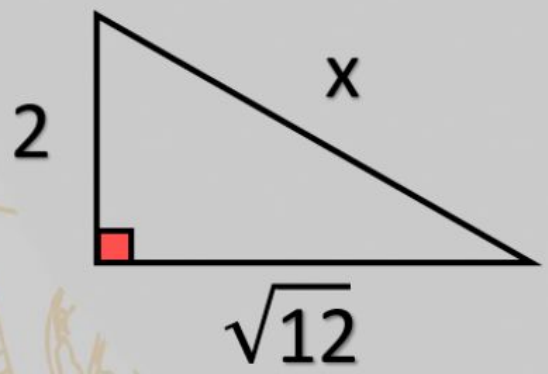

x = ☐

LIVEWORKSHEETS

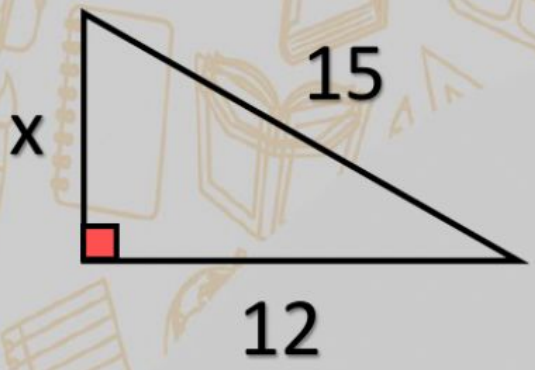

x = ☐

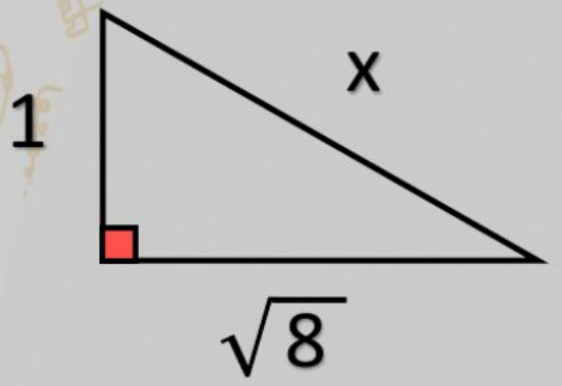

x = ☐

2.- Resuelve las siguientes operaciones

A los lados adyacentes a un triángulo rectángulo se le conoce como _____ y al que se encuentra frente de ese ángulo se le llama _____.

Eres lo máximo

LIVEWORKSHEETS