ESCUELA DE EDUCACIÓN BÁSICA FISCOMISIONAL "CRISTO REY"

Esmeraldas - Ecuador

EVALUACIÓN DE MATEMATICAS DEL 1ER TRIMESTRE

NOMBRE: _____

AÑO BASICO: 5to **PARALELO: A-B-C-D**

ASIGNATURA: MATEMATICAS **FECHA**_____

DOCENTES: Lcda: Carolina Holguín

1) Une con líneas las palabras con su significado según corresponda.

- a)EQUILATERO
- b) ISÓSCELES
- c) ESCALENO
- d) PERIMETRO

1) SUMA DE LADOS
2)TRES LADOS DIFERENTES
3) TRES LADOS IGUALES
4) DOS LADOS IGUALES

2) Calcular el perímetro de la siguiente figura y subraya la alternativa correcta.

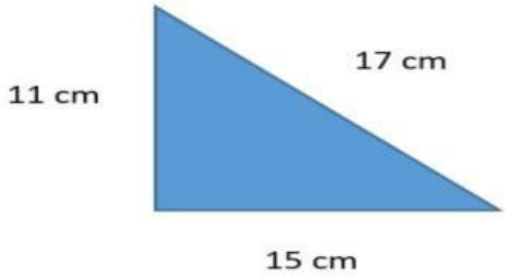

a)43 b)44 c)50

3) COLOREO LA FRACCIÓN SEGÚN CORRESPONDA

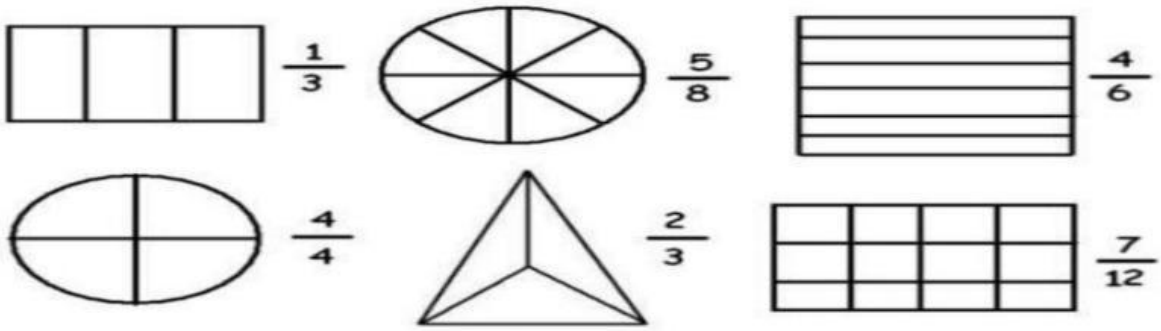

LIVEWORKSHEETS

4) Pinto el número que corresponde a la lectura indicada.

Nueve décimos:

a) 0,09 b) 0,009 c) 0,9 d) 9,0

Doce enteros con veinticinco milésimos.

12,25 b) 12,025 c) 12,25 d)12,250

5) Un número decimal tiene:

a). Parte entera y una fracción

b) Parte entero y entera

c) Parte decimal y fracción

d) Parte entera, la coma decimal y parte decimal

6) Realizar las siguiente suma.

1.2La mamá de Alison compró en el supermercado 2,15 dólares de durazno, 2,50 de frutillas, 1,25 crema de leche, 0,50 de azúcar, 0,65 de leche,2,18 de manzanas, ¿Cuánto pagó en tota

a. 8,34

b. 9,23

c. 9,83

d. 10,90

LIVEWORKSHEETS

ESCUELA DE EDUCACIÓN BÁSICA FISCOMISIONAL "CRISTO REY"

Esmeraldas - Ecuador

603,02 + 15,601

C	D	U ,	d	c	m
		,			
		,			
		,			

95,345 + 190,02

C	D	U ,	d	c	m
		,			
		,			
		,			

400 – 18,306

C	D	U ,	d	c	m
		,			
		,			
		,			

19,57 – 1,006

C	D	U ,	d	c	m
		,			
		,			
		,			

LIVEWORKSHEETS

ESCUELA DE EDUCACIÓN BÁSICA FISCOMISIONAL "CRISTO REY"

Esmeraldas - Ecuador

6. Leer y unir la escritura con la fracción y la representación gráfica de la fracción

Un tercio $\frac{3}{5}$

Dos quintos $\frac{2}{3}$

Cuatro quintos $\frac{1}{3}$

Dos tercios $\frac{4}{5}$

Tres sextos $\frac{2}{5}$

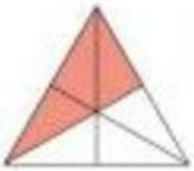

Tres quintos $\frac{3}{6}$

LIVEWORKSHEETS