RETO MATEMATICO 2



Cada uno de los animales que aparecen en este cuadro representa un número que va del 1 al 9.

Averigua el valor de cada animal, sabiendo que la suma de cada fila y de cada columna tiene que dar el número indicado.



¿De qué animal se trata?

Las letras de este cuadro están rodeadas de números. Suma los cuatro números situados encima, debajo y a los lados de cada letra y si el resultado es igual a 10, coloréala.

Por ejemplo:

Con las letras coloreadas podrás formar el nombre de un simpático roedor.



LIVEWORKSHEETS