Nama: _____

Kelas: _____ Tarikh/Hari: _____

Padankan nama poligon dan nyatakan bilangan sisinya.

Poligon	Bilangan sisi	Nama poligon
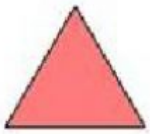		
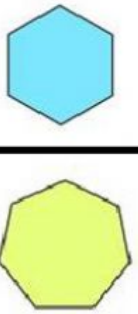		
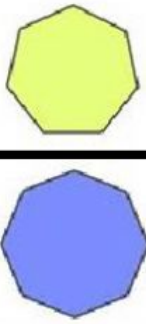		
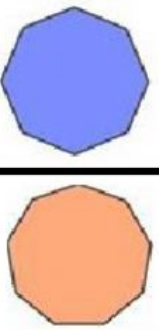		
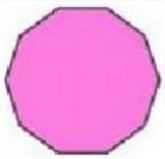		

Heksagon

Nonagon

Segitiga

Dekagon

Heptagon

Oktagon

Segi empat

Pentagon

LIVEWORKSHEETS

Selesaikan penyelesaian masalah melibatkan perimeter objek 2 dimensi. (2D).

1.

Rajah 1

Perimeter sekeping jubin mozek diatas yang berbentuk segi empat sama adalah 120cm. Cari Panjang setiap sisi jubin mozek tersebut?

Jawapan: _____

2.

Rajah 2: Alas Kaki

Diberi perimeter objek diatas adalah 210cm. Lebar objek adalah 45cm, Cari panjang objek?

Jawapan: _____

Seronok Belajar Matematik

LIVEWORKSHEETS

3.

Rajah 3

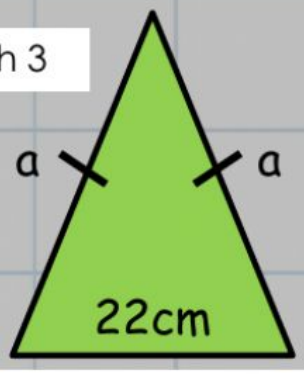

Rajah diatas merupakan sebuah segi tiga kaki sama? Sekiranya perimeter rajah tersebut adalah 78cm. Cari panjang sisi **a**?

Jawapan: _____

4.

Rajah 4

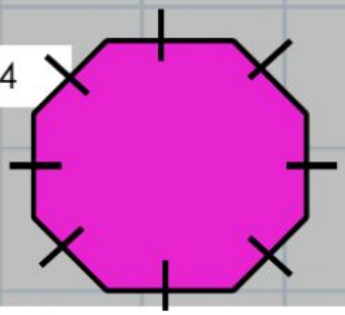

Rajah diatas merupakan sebuah oktagon sekata dengan panjang setiap sisi adalah 15cm. Cari perimeter rajah tersebut.

Jawapan: _____

5.

Sebuah bilik darjah di sebuah sekolah berbentuk segi empat tepat. Panjang dan lebar bilik darjah tesebut masing-masing 4m dan 3m? Cari perimeter bilik darjah tersebut.

Jawapan: _____

Seronok Belajar Matematik

ikgu wan Rosmalina – SMKPG2 - SPADU

LIVEWORKSHEETS