Môn: TOÁN

Tuần 21 - Phiếu 2

TOÁN HỌC THẬT VUI

THỬ THÁCH 1.

Câu 1. Em hãy chọn những que kem có số tròn chục.

Câu 2. Số tròn chục liền trước của 30 là

10 20 30 40

Câu 3. Số tròn chục liền sau của 80 là

60 70 80 90

Câu 3. Số tròn chục ở giữa của 50 và 70 là

40 50 60 70

LIVEWORKSHEETS

Môn: TOÁN

Tuần 21 - Phiếu 2

TOÁN HỌC THẬT VUI

THỬ THÁCH 2.

Câu 4. Em hãy viết số lượng tương ứng ở mỗi tranh.

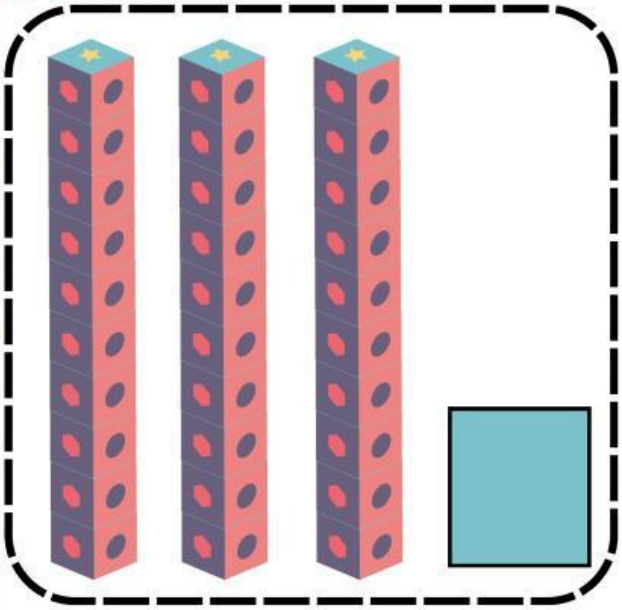

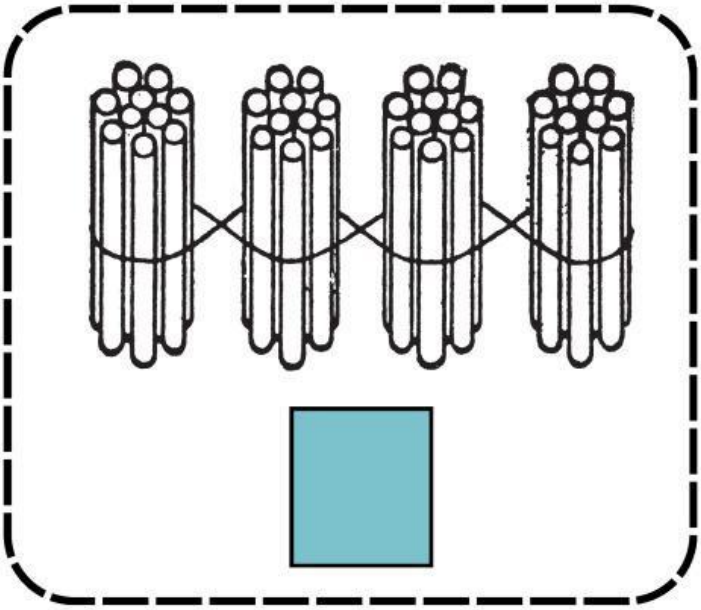

Câu 5. Em hãy viết các số tròn chục.



Đố em: Số tròn chục lớn nhất là

Số tròn chục bé nhất là

LIVEWORKSHEETS