ใบงานคณิตศาสตร์ ชั้นประถมศึกษาปีที่ 3

หน่วยการเรียนรู้ที่ 4 รูปเรขาคณิต (มฐ. ค 2.2 ป.3/1)

เรื่อง รูปที่มีแกนสมมาตร

คะแนน

ชื่อ_____ชั้น_____เลขที่ _____

คำชี้แจง : เขียน ✓ ใน ☐ ที่มีแกนสมมาตร และ ✗ ใน ☐ ที่ไม่มีแกนสมมาตร



LIVEWORKSHEETS

ใบงานคณิตศาสตร์ ชั้นประถมศึกษาปีที่ 3

หน่วยการเรียนรู้ที่ 4 รูปเรขาคณิต (มฐ. ค 2.2 ป.3/1)

เรื่อง รูปที่มีแกนสมมาตรหลายแกน

คะแนน

ชื่อ_____ชั้น_____เลขที่ _____

เติมคำตอบ

1

รูปที่กำหนดให้เป็นรูป .....

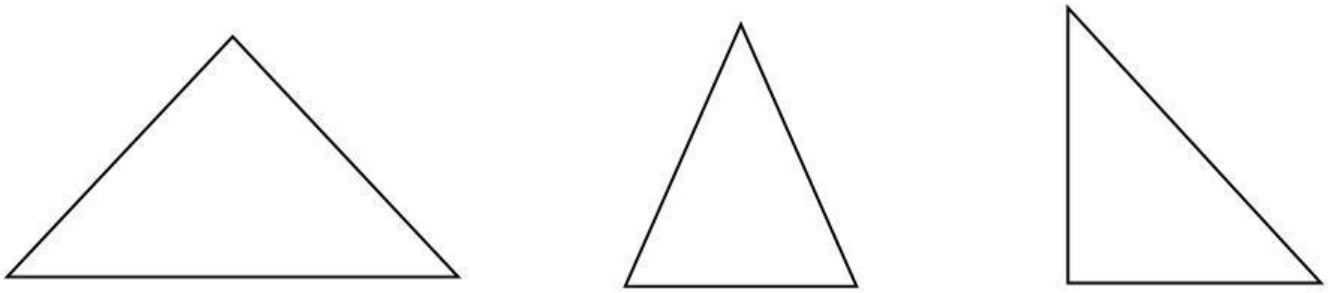

มีแกนสมมาตร _____ แกน มีแกนสมมาตร _____ แกน มีแกนสมมาตร _____ แกน

2

รูปที่กำหนดให้เป็นรูป .....

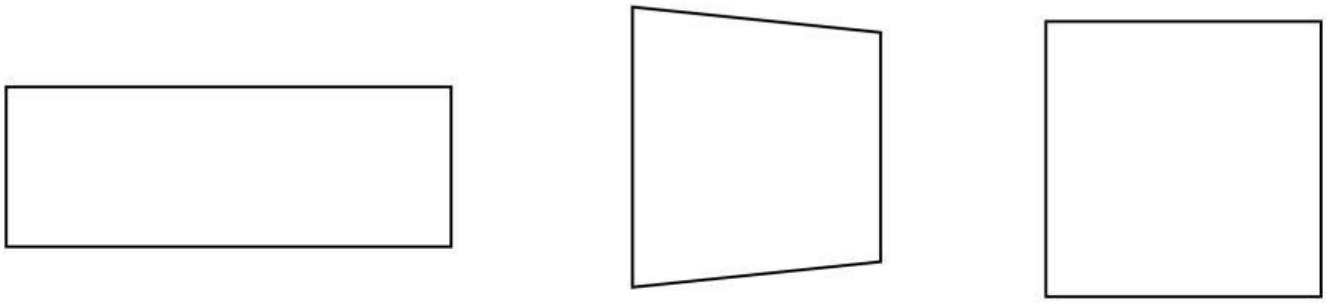

มีแกนสมมาตร _____ แกน มีแกนสมมาตร _____ แกน มีแกนสมมาตร _____ แกน

3

รูปที่กำหนดให้เป็นรูป .....

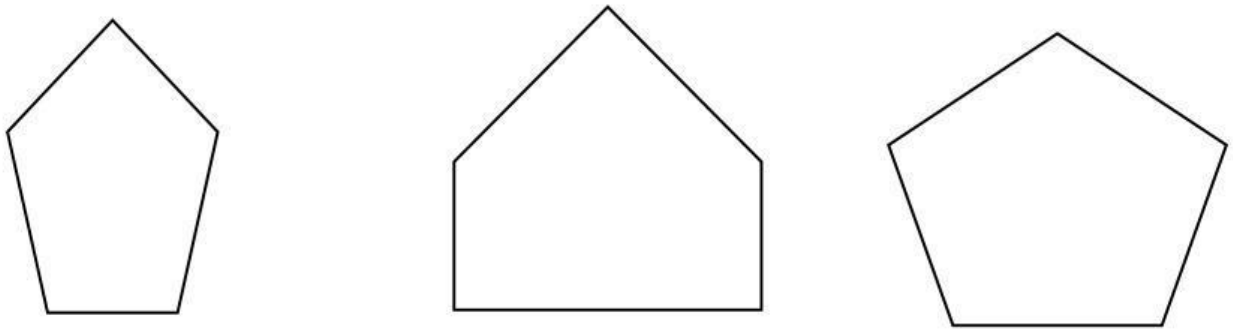

มีแกนสมมาตร _____ แกน มีแกนสมมาตร _____ แกน มีแกนสมมาตร _____ แกน

LIVEWORKSHEETS

ใบงานคณิตศาสตร์ ชั้นประถมศึกษาปีที่ 3

หน่วยการเรียนรู้ที่ 4 รูปเรขาคณิต (มฐ. ค 2.2 ป.3/1)

เรื่อง รูปที่มีแกนสมมาตรหลายแกน

คะแนน

ชื่อ_____ชั้น_____เลขที่ _____

รูปต่อไปนี้มีแกนสมมาตรกี่แกน



LIVEWORKSHEETS

ใบงานคณิตศาสตร์ ชั้นประถมศึกษาปีที่ 3

หน่วยการเรียนรู้ที่ 4 รูปเรขาคณิต (มฐ. ค 2.2 ป.3/1)

เรื่อง การประยุกต์ใช้รูปที่มีแกนสมมาตร (1)

คะแนน

ชื่อ_____ชั้น_____เลขที่ _____

ตัดแต่ละข้อออกมา พับตามรอยประ และตัดตามรอยขีดอีกรอบ และนำไปเติมให้เป็นรูปที่สวยงามในใบงานถัดไป

1

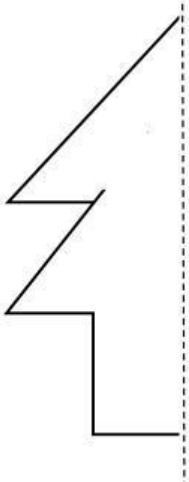

2

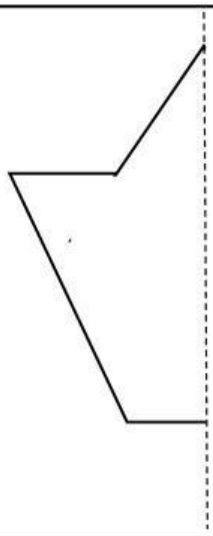

3

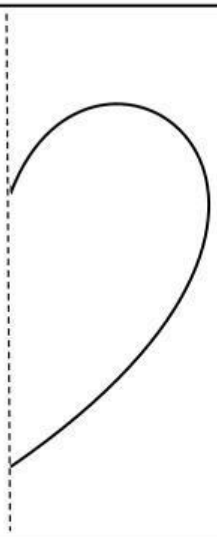

4

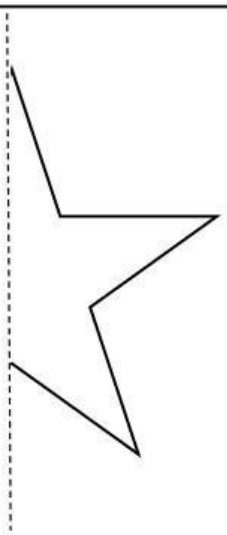

5

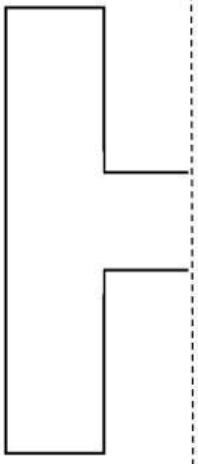

6

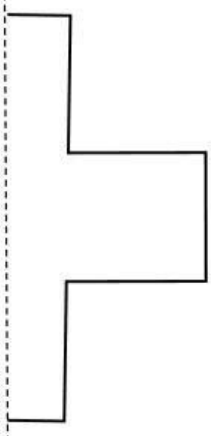

LIVEWORKSHEETS

ใบงานคณิตศาสตร์ ชั้นประถมศึกษาปีที่ 3

หน่วยการเรียนรู้ที่ 4 รูปเรขาคณิต (มฐ. ค 2.2 ป.3/1)

เรื่อง การประยุกต์ใช้รูปที่มีแกนสมมาตร (2)

คะแนน

ชื่อ_____ชั้น_____เลขที่ _____

นำภาพที่ตัดได้จากใบงานก่อนหน้า มาติดและเติมให้เป็นรูปที่สวยงาม

LIVEWORKSHEETS

ใบงานคณิตศาสตร์ ชั้นประถมศึกษาปีที่ 3

หน่วยการเรียนรู้ที่ 4 รูปเรขาคณิต (มฐ. ค 2.2 ป.3/1)

เรื่อง การประยุกต์ใช้รูปที่มีแกนสมมาตร (3)

คะแนน

ชื่อ_____ชั้น_____เลขที่ _____

วาดรูปอีกข้างหนึ่งของแกนสมมาตร

1

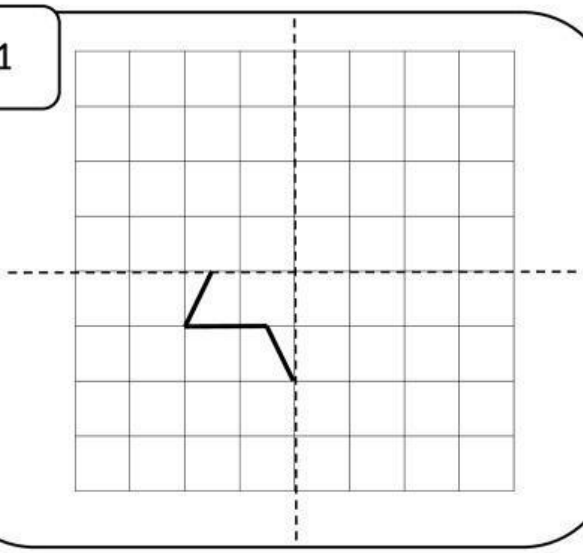

2

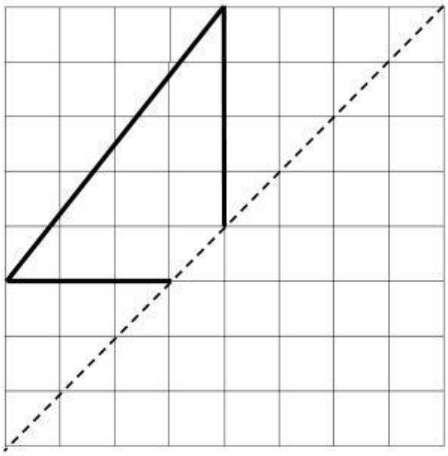

3

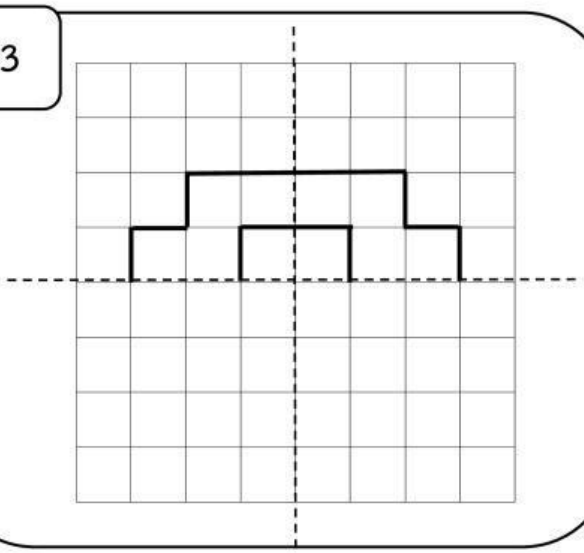

4

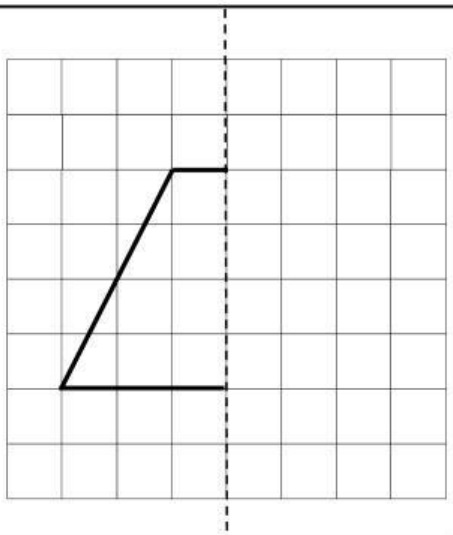

5

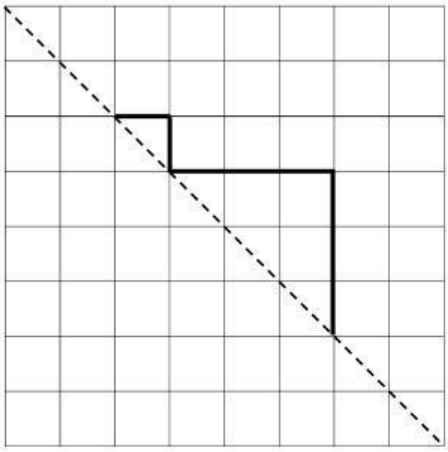

6

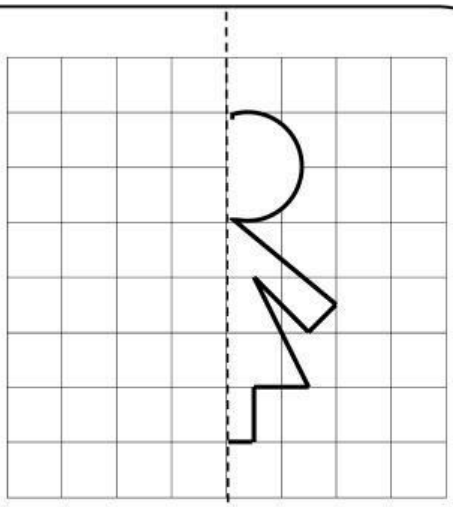

LIVEWORKSHEETS